GÉOGRAPHIE ILLUSTRÉE

Cours moyen

PAR

LES FRÈRES DES ÉCOLES CHRÉTIENNES

Deuxième édition de la *Géographie Intermédiaire Illustrée.*

MONTRÉAL
50, RUE COTE, 50.

BIBLIOTHÈQUE-MARIE-A.-LÉO LEYMARIE DE

Enregistré conformément à l'Acte du Parlement du Canada, en l'année mil huit cent soixante et seize, par P. L. LESAGE, au bureau du Ministre de l'Agriculture.

119510

PRÉFACE.

L'accueil favorable qu'ont obtenu nos précédentes publications géographiques, et le désir que nous ont manifesté plusieurs directeurs de maisons d'éducation de voir compléter notre œuvre, nous ont fait entreprendre la rédaction de ce nouvel ouvrage, destiné principalement aux élèves du cours moyen.

Il comprend deux parties bien distinctes, qui ont, chacune leur importance particulière : celle que les élèves doivent confier à leur mémoire, ou le *texte*, et les *exercices de démonstration sur les cartes*, qui peuvent aussi, en grande partie, faire l'objet de devoirs écrits.

Le *texte*, quoique peu étendu, renferme un *tout* complet et à peu près tout ce qu'il importe aux élèves de cette catégorie de savoir : situation des pays, accidents géographiques, populations, croyances, gouvernements, etc.

Comme c'est assez l'usage aujourd'hui pour tous les livres didactiques, nous ne joignons pas de questions à chaque leçon du texte, afin de ne pas trop augmenter l'étendue du volume et partant son prix : ce qui serait inévitable si l'on voulait faire un questionnaire complet ; mais pour jouir des avantages de la méthode sans en assumer les défauts, nous donnons, comme *types*, les questions relatives aux leçons XXe, XXIe et XXIIe. Il suffira de changer quelques mots à ces questions pour les adapter aux leçons suivantes.

De même que dans les autres ouvrages de ce genre, nous suivons partout dans celui-ci un même ordre systématique et rationnel, de sorte que l'élève possédant bien une leçon, éprouvera peu d'embarras pour les leçons subséquentes.

La *démonstration sur les cartes* offre un moyen facile et agréable de se graver dans l'esprit le contenu des cartes, sans fatiguer la mémoire par des nomenclatures aussi ennuyeuses à apprendre que faciles à oublier. L'expérience de tous les jours prouve l'excellence de cet exercice, tant par l'attrait que trouvent les élèves à ce genre d'étude, que par les progrès qui en résultent ; le succès accompagne presque toujours une étude qui plaît ; or le but auquel doit tendre tout ouvrage didactique n'est-il pas de donner les moyens d'apprendre avec célérité et plaisir ?

Il ne faut cependant pas oublier que les *exercices cartographiques* sont le moyen par excellence d'apprendre la géographie et constituent les devoirs les plus profitables. Des *cahiers de cartographie* ont été préparés dans le but de faciliter l'exécution de ces devoirs.

L'ouvrage se termine par quelques tableaux de nomenclatures et de statistiques. Ces tableaux donnent plusieurs renseignements qu'on ne trouve souvent qu'après beaucoup de recherches. Avec quelques explications du maître, l'élève apprendra facilement la manière de les utiliser.

Inutile de faire l'éloge de nos cartes ; un simple coup d'œil suffira pour en faire connaître l'excellence. Celles des provinces de la Confédération ont été gravées spécialement pour ce livre.

TABLE DES MATIÈRES.

NOTIONS PRÉLIMINAIRES.

Leçon I. La Terre ; sa forme 1
— II. Mouvements de la Terre 2
— III. Représentation de la Terre 2
— IV. Orientation 2
— V. Les cercles terrestres 3
— VI. — — — — 4
— VII. Zones. Longitude et latitude 4
— VIII. Nomenc. géog.—Les terres 4
— IX. — — Relief du sol 5
— X. — — Les eaux 5
— XI. — — Les eaux continent. 6
— XII. Les trois règnes 7
— XIII. Races humaines. Religions 8
— XIV. Géographie politique 8
— XV. Industrie et commerce 9

LE GLOBE.

— XVI. Divisions générales 9
— XVII. Climats et productions naturelles 10
— XVIII. Superficies et populations 10
— XIX. Commerce intercontinental 11

AMERIQUE septentrionale.

— XX. Géog. générale de l'Amérique du N. 11
— XXI. Groënland et Islande. — Alaska.—Canada 13
— XXII. Canada 13
— XXIII. Province de Québec 15
— XXIV. Ontario 17
— XXV. Nouvelle-Ecosse 18
— XXVI. Nouveau-Brunswick 18
— XXVII. Ile-du-Prince-Edouard 18
— XXVIII. Province de Manitoba 19
— XXIX. Colombie-Anglaise 19
— XXX. Territoires du Nord-Ouest 19
— XXXI. Terre-Neuve 20
— XXXII. Etats-Unis 20
— XXXIII. Mexique 21
— XXXIV. Amérique centrale. — Antilles 22

AMERIQUE méridionale.

— XXXV. Géog. générale de l'Amérique du S. 23
— XXXVI. Colombie.—Vénézuéla.—Guyanes 24
— XXXVII. Brésil 25
— XXXVIII. Equateur.—Pérou 25
— XXXIX. Bolivie.—Chili 26
— XL. La Plata.—Paraguay.—Uruguay 26, 27

EUROPE.

— XLI. Géographie générale de l'Europe 27
— XLII. — — — 28
— XLIII. Empire britannique.—Royaume-Uni de Grande-Bretagne et d'Irlande.—Angleterre 29, 30
— XLIV. Ecosse.—Irlande 30
— XLV. Danemark.—Suède et Norvège 31
— XLVI. Russie 31
— XLVII. France 32
— XLVIII. Belgique.—Hollande 32, 33
— XLIX. Allemagne 33
— L. Autriche-Hongrie 33
— LI. Suisse 34
— LII. Espagne.—Portugal 34, 35
— LIII. Italie 35
— LIV. Monténégro, Serbie, Roumanie et Bulgarie 35
— LV. Turquie.—Grèce 36

ASIE.

— LVI. Géographie générale de l'Asie 36
— LVII. Turquie d'Asie 38
— LVIII. Arabie et Perse 38
— LIX. Hindoustan.—Indo-Chine française.—Royaume de Siam 39
— LX. Empire chinois 39
— LXI. Japon 40
— LXII. Sibérie.—Turkestan, Afghanistan et Béloutchistan 40

AFRIQUE.

— LXIII. Géographie générale de l'Afrique 40
— LXIV. Etats barbaresques 42
— LXV. Egypte.—Abyssinie 42
— LXVI. Afrique orientale 42
— LXVII. Afrique australe 43
— LXVIII. Afrique occidentale 43
— LXIX. Afrique centrale 43

OCEANIE.

— LXX. Géographie générale de l'Océanie 44
— LXXI. Malaisie 45
— LXXII. Australasie 45
— LXXIII. Polynésie 45

CARTES avec EXERCICES en regard.

Mappemonde 47
Amerique septentrionale 48
Canada 51
Province de Québec 52
Ontario 55
Nouvelle-Ecosse, Nouveau-Brunswick et Ile-du-Prince-Edouard 56
Manitoba 59
Nord-Ouest 60
Etats-Unis 63
Antilles 64
Amérique méridionale 67
Europe 68
Iles-Britanniques 71
Irlande 72
France 75
Europe centrale et méridionale 76
Asie 79
Afrique 80
Océanie 83
Palestine 84

COMTÉS, VILLES, etc.

Province de Québec 86
Ontario 91
Nouveau-Brunswick 96
Nouvelle-Ecosse et Ile-du-Prince-Edouard 97
Colombie-Britannique, Manitoba et territoires du Nord-Ouest 99
Etats-Unis 100

GÉOGRAPHIE ILLUSTRÉE.

COURS MOYEN.



NOTIONS PRÉLIMINAIRES.

LEÇON I.

LA TERRE ; SA FORME.

1. *Qu'est-ce que la* Géographie ? — La **Géographie** est la description de la Terre et des peuples qui l'habitent.

2. *Qu'est-ce que la* Terre ? — La **Terre** est une *planète*, car elle tourne autour du Soleil, dont elle reçoit la lumière et la chaleur[1].

3. *Quelle est la* forme *de la Terre ?* — La **forme** de la Terre est celle d'une sphère légèrement aplatie aux pôles, et renflée à l'Equateur.

4. On sait que la Terre est ronde, 1° parce que plusieurs fois des vaisseaux en ont fait le tour ; 2° parce que la forme de l'ombre que la Terre fait sur la Lune, dans une éclipse de Lune, est toujours ronde ; 3° parce que, de loin sur terre ou sur mer, un observateur aperçoit d'abord le sommet des montagnes, des clochers, des mâts de navires. Lorsque un vaisseau s'éloigne, sa coque disparaît la première, puis les voiles et le pavillon. Lorsqu'il s'approche le contraire a lieu.

5. *Quelle est la longueur de la* circonférence *de la Terre ?* — La **circonférence**[1] de la Terre est d'environ 25,000 milles.

6. *Quelle est la longueur du* diamètre *de la Terre ?* — Le **diamètre**[2] de la Terre a près de 8,000 milles.

---

1 Les planètes principales sont : *Mercure, Vénus,* la *Terre, Mars, Jupiter, Saturne, Uranus* et *Neptune.*

1 La *circonférence* de la Terre est la même chose qu'un *grand cercle* (voir no 34 ci-après).

2 *Diamètre,* ligne qui traverse la Terre en passant par le centre.

LEÇON II.

MOUVEMENTS DE LA TERRE.

7. *Combien la Terre a-t-elle de* mouvements *principaux ?* — La Terre a deux **mouvements** principaux : l'un de *rotation* sur elle-même, et l'autre de *révolution* autour du Soleil.

8. *Dans quel sens la Terre tourne-t-elle sur elle-même ?* — La Terre tourne sur elle-même de l'ouest à l'est (voir nos 20 et 21).

9. *En combien de temps la Terre tourne-t-elle sur elle-même ?* — La Terre tourne sur elle-même en 24 heures [1].

10. *En combien de temps la Terre fait-elle sa révolution autour du Soleil ?*—La Terre fait sa révolution autour du Soleil en 365¼ jours environ, c'est ce qui constitue l'*année solaire.*

11. *Que produit la* rotation *de la Terre sur elle-même ?* — La **rotation** de la Terre produit la succession du *jour* et de la *nuit.*

12. *Que produit la* révolution *de la Terre autour du Soleil ?*—La **révolution** de la Terre autour du Soleil produit les *saisons*, qui sont : le printemps, l'été, l'automne et l'hiver.

LEÇON III.

REPRESENTATION DE LA TERRE.

13. *Comment* représente-t-on *la Terre ?* — On **représente** la Terre par le *globe terrestre artificiel* et par les *cartes géographiques.*

14. *Qu'est-ce qu'un* globe terrestre artificiel ?—Un **globe terrestre artificiel** est une boule qui représente la Terre, et sur laquelle sont dessinés les accidents géographiques : continents, mers, etc.

15. *Qu'est-ce qu'une* carte géographique ? — Une **carte géographique** est un plan qui représente la Terre ou l'une de ses parties.

1 On appelle ce mouvement *diurne* (du latin *dies*, jour), parce qu'il s'accomplit en un *jour.*

16. *Qu'est-ce qu'une* mappemonde ? — Une **mappemonde** est une carte qui représente la Terre coupée en deux demi-boules ou *hémisphères*[1], l'un appelé *oriental*, l'autre *occidental.*

LEÇON IV.

ORIENTATION.

17. *Comment détermine-t-on la position des différents lieux de la surface de la Terre ?* — On détermine la position des différents lieux de la surface de la terre au moyen des *points cardinaux de l'horizon* et des *cercles.*

18. *Qu'est-ce que* l'horizon sensible ?—L'**horizon sensible** est un cercle qui borne notre vue au loin et semble réunir le ciel et la terre.

Chaque point du globe a son horizon particulier.—Voir *h i*, fig. 4.

19. *Quels sont les* points cardinaux ?—Les **points cardinaux** sont le *nord*[2], le *sud*, l'*est* et l'*ouest.*

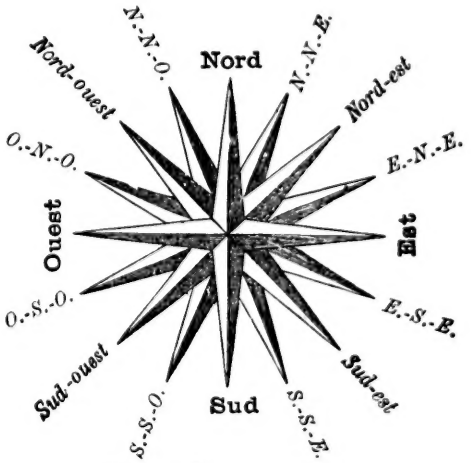

Fig. 3.—Rose des vents.

20. *Quel côté est l'*est ?—L'**est**, *levant* ou *orient* est le côté où le Soleil paraît se lever.

1 *Hémisphère* veut dire *demi-sphère.*

2 *Nord* ou *septentrion*, à cause des sept étoiles de la Grande Ourse qu'on y observe la nuit.

21. *De quel côté est l'*ouest ?—L'**ouest**, *couchant* ou *occident*, est du côté où le Soleil se couche.

22. *Où est le* sud ?—Le **sud**, ou *midi*, est du côté où est le Soleil à l'heure de midi.

23. *Où est le* nord ? — Le **nord**, ou *septentrion*, est du côté opposé au midi.

24. *Qu'appelle-t-on* points collatéraux ? — On appelle **points collatéraux** quatre points situés entre les points cardinaux.

25. *Quels noms les points collatéraux prennent-ils ?*—Les points collatéraux prennent les noms des deux points cardinaux entre lesquels ils se trouvent : **nord-est, nord-ouest, sud-est, sud-ouest.**

26. *Qu'est-ce que* s'orienter ? — **S'orienter,** c'est reconnaître la direction de l'*orient* et des autres points cardinaux.

27. *Que faut-il faire pour s'orienter ?* — Pour s'orienter il faut se placer le côté droit vers le lieu du Soleil levant (supposé connu) ; alors on a l'est à droite, l'ouest à gauche, le nord en face et le sud derrière soi.

On obtient ce résultat, le matin, en tournant le côté droit au Soleil ; le soir, le côté gauche ; à midi, en lui tournant le dos ; en tout temps, en regardant la direction de l'aiguille de la *boussole*, laquelle tourne toujours une de ses extrémités vers le nord.

28. *Où sont placés les quatre points cardinaux sur les cartes géographiques ?* — Sur les cartes géographiques, le nord est en haut, l'est à droite, le sud en bas, et l'ouest à gauche.

LEÇON V.

LES CERCLES TERRESTRES.

29. *Qu'est-ce que l'*axe *de la Terre ?*—L'**axe** de la Terre est la ligne imaginaire autour de laquelle elle fait sa rotation.

30. *Qu'est-ce que les* pôles ? — Les **poles** sont les deux extrémités de l'axe de la terre.

31. *Comment appelle-t-on les* pôles ?—L'un s'appelle le **pole nord** ou arctique [1] ; l'autre, le **pole sud** ou antarctique.

32.—*Combien y a-t-il de sortes de* cercles terrestres ? — Il y a deux sortes de cercles terrestres : les **grands** et les **petits cercles.**

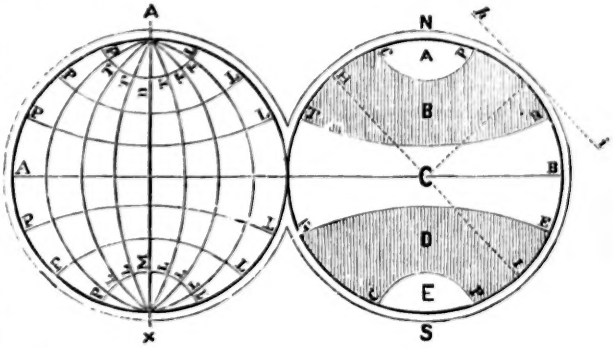

Fig. 4.— CERCLES ET ZONES.

HI, horizon rationnel.	CP, cercles polaires.
hi, horizon sensible.	PL, parallèles.
AB, équateur.	N, pôle nord.
A, pôle nord.	S, pôle sud.
X, pôle sud.	C, zone torride.
AX, axe de la Terre.	B, zone tempérée septent.
MD, LT, méridiens.	D, zone tempérée méridion.
TR, tropique du Cancer.	A, zone glaciale septent.
TE, tropique du Capricorne.	E, zone glaciale méridion.

33. *Comment se divise chaque cercle ?*—Chaque cercle se divise en 360 *degrés ;* le degré se divise en 60 *minutes*, et la minute, en 60 *secondes.*

Les degrés et leurs divisions s'indiquent au moyen de signes ; ainsi, 20° 15′ 30″ signifie 20 *degrés*, 15 *minutes*, 30 *secondes.*

34. *Qu'appelle-t-on* grands cercles terrestres ?— On appelle **grands cercles terrestres** ceux qui partagent la Terre en deux parties égales, appelées *hémisphères.*

35. *Quels sont les principaux grands cercles terrestres ?* — Les principaux grands cercles terrestres sont le *méridien* et l'*équateur.*

---

1 *Arctique*, à cause de la Grande Ourse (*arctos*), qui est dans cette direction ; *antarctique*, opposé à l'arctique.

LEÇON VI.

LES CERCLES TERRESTRES (*suite*).

36. *Qu'est-ce qu'un* méridien ?—Un **méridien** est un grand cercle qui passe par les pôles et partage la Terre en deux hémisphères, l'un vers l'orient, appelé *hémisphère oriental ;* l'autre vers l'occident, appelé *hémisphère occidental.*

Il y a une infinité de méridiens, autant qu'il y a de points sur l'équateur.—Le méridien (du latin *media*, milieu ; *dies*, jour) est ainsi nommé parce que, pour un lieu quelconque, il est *midi* lorsque le Soleil est parvenu au méridien de ce lieu.

37. *Qu'appelle-t-on* premier méridien ? — On appelle **premier méridien** celui qui sert de point de départ dans le calcul des longitudes (V. no 50).

Un méridien quelconque peut être pris comme *premier méridien.* Celui qui passe par *Greenwich*, près de Londres, est celui que la plupart des géographes adoptent comme premier méridien.

38. *Qu'est-ce que l'*équateur ? — L'**équateur** est un grand cercle qui est partout également éloigné des pôles, et partage la Terre en deux hémisphères, l'un au nord, appelé *hémisphère boréal ;* l'autre au sud, appelé *hémisphère austral.*

39. *Quels sont les* petits cercles ? — Les **petits cercles** sont : les *tropiques*, les *cercles polaires* et les *parallèles.*

40. *Qu'est-ce que les* tropiques ?—Les **tropiques** sont deux cercles parallèles à l'équateur et qui en sont éloignés de 23° 28′.

41. *Quel nom particulier donne-t-on à chaque tropique ?*—Le tropique du nord s'appelle *tropique du Cancer*, et celui du sud, *tropique du Capricorne.*

42. *Qu'appelle-t-on* cercles polaires ?—On appelle **cercles polaires** deux petits cercles parallèles à l'équateur, et éloignés des *pôles*, de 23° 28′. Celui du nord s'appelle *cercle polaire arctique*, et celui du sud, *cercle polaire antarctique.*

43. *Qu'appelle-t-on* parallèles ? — On appelle **parallèles** des petits cercles tracés dans le même sens que l'équateur. Ils servent à déterminer les degrés de *latitude*, comme les méridiens servent à déterminer les degrés de *longitude.*

LEÇON VII.

ZONES. LONGITUDE ET LATITUDE.

44. *Qu'appelle-t-on* zones ? — On appelle **zones** les bandes ou divisions circulaires faites sur le globe terrestre par les tropiques et les cercles polaires.

45. *Combien y a-t-il de* zones ? — Il y a **cinq** zones, qui tirent leur nom de leur climat général : une *zone torride*, deux *zones tempérées* et deux *zones glaciales.*

46. *Où se trouve la* zone torride ?—La **zone torride** se trouve entre les deux tropiques.

47. *Où les* zones tempérées *sont-elles situées ?*—Les **zones tempérées** sont comprises entre les tropiques et les cercles polaires.

48. *Où les* zones glaciales *sont-elles situées ?*—Les **zones glaciales** entourent les pôles et sont circonscrites par les cercles polaires.

49, *Qu'est-ce que la* longitude *d'un lieu ?* — La **longitude** d'un lieu est la distance en degrés du méridien de ce lieu au premier méridien.

50. *Ces degrés se comptent-ils tous dans la même direction ?* — On compte habituellement 180° de **longitude orientale,** à l'*est* du premier méridien, et 180° de **longitude occidentale,** à l'*ouest.*

51. *Qu'appelle-t-on* latitude *d'un lieu ?* — On appelle **latitude** d'un lieu la distance en degrés de ce lieu à l'équateur.

52. *Comment compte-t-on les degrés de latitude ?* —Les degrés de latitude se comptent sur le méridien. On en compte 90 *au nord*, et 90 *au sud.*

LEÇON VIII.

NOMENCLATURE GEOGRAPHIQUE.— LES TERRES.

53. *La surface de la Terre est-elle uniforme ?*— La **surface de la Terre** n'est pas uniforme ; elle présente un grand nombre d'*accidents géographiques.*

54. *Qu'appelle-t-on* accidents géographiques ? — On appelle **accidents géographiques,** des

parties de la surface terrestre de formes différentes et portant des noms particuliers, tels que : montagnes, rivières, etc.

55. *Comment s'appellent les différentes* étendues de terre ? — Les différentes **étendues de terre** s'appellent *continents, îles, archipels, presqu'îles, isthmes, caps, côtes, montagnes, volcans, plaines, plateaux, vallées, déserts*, etc.

56. *Qu'est-ce qu'un* continent ?— Un **continent** est une grande étendue de terre non interrompue par des mers. Ex. : l'Amérique.

57. *Qu'est-ce qu'une* île ?—Une **ile** est une étendue de terre entièrement entourée d'eau et moins grande qu'un continent. Ex. : l'île d'Orléans.

58. *Qu'est-ce qu'un* archipel ?—Un **archipel** est une réunion d'îles plus ou moins nombreuses. Ex. : les Antilles.

59. *Qu'est-ce qu'une* presqu'île ? — Une **presqu'ile,** ou **péninsule,** est une étendue de terre que les eaux n'entourent pas entièrement. Ex. : la Nouvelle-Ecosse.

60. *Qu'est-ce qu'un* isthme ? — Un **isthme** est une langue de terre réunissant deux terres plus étendues. Ex. : l'isthme de Panama.

61. *Qu'est-ce qu'un* cap ?—Un **cap** est une pointe de terre qui s'avance dans les eaux. Ex. : le cap Sable, au sud de la Nouvelle-Ecosse.

62. *Qu'appelle-t-on* côte ? — La **cote**, c'est le rivage de la mer.

63. Un **écueil**, ou **récif**, est un rocher à fleur d'eau, contre lequel les vaisseaux vont quelquefois se briser.

EXERCICES CARTOGRAPHIQUES.

L'élève dessinera les accidents géographiques qui ont fait l'objet de la leçon. Il en tirera les sujets de son manuel, de son imagination ou, mieux encore, de la géographie locale.

LEÇON IX.

RELIEF DU SOL.

64. *Qu'est-ce qu'une* montagne ? — Une **montagne** est une éminence considérable du sol, s'élevant au-dessus des parties environnantes.

65. *Qu'entend-on par l'*altitude *d'une montagne ?* — Par l'**altitude** d'une montagne, on entend sa hauteur au-dessus du niveau de la mer ou d'un autre niveau déterminé.

66. *Qu'est-ce qu'une* chaîne de montagnes ?—Une **chaine de montagnes** est un ensemble de montagnes qui se touchent par la base.

67. *Qu'est-ce qu'une* colline ? — Une **colline** est une petite montagne. Ex. : la partie ouest du mont Royal.

68. *Qu'est-ce qu'un* volcan ?—Un **volcan** est un gouffre, situé le plus souvent sur le haut d'une montagne, et qui, de temps en temps, lance des matières embrasées.

69. *Qu'est-ce qu'une* plaine ?—Une **plaine** est un grand espace de terrain d'égal niveau ou légèrement ondulé.

70. *Qu'est-ce qu'un* plateau ? — Un **plateau** est une plaine élevée, plus ou moins accidentée.

71. *Qu'est-ce qu'une* vallée ?—Une vallée est une dépression du sol, ou espace creux, entre deux lignes de hauteurs. Elle est ordinairement parcourue par un cours d'eau. Ex. : la vallée du St-Maurice.

72. *Qu'est-ce qu'un* désert ?—Un **désert** est une étendue de terre stérile et inhabitée.

EXERCICES. – Comme à la leçon VIII.

LEÇON X.

LES EAUX.

73. *Comment s'appellent les différentes* étendues d'eau ?—Les différentes **étendues d'eau** s'appellent *océans, mers, golfes, baies, détroits, rades, rivières*, etc.

74. *Qu'est-ce que l'*Océan ? — L'**Océan** est l'ensemble des eaux salées qui entourent les continents.

75. *Qu'est-ce qu'une* mer ? — Une **mer** est une partie de l'Océan située dans les terres. Ex. : la Méditerranée.

76. *Qu'appelle-t-on* golfe ? — On appelle **golfe** une partie de mer s'avançant dans les terres. Ex. : le golfe St-Laurent.

77. *Qu'est-ce qu'une* baie ?—Une **baie** est un petit golfe. Ex. : la baie de Fundy.



LES ACCIDENTS GÉOGRAPHIQUES.—VUE.

1, Iles, archipel ; 2, Presqu'île ; 3, Isthme ; 4, Caps ; 5, 6, Côte ; 7, Montagnes ; 8, Colline ; 9, Volcan ; 10, Plaine ; 11, Plateau ; 12, Vallée ; 13, Océan ; 14, Mer ; 15, Golfe ; 16, Baie ; 17, Port ; 18, Détroit ; 19, Fleuve ; 20, Rivières ; 21, Affluent ; 22, Confluent ; 23, Sources de rivières ; 24, 24*a*, Embouchures de rivières ; 25, Chute ; 26, Lac ; 27, Canal.

78. *Qu'est-ce qu'une* rade ? — Une **rade** est une étendue de mer avancée dans les terres, et où les vaisseaux peuvent se mettre à l'abri des vents et tenir à l'ancre.

79. *Qu'est-ce qu'un* port ? — Un **port** est un endroit du rivage de la mer ou d'un fleuve propre à recevoir les vaisseaux.

80. *Qu'est-ce qu'un* détroit ?—Un **détroit** est un bras de mer qui a peu de largeur et qui unit deux parties de mer. Ex.: le détroit de Belle-Isle.

EXERCICES.—Comme à la leçon VIII.

LEÇON XI.

LES EAUX CONTINENTALES.

81. *Qu'est-ce que le* bassin d'une mer *ou* d'un fleuve ?—Le **bassin d'une mer** ou d'**un fleuve** est l'ensemble des terres qui versent leurs eaux dans cette mer ou dans ce fleuve. Ex.: le bassin du fleuve St-Laurent.

82. *Qu'est-ce qu'un* versant ? — Un **versant** est une partie de bassin. Ex. : le fleuve St-Laurent a un versant au nord et un au sud.

83. *Qu'est-ce qu'une* ligne de partage des eaux ?— Une **ligne de partage des eaux** est la séparation de deux bassins. Ex. : les montagnes de la Gaspésie forment la *ligne de partage* entre le St-Laurent et la baie des Chaleurs.

84. *Qu'est-ce qu'un* fleuve ? — Un **fleuve** est un cours d'eau considérable qui se jette dans la mer. Ex. : le fleuve St-Laurent.

85. *Qu'est-ce qu'une* rivière ? — Une **rivière** est un cours d'eau généralement moins considérable qu'un fleuve.

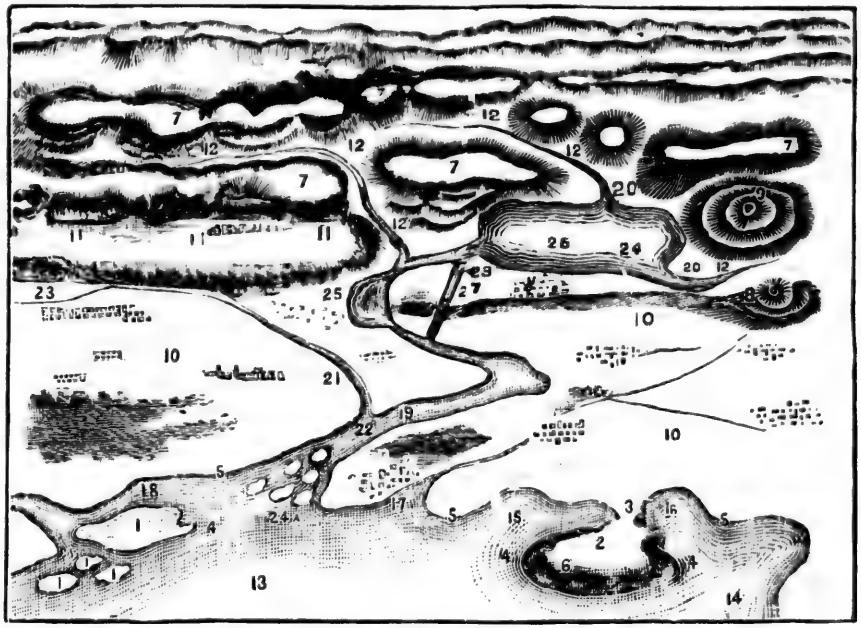

LES ACCIDENTS GÉOGRAPHIQUES.—CARTE.

86. *Qu'est-ce qu'un* affluent ?— Un **affluent** est un cours d'eau qui se jette dans un autre. Ex. : le Richelieu est un affluent du St-Laurent.

87. *Qu'appelle-t-on* confluent ?—On appelle **confluent** l'endroit où deux cours d'eau se réunissent. Ex. : la ville de Sorel est située au confluent de la rivière Richelieu et du St-Laurent.

88. *Qu'appelle-t-on* source *et* embouchure *d'un cours d'eau ?*— La **source** d'un cours d'eau est l'endroit où il commence ; son **embouchure**, l'endroit où il se jette dans la mer ou dans un autre cours d'eau.

89. *Qu'appelle-t-on* haut *et* bas *d'un cours d'eau ?* —Le **haut** ou l'**amont** d'un cours d'eau est la partie située vers sa source ; le **bas** ou l'**aval** est la partie située vers son embouchure.

90. *Qu'entend-on par la* rive droite *et la* rive gauche *d'un cours d'eau ?* — Par la **rive droite** et la **rive gauche** d'un cours d'eau, on entend les terrains placés à la droite ou à la gauche d'une personne qui se trouverait en bateau, le visage tourné dans le sens du courant.

91. *Qu'est-ce qu'une* cataracte ?—Une **cataracte, chute** ou **cascade,** est le saut que font les eaux d'une rivière lorsqu'elles tombent d'une hauteur assez grande. Ex. : la cataracte de Niagara.

92. *Qu'est-ce qu'un* lac ? — Un **lac** est une étendue d'eau dormante renfermée dans les terres. Ex.: le lac St-Jean.

93. *Qu'est-ce qu'un* étang ? — Un **étang** est un petit lac.

94. *Qu'est-ce qu'un* canal ?—Un **canal** est une espèce de rivière creusée par les hommes pour y faire passer les bateaux.

EXERCICES.—Voir à la fin de la leçon VIII.

LEÇON XII.

LES TROIS REGNES.

95. *Comment se divisent tous les corps qui constituent notre globe, et que l'on trouve à sa surface ?—*

Tous les corps qui constituent notre globe, et que l'on trouve à sa surface se divisent en trois groupes, que l'on appelle *règnes :* le *règne animal,* le *règne végétal,* le *règne minéral.*

96. *Que comprend le* règne animal ?—Le **règne animal** comprend les *animaux,* c'est-à-dire les êtres qui ont la *vie* et la *sensibilité.*

97. *Qu'entend-on par* animaux domestiques ?—Les **animaux domestiques** sont ceux qui vivent avec l'homme : le cheval, le bœuf, l'âne, le mouton, le chien, le chat, etc.

98. *Que comprend le* règne végétal ?—Le **règne végétal** comprend les *plantes* ou *végétaux,* c'est-à-dire les êtres qui ont la vie, mais non la sensibilité.

99. *Quels êtres comprend le* règne minéral ?—Le **règne minéral** comprend les *minéraux,* c'est-à-dire les corps qui sont dépourvus de la vie.

100. Les principaux **métaux** sont : l'or, le plus précieux de tous ; le fer, le plus utile ; le platine, l'argent, le mercure, le cuivre, l'étain, le plomb, etc.

LEÇON XIII.

RACES HUMAINES. RELIGIONS.

101. *En combien de* races *peut-on diviser les hommes ?* — On peut diviser les hommes en cinq



RACES : 1, race blanche ; — 2, race jaune ; — 3, race brune ; — 4, race rouge ; — 5, race noire.

races : la *race blanche,* la *race jaune,* la *race brune,* la *race rouge,* la *race noire.*

102. *Dites quels sont les caractères qui distinguent la* race blanche ?—La **race blanche** a la peau blanche, le visage ovale, les cheveux longs et doux.

103. *Qu'est-ce qui distingue la* race jaune ? — La **race jaune** a la peau jaunâtre, le visage quadrangulaire, les cheveux raides. Ex. : les Chinois.

104. *Enumérez les principaux caractères de la* race brune ? — La **race brune** a la peau brune, le nez court, la bouche grande.

105. *Dites quels sont les caractères de la* race rouge ?—La **race rouge** a la peau rougeâtre ou cuivrée et le nez saillant. Elle comprend les *Indiens* de l'Amérique.

106. *Qu'est-ce qui distingue la* race noire ? — La **race noire** a la peau noire et les cheveux crépus. Ceux qui appartiennent à cette race sont appelés *nègres.*

107. *Qu'est-ce que le* christianisme ?—Le **christianisme** est la religion qui reconnaît Notre-Seigneur Jésus-Christ comme son fondateur. Elle se divise en trois branches : 1° l'Église *catholique,* la seule véritable ; 2° l'Église *protestante ;* 3° l'Église *grecque* schismatique.

108. *Qu'est-ce que le* judaïsme ? — Le **judaisme** est la religion des Juifs qui attendent encore le Messie.

109. *Qu'est-ce que le* mahométisme ?—Le **mahométisme** est une religion fondée par un faux prophète nommé *Mahomet.*

110. *En quoi consiste le* paganisme ?— Le **paganisme** consiste à rendre aux créatures l'hommage souverain qui n'est dû qu'à Dieu.

LEÇON XIV.

GEOGRAPHIE POLITIQUE.

111. *Qu'est-ce qu'un* état ?—Un **état** est un pays soumis à un même gouvernement et formant une individualité politique.

112. *Qu'est-ce qu'une* province ?—Une **province** est une subdivision d'un état.

113. *Qu'est-ce qu'un* comté ?—Un **comté** est une des subdivisions d'une province.

114. *Qu'appelle-t-on* gouvernement?—On appelle **gouvernement** l'autorité souveraine qui régit un état.

115. *Quand dit-on d'un gouvernement qu'il est une* monarchie? — On dit qu'un gouvernement est une **monarchie** lorsqu'il a pour chef un souverain, ordinairement héréditaire, appelé empereur, roi, etc.

116. *Qu'est-ce qu'une* république? — Une **république** est un état qui n'a qu'un chef temporaire et électif, nommé *président*.

117. *Qu'est-ce qu'une* confédération?—Une **confédération** est un ensemble d'états associés pour la défense de leurs intérêts communs.

118. *Qu'appelle-t-on* capitale *d'un pays?* — On appelle **capitale** d'un pays la ville où siège le gouvernement.

LEÇON XV.

INDUSTRIE ET COMMERCE.

119. L'**agriculture**, ou *industrie agricole*, est l'art de cultiver la terre, pour lui faire produire : 1° les *plantes alimentaires* pour l'homme et les animaux domestiques : céréales, vignes, betteraves, fourrages, etc.; 2° les *plantes industrielles :* lin, chanvre, coton, canne ou betterave à sucre, etc.

En outre, le cultivateur élève les *animaux domestiques* qui sont les plus utiles, soit par leur travail, soit par la viande, le lait, etc., qu'ils lui procurent.

120. L'**industrie** proprement dite est l'art par lequel l'homme approprie à ses besoins les matières premières que lui offre la nature.

121. Le **commerce** consiste dans l'échange des produits naturels ou industriels opéré dans le but de faire un bénéfice quelconque.

122. On distingue le commerce *intérieur*, qui se fait entre les parties d'un même pays ; — et le commerce *extérieur*, qui se fait avec l'étranger.

123. Le commerce extérieur comprend l'*exportation* ou la sortie des marchandises du pays, et l'*importation* ou l'entrée d'autres marchandises dans le pays.

LE GLOBE.

LEÇON XVI.

DIVISIONS GENERALES.

124. La surface du globe présente des **terres**, ou parties solides, et des **mers**, ou grandes masses d'eau salée.

125. Les terres se composent de *trois continents* et d'un grand nombre d'îles. Elles forment les *cinq parties du monde.*

126. Les **trois continents** sont : l'*ancien continent*, le *nouveau continent* et l'*Australie.*

127. Les **cinq parties du monde** sont :

L'*Europe*, l'*Asie*, l'*Afrique*, qui forment l'ancien contient ;

L'*Amérique*, ou le nouveau continent ;

L'*Océanie*, formée de l'Australie et d'un grand nombre d'îles.

128. L'**Océan** est l'ensemble des eaux salées qui couvrent les trois quarts du globe. On le divise en *cinq océans* particuliers, qui sont :

1° L'*océan Atlantique*, situé entre l'Europe, l'Afrique et l'Amérique.

2° L'*océan Pacifique* ou *Grand océan*, situé entre l'Asie et l'Amérique.

3° L'*océan Indien*, situé entre l'Afrique, l'Asie et l'Australie.

4° L'*océan Glacial arctique*, au N. de l'Europe, de l'Asie et de l'Amérique.

5° L'*océan Glacial antarctique*, au S. de l'Afrique et de l'Amérique.

EXERCICES CARTOGRAPHIQUES.

Dessiner, sur le papier, sur l'ardoise ou au tableau noir, les deux hémisphères, et indiquer les trois continents, les cinq parties du monde et les cinq océans.

LEÇON XVII.

CLIMATS ET PRODUCTIONS NATURELLES.

129. Le **climat** d'une contrée est l'état habituel de son atmosphère[1] sous le rapport de la *chaleur* et de l'*humidité*.

130. La zone la plus **chaude** est la zone torride 2.

Dans les zones glaciales, le froid est extrême.

Le climat des zones tempérées est plus doux et plus agréable que celui des autres zones. Cependant, près des limites, il se rapproche plus ou moins de celui de la zone avoisinante.

131. Le climat de la zone torride rend les **hommes** faibles, languissants et indolents.

Sous les zones tempérées, l'homme jouit d'une meilleure santé, est plus actif, plus heureux, plus civilisé que partout ailleurs.

Le climat des zones glaciales le rend stupide et inactif ; il empêche ordinairement le développement de son corps et de son intelligence.

132. Les **animaux** de la zone torride sont nombreux, et, en général, très féroces ; les serpents et les autres reptiles sont très venimeux. Les oiseaux y sont très beaux.

Les **végétaux** y ont une croissance luxuriante ; les fruits y sont délicieux et rafraîchissants, et les fleurs très belles.

Les principaux *fruits* des pays chauds sont : les oranges, les ananas, les bananes, la muscade, les figues, les olives, etc.

133. Les animaux des zones tempérées sont moins féroces et généralement plus utiles que ceux des autres zones.

Les végétaux sont plus utiles, les fruits plus substantiels et les grains pour la nourriture de l'homme et des animaux, plus abondants que sous les autres climats.

Les principaux *fruits* des zones tempérées sont : le raisin, les pommes, les poires, les pêches, les prunes, etc.

134. La zone glaciale du nord produit quantité d'animaux à fourrures, mais la végétation y est à peu près nulle.

135. Le *café* vient de l'Arabie et des régions tropicales de l'Amérique ;—le *thé* vient principalement de la Chine et des Indes.

Le *coton* et le *sucre* de canne viennent principalement des régions tropicales, et du sud des Etats-Unis.—Le *sucre* de betterave est un produit des pays tempérés.

1 *Atmosphère*, masse d'air qui entoure la Terre.

2 *Torride* veut dire *brûlant*.

LEÇON XVIII.

SUPERFICIES ET POPULATIONS.

136. La **superficie** du Canada est de 3,400,000 milles carrés, ce qui égale presque la superficie de l'Europe.

Les terres réunies de l'Océanie égalent la superficie de l'Europe.

L'Afrique égale trois fois la superficie de l'Europe.

L'Amérique et l'Asie égalent chacune quatre fois la superficie de l'Europe.

137. La **population** totale du globe dépasse 1,400,000,000 d'habitants.

L'Asie compte	environ	810,000,000	d'habitants.
L'Europe "	"	360,000,000	"
L'Afrique "	"	140,000,000	"
L'Amérique	"	130,000,000	"
L'Océanie "	"	40,000,000	"

138. **Les grands états.** — Les états les plus importants du globe, comparés sous divers rapports, se rangent dans l'ordre suivant :

1° *Pour la superficie*, l'empire britannique et l'empire russe, l'un et l'autre deux fois plus vastes que l'Europe ; — l'empire chinois, qui est plus étendu que l'Europe ; — les Etats-Unis[1], le Canada et le Brésil, qui égalent presque l'Europe.

2° *Pour la population absolue*, l'empire chinois (400,000,000 d'habitants, près d'un tiers du monde), l'empire britannique (370,000,000), l'empire russe (110,000,000 d'habitants).

139. **Villes.**—Les villes les plus populeuses du monde sont : *Londres*, qui renferme plus de 4 millions d'habitants ; *Paris*, plus de 2 millions ; *New-York* et *Canton* (en Chine), plus de $1\frac{1}{2}$ million.

140. **Races.**—La *race blanche* peuple surtout l'Europe, l'Amérique, l'Asie occidentale et l'Afrique septentrionale.

La *race jaune* peuple l'Asie orientale.

La *race noire*, ou nègre, peuple l'Afrique centrale et une partie de l'Océanie.

La *race brune* peuple les Indes et la Malaisie.

1 Y compris le territoire d'Alaska.

La *race rouge* comprend les sauvages d'Amérique.

141. **Religion.** — Les peuples de race blanche connaissent généralement le vrai Dieu.

Le *christianisme* domine en Europe et en Amérique ; le *mahométisme*, dans l'Asie occidentale et l'Afrique septentrionale.— Le *judaïsme* est professé par les Juifs.—Les autres races sont généralement *païennes*.

LEÇON XIX.

COMMERCE INTERCONTINENTAL.

142. **L'Europe,** renfermant les populations les plus actives et les plus intelligentes du globe, produit, malgré sa faible étendue relative, une somme de marchandises bien supérieure à celle des autres parties du monde, et elle provoque la presque totalité du mouvement commercial intercontinental.

143. **L'Amérique,** par ses nouvelles populations blanches d'origine européenne, riche d'ailleurs en produits naturels, se place au second rang.

144. **L'Asie,** au troisième rang, à cause de ses populations chinoises et indiennes, nombreuses et laborieuses.

145. **L'Océanie,** au quatrième rang, par ses colonies hollandaises et anglaises.

146. **L'Afrique** se place au dernier rang, tant à cause de ses conditions physiques défavorables, que par sa population clairsemée, barbare ou sauvage.

147. Les **échanges** s'établissent surtout entre l'Angleterre (pour plus des deux tiers), la France, l'Allemagne, la Belgique, la Hollande, d'une part ; — les Etats-Unis, le Canada, les Indes, la Chine et l'Australie anglaise, d'autre part.

148. **Ports de commerce.** — Les principaux ports de commerce du monde, par ordre d'importance, sont : *Londres*, *Liverpool* et *New-York*, qui font chacun pour plus de 600 millions d'affaires ; — *Hambourg*, en Allemagne ;— *Marseille*, *le Hâvre*, en France ;—*Anvers*, en Belgique.

AMÉRIQUE SEPTENTRIONALE.

LEÇON XX.

GEOGRAPHIE GENERALE DE L'AMERIQUE DU NORD.

Population, 90,000,000 d'habitants.
Superficie, 8,800,000 milles carrés.

149. **Bornes.** — L'Amérique septentrionale est bornée, au N., par l'océan Glacial arctique ;—à l'est, par l'Atlantique ;—au sud, par la mer des Antilles et l'océan Pacifique ;—à l'ouest, par l'océan Pacifique.

150. **Iles.**—Dans l'océan Glacial, le *Groënland* ;—dans l'Atlantique, l'*Islande*[1], *Terre-Neuve*, *Prince-Edouard*, les *Antilles*, dont les principales sont : *Cuba*, *Haïti*, *Porto-Rico* et *la Jamaïque*.

151. **Presqu'iles.**—La *Nouvelle-Ecosse*, dans le Canada ;—la *Floride*, dans les Etats-Unis ;— le *Yucatan* et la *Vieille-Californie*, dans le Mexique.

152. **Caps.**—Le cap *Farewell*, au sud du Groënland ; —le cap *Race*, à l'est de Terre-Neuve ; — les caps *Cod*, *Hatteras* et *Sable*, sur la côte orientale des Etats-Unis ;—et les caps *San-Lucas* et *Mendocino*, sur leur côte occidentale.

153. **Montagnes.**—Les *Alléghanys*, dans l'est ;—les montagnes *Rocheuses*, dans l'ouest.—Dans le Mexique, se trouve le *Popocatepetl*, volcan actif.

154. Une grande *plaine* occupe le centre de l'Amérique du Nord, depuis l'océan Glacial jusqu'au golfe du Mexique, et depuis les monts Alléghanys, à l'est, jusqu'aux montagnes Rocheuses, à l'ouest.

155. **Mers.**— Les mers qui baignent l'Amérique septentrionale sont : au N., l'*océan Glacial arctique*, formant la mer ou baie de *Baffin* ;— à l'E., l'*Atlantique*, formant la mer ou baie d'*Hudson* ; la mer, ou le golfe, du *Mexique*, et la mer des *Antilles* ;—à l'O., l'océan *Pacifique*.

156. **Golfes.** — Le golfe du *Saint-Laurent*, dans l'Atlantique ;—celui de *Californie*, dans le Pacifique.

157. **Détroits.** — Le détroit de *Behring*, entre l'Alaska et la Sibérie ;— le détroit de *Belle-Isle*, entre Terre-Neuve et le Labrador ;— le détroit de la

---

1 On considère souvent l'Islande comme appartenant à l'Europe.

ANIMAUX DE L'AMÉRIQUE SEPTENTRIONALE.

1, Elan (*orignal*) ; 2, ours blanc, ours noir ; 3, bisons ; 4, cerfs du Canada (*chevreuils*) ; 5, chevaux ; 6, biche ; 7, loups ; 8, dindons ; 9, raton laveur ; 10, alligator ; 11, tortue ; 12, castors ; 13, renard ; 14, aigle ; 15, hiboux.

Floride, entre la Floride et l'île de Cuba ; — le détroit de *Yucatan*, entre le Yucatan et l'île de Cuba.

158. **Rivières.**—Les principaux fleuves sont :

1° Dans le versant de l'océan Glacial, le *Mackenzie ;*

2° Dans le versant de l'Atlantique, le *Saint-Laurent ;*—le *Mississipi* et ses affluents, l'*Arkansas*, l'*Ohio* et le *Missouri*, qui arrosent les Etats-Unis ; —le *Rio Grande del Norte*, qui sépare le Mexique des Etats-Unis.

159. **Lacs.** — On remarque les lacs *des Ours* et *des Esclaves*, et les grands lacs *Supérieur*, *Michigan*, *Huron*, *Erié*, *Ontario*, les plus beaux du monde.

160. **Climat.** — Le climat américain est *varié*, généralement plus *humide* et *moins chaud* que celui des parties de l'Europe situées sous les mêmes latitudes.

161. **Productions.**—L'Amérique est riche en *minéraux*, dont les principaux sont : la houille, le pétrole, le fer, le cuivre, le plomb, le mercure, l'or, l'argent, etc.— Parmi les produits *végétaux*, on peut citer : le froment, l'avoine, la pomme de terre, les légumineuses, le tabac et les nombreuses essences de bois de ses immenses forêts.— Outre les *animaux* domestiques, bœufs, vaches laitières, chevaux, porcs, moutons, etc., on y trouve encore l'élan, le bison[1], le castor, le caïman, etc.

162. **Note historique.** — Le continent américain fut découvert par *Christophe Colomb*, qui fit voile de Palos, en Espagne, et arriva, après une longue navigation, à San-Salvador, une des îles Lucayes, le 12 octobre 1492.

L'Amérique est ainsi nommée d'après *Américc Vespuce*, qui y vint peu après Colomb. Elle est aussi appelée le *nouveau monde*, à cause de sa récente découverte.

163. **Races humaines.** — La nouvelle population américaine est principalement formée de *blancs*, originaires d'Europe ; on y rencontre aussi quelques milliers de *rouges*, ou Indiens indigènes, et des *nègres*, originaires d'Afrique.

164. **Religion.** — La religion dominante est le *protestantisme ;* mais il y a un grand nombre de *catholiques*.

165. **Divisions.**—Les contrées de l'Amérique du Nord sont : le Groënland et l'Islande, le territoire d'Alaska, le Canada, Terre-Neuve, les Etats-Unis, le Mexique, les états de l'Amérique centrale et les Antilles.

1 Le bison a maintenant presque complètement disparu.

EXERCICES CARTOGRAPHIQUES.

Faire le croquis de la carte de l'Amérique du Nord, et y indiquer tels détails demandés : contrées, îles, fleuves, montagnes, etc.

QUESTIONNAIRE.

a) Quelle est la *population* de l'Amérique du Nord ?

b) Quelle est sa *superficie* ?

149. Quelles sont ses *bornes* ?

150, 151. Quelles sont les principales *îles* de l'Amérique septentrionale ?—Quelles sont ses principales *presqu'îles* ?

152, 153. Quels sont ses *caps*, ses *montagnes* ?

154. Quelle *plaine* remarquable y a-t-il dans l'Amérique du Nord ?

155, 156, 157. Nommez les *océans*, les *mers*, les *golfes* et les *détroits* de l'Amérique du Nord.

158, 159. Nommez ses *lacs* et ses *rivières*.

160. Dites un mot de son *climat*.

161. Quelles sont ses *productions* naturelles les plus importantes ?

162. Par qui et quand l'Amérique a-t-elle été *découverte* ?—D'où lui vient son *nom* ?

163. A quelles *races* appartiennent les habitants de l'Amérique septentrionale ?

164. Quelles *religions* professent-ils ?

165. Quelles sont les *contrées* de l'Amérique du Nord ?

LEÇON XXI.

GROENLAND ET ISLANDE.

Population, 80,000 h ,—dont 70,000 pour l'Islande.
Superficie, environ 600,000 milles carrés.

166. Ces deux îles appartiennent aux Danois. Elles sont extrêmement froides et stériles ; elles ne servent guère qu'à la *pêche*.

ALASKA.

167. Le territoire d'Alaska, 30,000 habitants, appartient aux Etats-Unis, qui l'ont acheté de la Russie ; le froid y est excessif. On s'y livre surtout à la *pêche*.

CANADA.

Population, 4,833,000 habitants.
Superficie, 3,456,000 milles carrés.

168. **Bornes.**—Le **Canada**[1] est une vaste contrée comprise entre l'océan Glacial et les Etats-Unis, entre l'océan Atlantique et l'océan Pacifique.

169. **Iles.**—Les principales îles du Canada sont : les îles du *Cap-Breton*, du *Prince-Edouard*, et *Anticosti*, dans le golfe de Saint-Laurent ; — l'île *Vancouver*, dans le Pacifique.

170. **Presqu'île, Isthme.** — La presqu'île la plus remarquable est celle de la *Nouvelle-Ecosse* ;—elle est reliée au continent par l'isthme de *Chignectou*.

171. **Montagnes.** — Les principales chaînes de montagnes sont : les monts *Rocheux*, dans l'O. ; — les *Laurentides*, au N. de la vallée du Saint-Laurent,—et les monts *Notre-Dame*, au S. de cette vallée.

172. **Golfes** et **Baies.** — Les mers, ou baies, d'*Hudson* et de *Baffin*, le golfe de *Saint-Laurent* et la baie de *Fundy* sont les plus considérables.

173. **Détroits.**—Il faut citer ceux d'*Hudson*, de *Davis* et de *Belle-Isle*.

174. **Fleuves.**—Les principaux fleuves sont : le *Mackenzie*, dans le nord, le *Saint-Laurent*, dans l'est, et le *Fraser* dans l'ouest.

175. **Lacs.** — On doit citer surtout les lacs *des Ours* et *des Esclaves*, dans le Nord-Ouest ;—le lac *Winnipeg*, dans Manitoba,—et les lacs *Supérieur*, *Huron*, *Erié*, *Ontario*, qui s'écoulent par le Saint-Laurent.

176. **Aspect.**—L'aspect du Canada est très pittoresque et très intéressant. Deux chaînes de montagnes, de peu d'élévation, bordent, à une certaine distance, une partie du Saint-Laurent.

Presque toutes les rivières ont des *chutes* intéressantes, parmi lesquelles on distingue celle de Niagara, véritable merveille de la nature.

177. **Climat.** — Le climat du Canada est *excessif* ; les hivers sont rigoureux, et les chaleurs sont grandes en été. Il est *humide* sur les côtes ; ailleurs, il est *sec*. C'est un des plus salubres du monde.

LEÇON XXII.

CANADA (*suite*).

178. **Habitants.** — Les habitants du Canada peuvent être classés comme suit : *Canadiens-fran-*

1 On dit souvent la *Puissance du Canada* ; le mot *Puissance* est ici un terme impropre.

CATARACTE DE NIAGARA.

çais, habitant particulièrement la province de Québec ; *Anglais*, *Irlandais*, *Ecossais*, quelques milliers de *nègres* et d'*Indiens*.

179. **Langues.**—Les Canadiens-français parlent le *français*, les autres parlent l'*anglais*.

180. **Religions.**— Plus de deux millions des habitants professent la religion *catholique*, les autres appartiennent à diverses sectes *protestantes*

181. **Education.** — L'éducation au Canada ne le cède en rien à celle des autres pays du monde ; un grand nombre d'établissements soit religieux, soit laïques, répandent l'instruction dans tout le pays avec un zèle digne de louanges.

182. **Gouvernement.** — Le gouvernement du Canada est *monarchique constitutionnel*[1].

Il est formé : 1° d'un *gouverneur général*, nommé par le souverain d'Angleterre, qu'il représente, et assisté des *ministres*, qu'il choisit dans le parti politique le plus fort et qui constituent son *Conseil privé* ;

2° D'un *Sénat*, dont les membres sont nommés à vie par le gouverneur général ;

3° d'une *Chambre des communes*, dont les membres sont élus par le peuple tous les cinq ans.

Il y a 81 *sénateurs*, dont 24 sont de la province de Québec, et 215 *députés*, dont 65 de la province de Québec.

Le gouvernement *fédéral* ne s'occupe que des intérêts généraux de la Confédération ; chaque province a son gouvernement propre.

183. **Divisions politiques.** — Le Canada est une *confédération* composée des sept *provinces* de Québec, Ontario, la Nouvelle-Ecosse, le Nouveau-Brunswick, la Colombie-Anglaise, Manitoba, l'Ile-du-Prince-Edouard, et des *territoires* du Nord-Ouest.

184. **Villes.** — *Ottawa*, 44,000 habitants, capitale de la Confédération, est agréablement située sur la rive droite de l'Outaouais ; c'est une ville très prospère. Elle a un archevêché et une université catholique ; les édifices du gouvernement fédéral en sont le principal ornement. La chute de la Chaudière, près de la ville, est fort remarquable.

185. Les autres principales villes du Canada sont : *Montréal*, *Toronto*, *Québec*, *Hamilton*, etc. (voir aux leçons suivantes).

186. **Industrie.** — Le Canada est, après les Etats-Unis, le pays le plus actif du nouveau monde pour l'industrie, dont les branches principales sont :

L'*industrie agricole*, la production du froment et de l'avoine, etc., l'*élève* du bétail et des porcs, la production du *beurre* et du *fromage* ;

La *chasse des animaux à fourrures* : castor, renard, martre, vison, ours noir, etc., dans le Nord-Ouest ;— la *pêche de la morue*, dans le bas du fleuve ;

1 *Constitutionnel*, c'est-à-dire que le chef de l'État est soumis à certaines lois, dont l'ensemble s'appelle *constitution*.

L'*exploitation des forêts* et *des mines* de houille, de pétrole, d'or, de fer et de cuivre.

Les principaux produits de l'*industrie manufacturière* sont : la farine, le cuir, les chaussures, le papier, les tissus de coton, les machines agricoles et autres.

187. **Commerce.** — Les *voies de communication* intérieure sont surtout le *fleuve* Saint-Laurent, les grands *lacs* et les nombreux *canaux* qui font éviter les rapides du fleuve.

Les *chemins de fer* sont nombreux, surtout le long du fleuve. Le *Pacifique-Canadien* traverse le continent ; le *Grand-Tronc* et l'*Intercolonial* relient les provinces d'Ontario, de Québec, du Nouveau-Brunswick et de la Nouvelle-Ecosse.

188. *Commerce extérieur : Importation* de *tissus* de coton, lainages, thé, sucre, vins de France et articles de mode.

Exportation de bois, de grains et farines, de poisson, huiles et autres produits de pêche, de pelleteries, etc.

189. Les *échanges* se font avec l'Angleterre, les Etats-Unis, les Indes et l'Europe, presque entièrement par la marine anglaise et la marine canadienne.

190. *Ports :* Halifax, Québec, Montréal, Vancouver.

EXERCICES CARTOGRAPHIQUES.

Voir cartes 3, 4 et 5, cahier no 2 des *Exercices cartographiques.*

QUESTIONNAIRE.

a) Quelle est la *population* du Canada ?

b) Quelle est sa *superficie ?*

168. Comment est-il *borné ?*

169. Quelles sont ses principales *îles ?*

170. Quelle *presqu'île* remarquable y trouve-t-on ? — Quel *isthme* la relie au continent ?

171. Quelles sont les principales *chaînes de montagnes* que l'on trouve en Canada ?

172, 173, 174, 175. Nommez les *golfes*, les *baies*, les *détroits*, les *fleuves* et les *lacs* du Canada.

176, 177. Dites un mot de l'*aspect* du Canada et de son *climat.*

178. A quelles nationalités appartiennent ses *habitants ?*

179. Quelles *langues* parlent-ils ?

180. Quelles *religions* professent-ils ?

181. L'*éducation* y est-elle bien répandue ?

182. Quel est son *gouvernement ?*— Comment ce gouvernement est-il constitué ?— De quoi s'occupe-t-il ?

183. Quelles sont les *divisions politiques* du Canada ?

184. Quelle est la *capitale* du Canada ?—Quelle est sa population ?—Où est-elle située ?—Que renferme-t-elle ?

185. Quelles sont les autres principales *villes* du Canada ?

186. L'*industrie* est-elle bien développée au Canada ? — A quelles industries s'y livre-t-on surtout ?

187. Quelles sont les principales *voies de communication* au Canada ?

188. Quelles marchandises le Canada *importe*-t-il ? — Lesquelles *exporte*-t-il ?

189. Avec quels pays et par quelles marines les *échanges* se font-ils ?

190. Quels sont les principaux *ports* du Canada ?

LEÇON XXIII.

PROVINCE DE QUEBEC.

Population, 1,489,000 habitants.
Superficie, 228,900 milles carrés.

191. **Situation.** — La province de Québec occupe les deux versants du fleuve St-Laurent, depuis la province d'Ontario jusqu'à l'Atlantique. Son aspect présente un tableau des plus pittoresques.

192. **Iles.**— Les principales îles de cette province sont celles d'*Anticosti*, d'*Orléans*, de *Montréal* et de *Jésus*, dans le fleuve Saint-Laurent.

193. **Montagnes.**—Les *Laurentides*, au nord, et les *Alléghanys*, au sud, sont les principales chaînes de montagnes. Les Alléghanys contiennent les monts *Notre-Dame*, vers le bas du fleuve.—On trouve aussi quelques montagnes isolées, aux environs de Montréal ; notamment les monts *Royal* et *Belœil.*

194. **Rivières.** — La principale rivière de la province est le *St-Laurent*, qui la traverse dans toute sa longueur ; c'est un des plus beaux fleuves du globe ; ses principaux affluents, au nord, sont l'*Outaouais*, le *St-Maurice* et le *Saguenay* (ce dernier décharge le lac St-Jean) ; ceux du sud sont : le *Richelieu*, le *Saint-François* et la *Chaudière.*

195. **Lacs.**—Les principaux lacs sont : le lac *Saint-Jean* (le plus grand de la Province), dans le nord ;—les lacs *Saint-Pierre*, *Saint-Louis* et *Saint-François*, qui sont des élargissements du Saint-Laurent.

196. **Climat.**—Le climat est sévère pendant l'hiver, mais très agréable pendant l'été et l'automne, et salubre en tout temps.



MONTRÉAL.

197. **Productions.**—Le *sol* est très fertile ; il produit le blé, le maïs, l'avoine, l'orge, etc. Les poiriers, les pommiers, les pruniers et les cerisiers viennent très bien dans le district de Montréal ; les érables, dont on extrait un sucre très estimé, sont en grand nombre dans les forêts.

198. **Habitants.**—Les habitants sont, pour les cinq sixièmes, *Canadiens-français ;* les autres sont Irlandais, Anglais, Ecossais ; il y a, en outre, quelques milliers d'Indiens.

199. **Religion.**—La grande majorité de la population professe la religion *catholique.*

200. **Gouvernement.** — Le gouvernement de la province de Québec ressemble à celui de la Confédération ; il se compose :

1° D'un *lieutenant-gouverneur,* nommé par le gouverneur général du Canada et assisté d'un *conseil* de *ministres ;*

2° D'un *Conseil législatif,* dont les membres, au nombre de 24, sont nommés par le lieutenant-gouverneur ;

3° D'une *Assemblée législative,* dont les membres, au nombre de 73, sont élus par le peuple tous les quatre ans.

Ce gouvernement s'occupe des intérêts particuliers de la Province.

201. **Divisions.**— Le territoire de la province de Québec est divisé en 63 *comtés* (voir p. 86).—On y compte dix *diocèses.*

La division territoriale en comtés sert de base pour les divisions électorale, judiciaire, etc.

202. **Villes.**—*Québec,* 64,000 hab., capitale, est bâtie en partie sur une éminence appelée le Cap-Diamant, d'où elle domine tous les environs. C'est un port de mer et un des principaux entrepôts du commerce du Canada avec l'Angleterre.

203. *Montréal,* 217,000 hab., la plus grande ville du Canada; c'est un port très fréquenté des vaisseaux océaniques et le centre principal du commerce et de l'industrie du pays.

204. *Saint-Henri,* 14,000 hab., et *Sainte-Cunégonde,* 10,000 hab., faubourgs de Montréal ;

Hull, 11,000 hab., ville manufacturière ;

Sherbrooke, Trois-Rivières, Saint-Hyacinthe, chacune au-dessus de 7,000 hab., évêchés ;

Lévis et *Sorel,* 7,000 hab. chacune.

205. **Industrie.**—Outre la *culture* de la terre et la production du beurre et du fromage, on se livre à l'exploitation des *forêts,* à celle des *mines* de fer, près de Trois-Rivières et de Hull, d'or, dans la Beauce, de cuivre, dans le comté de Mégantic, etc., et à la *pêche,* surtout à celle de la morue et du hareng, dans le bas du fleuve.

206. **Voies de communication.**—Outre le *Saint-Laurent* et ses *canaux,* le *Pacifique-Canadien,* le *Grand-Tronc* et l'*Intercolonial,* il faut encore citer, parmi les principales voies de communication, le *Richelieu,* qui relie la province aux Etats-Unis, et les chemins de fer *Québec-Central,* qui va de Lévis à Sherbrooke, et *Québec-Lac-Saint-Jean,* qui va de Québec au lac Saint-Jean.



LES GRANDS LACS ET LE ST-LAURENT, JUSQU'A LA CATARACTE DE MONTMORENCY.

1, Lac Supérieur (profondeur, 1000 pieds) ; 2, lac Huron (prof., 900 pds) ; 3, lac Erié (prof., 200 pds) ; 4, lac Ontario (prof., 500 pds) ; 5, cataracte de Niagara (167 pds de haut) ; 6, rapides ; 7, Laurentides ; 8, Cap-Diamant (400 pds de haut) ; 9, cataracte de Montmorency (250 pds de haut) ; 10, niveau de l'Ocean. – L'échelle des hauteurs est beaucoup exagérée.

LEÇON XXIV.

ONTARIO.

Population, 2,114,000 habitants.
Superficie, 220,000 milles carrés.

207. La province d'*Ontario* est située entre celles de Québec et de Manitoba ; elle s'étend des grands lacs jusqu'à la baie James. Sa *surface* est faiblement ondulée.

208. Les principales **rivières** d'Ontario sont : le *Saint-Laurent* supérieur, l'*Outaouais*, la *Grande* rivière et le *Thames*.

209. Les **lacs** *Supérieur*, *Huron*, *Erié* et *Ontario*, avec le fleuve St-Laurent, forment la plus grande étendue d'eau douce qu'il y ait sur le globe. Ces lacs sont surtout remarquables par la limpidité de leurs eaux et par les tempêtes auxquelles ils sont sujets C'est entre les lacs Erié et Ontario que se trouve la fameuse *chute de Niagara*.

210. La province d'Ontario, jouit d'un **climat** plus doux que celui de la province de Québec, parce qu'elle est plus au sud que cette dernière.

211. La **population** de la province est composée d'Anglais, d'Irlandais, d'Ecossais, de Canadiens-français et de quelques milliers d'Indiens.

212. La religion dominante est le *protestantisme* ; les *catholiques* forment un sixième de la population ; — la langue dominante est l'*anglais*.

213. **Villes.**—*Toronto*, 181,000 habitants, capitale de la province ; ville très florissante, située sur une jolie baie du lac Ontario ; son port est sûr et peut contenir un grand nombre de vaisseaux.

214. *Hamilton*, 49,000 hab.,— *Ottawa*, 44,000 hab., capitale fédérale ;—*London*, 32,000 hab.;— *Kingston* [1], 19,000 hab.

215. **Industrie.**—Les industries d'Ontario sont à peu près les mêmes que celles de la province de Québec. On y trouve du *pétrole* en abondance.

216. **Voies de communication.**— Les grands *lacs*, le *Saint-Laurent* et ses *canaux*, les chemins de fer *Pacifique-Canadien*, *Grand-Tronc* et plusieurs autres lui rendent faciles les communications avec les autres parties du Canada et avec les Etats-Unis.

1 *Kingston*, ancien fort *Cataracoui*.

LEÇON XXV.

NOUVELLE-ECOSSE.

Population, 450,000 habitants.
Superficie, 20,600 milles carrés.

217. La *Nouvelle-Ecosse*, connue autrefois sous le nom d'*Acadie*, est une péninsule située au sud du golfe St-Laurent ; elle est unie au Nouveau-Brunswick par l'*isthme* de Chignectou.

218. Cette province a des côtes très découpées, ce qui fournit à la navigation les plus grands avantages. Ses *rivières* sont peu considérables.

219. Son **climat** est humide, mais moins froid que celui de la province de Québec.

220 La **population** se compose d'Irlandais, d'Ecossais, d'Anglais, d'Acadiens ou descendants des Français, etc. Les trois quarts de la population professent la *religion protestante* ; les autres sont catholiques.

221. **Villes.**—*Halifax*, 39,000 habitants, capitale ; son port est un des plus beaux et des plus commodes de l'Amérique ; elle est la première station américaine de la marine d'Angleterre, et le *terminus* du chemin de fer *Intercolonial*.

222. *Dartmouth* et *Yarmouth*, 6,000 hab. chacune, et *Truro* 5,000 hab., sont les villes les plus peuplées après Halifax.

223. L'**industrie** comprend l'*agriculture*, la *pêche*, la construction des *vaisseaux*, l'exploitation des *mines* d'or et de charbon. Ce dernier se trouve surtout près de Sydney, dans l'île du Cap-Breton, et près de Pictou, sur la côte N.

224. Le **commerce** *exporte* du poisson, du charbon, de l'or, du plâtre, des pommes de terre, etc.; il *importe*, farines, liqueurs, soie, laine, coton et autres marchandises ouvrées.

LEÇON XXVI.

NOUVEAU-BRUNSWICK.

Population, 320,000 habitants.
Superficie, 28,000 milles carrés.

225. Le *Nouveau-Brunswick* est situé au sud-est de la province de Québec, et est uni à la Nouvelle-Ecosse par l'isthme de Chignectou ; il forme un carré irrégulier.

226. Sa surface est en général ondulée. Les plus hautes **montagnes** s'élèvent à peine à 2,000 pieds ; elles sont situées vers le nord-est.

227. La principale **rivière** du Nouveau-Brunswick est la rivière *St-Jean*, qui traverse la province du nord au sud ; excepté la partie moyenne, qui coule de l'ouest à l'est ; elle est navigable jusqu'à Frédéricton ; et se jette dans la baie de Fundy près de St-Jean.

228. Le **climat** du Nouveau-Brunswick est assez semblable à celui de la province de Québec, mais moins froid en hiver.

229. La **population** se compose à peu près comme celle de la Nouvelle-Ecosse. Les *Irlandais* sont les plus nombreux. Les *catholiques* forment plus du tiers de la population.

230. **Villes.**—*Frédéricton*, 6,000 habitants, capitale, est agréablement située sur la rivière St-Jean.

231. *St-Jean*, 39,000 habitants, la ville la plus importante de la province par sa population, sa position et son commerce. — *Moncton*, ville progressive. *Chatham*, évêché.

232. Les **productions** sont celles qui proviennent de l'*agriculture* et des *forêts* ; les pommes de terre sont réputées des meilleures.

233. L'**industrie** y est encore peu développée, mais le **commerce** est assez prospère.

LEÇON XXVII.

ILE-DU-PRINCE-EDOUARD.

Population, 109,000 habitants.
Superficie, 2,000 milles carrés.

234. L'*Ile-du-Prince-Edouard* est la plus petite province de la Confédération, mais la plus peuplée relativement. Elle est située dans le golfe St-Laurent, au nord de la Nouvelle-Ecosse, dont elle est séparée par le *détroit* de Northumberland.

235. Ses côtes présentent plusieurs *baies* profondes, entre autres celles de Hillsborough et de Richmond.

236. Son **climat** est plus tempéré que celui des provinces voisines ; l'atmosphère est généralement exempte de brouillards.

237. La **population** est composée à peu près comme celle de la Nouvelle-Ecosse. Elle est pour une moitié catholique et pour l'autre, protestante.

238. **Ville.** — *Charlottetown*, 11,000 habitants, capitale, bâtie sur la rivière Hillsborough.

239. L'**industrie** consiste dans l'*agriculture*, la *pêche*, la construction des *vaisseaux*. Le **commerce** comprend l'*exportation* des produits de l'île, l'*importation* de marchandises ouvrées et autres objets à l'usage de la vie domestique.

LEÇON XXVIII.

PROVINCE DE MANITOBA.

Population, 152,000 habitants.
Superficie, 74,000 milles carrés.

240. Le *Manitoba*, ainsi nommé à cause du lac du même nom, est situé entre la province d'Ontario et les territoires du Nord-Ouest.

241. La surface de cette province consiste principalement en plaines herbeuses, ou *prairies*, parfaitement unies, et diversifiées par quelques bosquets.

242. Cette province est arrosée par les **rivières** *Rouge*, *Assiniboine* et *Saskatchewan*. Elle renferme les **lacs** *Winnipeg*, *Winnipégosis* et *Manitoba*.

243. Le **climat** y est très rigoureux pendant l'hiver, et la température est très variable.

244. Le **sol** du Manitoba passe pour un des plus propres à l'agriculture.

245. La **population** est composée en partie de *Canadiens-français* et de *métis*, parlant le *français*. La majorité parle l'*anglais* et professe la *religion protestante*.

246. **Villes.**—*Winnipeg*, 25,000 habitants, capitale, est située au confluent de la rivière Assiniboine avec la rivière Rouge ; elle est la métropole du commerce du Nord-Ouest.—*Saint-Boniface*, sur le côté opposé de la rivière Rouge, est la demeure d'un archevêque.

LEÇON XXIX.

COLOMBIE-ANGLAISE.

Population, 98,000 habitants.
Superficie, 380,000 milles carrés.

247. La *Colombie* est située à l'extrémité ouest de la Confédération, entre les montagnes Rocheuses et l'océan Pacifique. L'*île* Vancouver, située au S.-O., fait partie de la province.

248. Cette province est très montagneuse : ses principales **chaines de montagnes** sont : les monts *Rocheux*, à l'est, et les *Cascades*, à l'ouest.

249. La *Colombie*, le *Fraser* et son affluent, le *Thompson*, en sont les principales **rivières.**

250. Le **climat**, en général, y est agréable et salubre ; les froids y sont beaucoup moins grands que dans les autres provinces de la Confédération. L'hiver y est très court, comparativement aux autres contrées situées aux mêmes latitudes.

251. On y trouve beaucoup d'Indiens et de Chinois. La *religion protestante* y domine.

252. **Villes.**—*Victoria*, 17,000 habitants, capitale, est située au sud de l'île Vancouver ; ses environs sont d'une beauté remarquable.—*Vancouver*, 13,600 hab., est la ville la plus considérable après Victoria ; elle est le terminus du *Pacifique-Canadien*.

253. Les *mines* d'or, dont l'exploitation a été jusqu'ici très satisfaisante, les *terres arables*, de très bonne qualité, les *forêts*, remplies de beaux bois de construction, constituent les principales **ressources** du pays.

LEÇON XXX.

TERRITOIRES DU NORD-OUEST.

Population, 99,000 habitants.
Superficie, 2,400,000 milles carrés.

254. Les *territoires du Nord-Ouest* sont une vaste contrée située dans le nord du Canada et s'étendant jusqu'aux limites des terres arctiques.

255. Ce pays est généralement sans montagnes bien remarquables ; mais il renferme une multitude

de **lacs**, dont les principaux sont : les lacs *des Ours*, *des Esclaves*, et d'*Athabaska*.

256. Les principales **rivières** sont : le *Mackenzie* et ses tributaires ; le *Nelson* et la *Saskatchewan*.

257. Le **climat** est excessivement froid et se refuse à toute culture, dans le nord. Il est moins froid dans *les prairies* du sud-ouest, lesquelles sont très propres à la culture. Les *animaux à fourrures* s'y trouvent en grand nombre ; les baies et les rivières sont remplies de *poissons* excellents.

258. Les *Indiens* forment environ un tiers de la **population**.

259. Une partie de ces territoires est partagée en cinq *districts*, nommés *Athabaska*, *Alberta*, *Assiniboia*, *Saskatchewan* et *Keewatin*.

260. Le district de Keewatin est sous la juridiction du lieutenant-gouverneur du Manitoba. Le reste des territoires est administré, au nom du gouvernement fédéral, par un lieutenant-gouverneur, qui réside à *Régina*, dans le district d'Assiniboia.

LEÇON XXXI.

TERRE-NEUVE.

Pop., 200,000 hab. — **Sup.**, 42,000 m. c.

261. L'île de *Terre-Neuve* est située dans le golfe Saint-Laurent. Ses côtes sont découpées par un grand nombre de *baies*.

262. On estime que les **lacs** couvrent un tiers de l'île, mais les *rivières* sont peu considérables.

263. Le **climat** y est moins sujet aux changements que sur le continent ; il est un peu humide, mais salubre.

264. On y trouve des *mines* d'argent, de cuivre, de fer, de plomb, de plâtre, de marbre et de charbon. Il y a une grande quantité de tourbe. L'intérieur de l'île est peu connu.

265. Le grand *banc* de Terreneuve est fort renommé ; il n'y a point de place qui lui soit comparable pour la pêche, surtout celle de la morue.

266. Sa **population** se compose en grande partie d'Irlandais. Près de la moitié sont *catholiques*.

267. Terre-Neuve est une colonie anglaise ; c'est la seule de l'Amérique du Nord qui ait refusé jusqu'ici d'entrer dans la confédération canadienne. Son gouvernement est composé comme celui des provinces canadiennes.

268. Plusieurs cables télégraphiques transatlantiques ont leur point d'attache à *Heart's-Content*, situé près de Saint-Jean.

269. **Ville.**—*Saint-Jean*, 35,000 hab., capitale, est située à l'est, dans la presqu'île d'Avalon ; son port est enfermé entre deux montagnes et d'une entrée difficile.

LEÇON XXXII.

ETATS-UNIS.

Pop., 65,000,000 hab. — **Sup.** 3,010,000 m. c.

270. Les *Etats-Unis* sont une grande contrée de l'Amérique septentrionale ; ils sont situés entre le Canada et le Mexique, et s'étendent de l'océan Atlantique au Pacifique.

271. Entre la chaîne des *Alléghanys* et celles de *Sierra Madré*, des *Cascades* et des monts *Rocheux*, coule le beau **fleuve** *Mississipi-Missouri*, qui traverse tout le pays du nord au sud. Ce fleuve a de nombreux tributaires, dont les principaux sont : la rivière *Rouge*, l'*Arkansas* et l'*Ohio*.

272. Les grands **lacs** canadiens (voir no 175) se trouvent en parties égales sur les Etats-Unis et sur le Canada ; le lac *Michigan* est compris tout entier dans les Etats-Unis.

273. Le **climat** y est naturellement varié : il est très chaud au sud, tempéré au milieu, et très froid au nord, pendant l'hiver.

274. La **population** des Etats-Unis est très variée. Elle se compose d'*Anglais*, d'*Irlandais*, d'*Allemands*, de *Français*, etc. Chacune de ces races a son caractère, ses aptitudes, sa langue et sa religion.

275. On compte, aux Etats-Unis, environ dix millions de *catholiques ;* le reste de la population appartient aux diverses sectes protestantes.

276. La **langue** *anglaise* y est la plus généralement parlée.

277. Le **gouvernement** des Etats-Unis est une *république fédérative*.—Outre le gouvernement fédéral, chaque état a son gouvernement local.

278. Le nombre des *états*, qui était de treize lors de la déclaration de leur indépendance, en 1776, est aujourd'hui de 44. Il y a de plus 6 *territoires* et 1 *district fédéral* (voir p. 100).



LE CAPITOLE.

279. **Villes.**—*Washington*, 230,000 hab., sur le Potomac, capitale fédérale, est une belle et grande ville ; le Capitole en fait le principal ornement.

280. *New-York*, 1,800,000 hab. (1892), à l'embouchure de l'Hudson, est la plus grande ville américaine et l'une des premières villes du monde, par sa population et pour son commerce sur mer et sur terre.

281. *Chicago*, 1,400,000 d'hab. (1892), port sur le lac Michigan, fait un immense commerce de produits agricoles.

282. *Philadelphie*, 1,000,000 d'hab., au sud de New-York ;—*Brooklyn*, 800,000, tout à côté de New-York.

Saint-Louis, sur le Mississipi, *Boston*, au nord et *Baltimore*, au sud de New-York, ont chacune près d'un demi-million d'habitants ;—*San-Francisco*, en Californie, et *la Nouvelle-Orléans*, en Louisiane, en ont chacune environ un quart de million.

283. **Industrie.** — Les Etats-Unis rivalisent avec l'Europe pour l'activité et le progrès dans toutes les branches de l'industrie.

Agriculture. Grâce à une grande variété de climats, les Etats-Unis joignent tous les végétaux des régions tempérées à ceux des pays tropicaux. Il faut citer particulièrement : le froment, le maïs, la canne à sucre, la vigne, l'oranger, le bananier, le pommier, le coton, etc.

Les mines. Ils sont riches en mines de houille, de pétrole, de fer et d'or.

Les fabriques. Ils possèdent beaucoup de *fabriques*, surtout de tissus de coton et de machines de tous genres.

284. **Commerce.**— *Voies de communication* intérieures: le Mississipi, l'Hudson et autres cours d'eau, de nombreux canaux et chemins de fer ; quelques-uns de ces derniers traversent le continent.

285. *Importation* de fourrures et de produits agricoles, du Canada ; de tissus, de sucre, de thé et de café, de l'Europe, des Antilles et de l'Amérique méridionale.

Exportation de coton, de grains et farines, de viandes, de pétrole, etc.

286. **Ports de mer.**—New-York, Boston, la Nouvelle-Orléans, Philadelphie, San-Francisco, Portland.

LEÇON XXXIII.

MEXIQUE.

Pop., 12,000,000 d'hab. — **Sup.**, 700,000 m. c.

287. Le *Mexique* est situé au sud des Etats-Unis, entre l'océan Pacifique et le golfe du Mexique.

288. Il est traversé par la chaîne de *Sierra Madré*

(montagnes mères), qui forme au nord de Mexico un fort beau plateau, si uni qu'une voiture peut parcourir l'espace de 1,400 milles sans obstacles.

289. Le **climat** y est chaud et malsain sur les côtes, et tempéré sur les lieux élevés.

290. La **population** comprend des blancs, des nègres, des Indiens et des métis. Les blancs sont presque tous descendants d'Espagnols et se nomment *créoles*.

291. Le **gouvernement** est *républicain*, et la **religion**, *catholique*. Le pays a souvent été en révolution depuis son émancipation, en 1821.

292. **Villes.** — *Mexico*, 320,000 hab., capitale, est une ville belle et assez commerçante ; elle est située à 8,000 pieds d'altitude, près du lac Tezcuco.

Léon, 130,000 hab.;—*Puébla*, 70,000 habitants.

293. Les **productions** sont : le blé, l'orge, l'avoine, dans les régions tempérées, et tous les fruits tropicaux, dans les régions chaudes.

294. L'**industrie** et le **commerce** sont paralysés par l'anarchie, le brigandage, et aussi par le manque de voies de communication.

LEÇON XXXIV.

AMERIQUE CENTRALE.

Superficie, 200,000 milles carrés.

295. L'*Amérique centrale* est comprise entre le Mexique et l'isthme de Panama. Elle renferme cinq petits états républicains.

296. La **population** est formée, pour les deux tiers, d'Indiens et de métis, et pour un tiers, de blancs espagnols ou de nègres. La religion est le *catholicisme*.

297. **Etats** de l'Amérique centrale :

1° Le **Guatémala**, 1,400,000 hab. ; capitale, *Nouvelle-Guatémala*, 60,000 habitants.

2° Le **Honduras**, 430,000 hab.; capitale, *Téguciglpa*.

3° Le **San-Salvador**, 650,000 hab.; capitale, *San-Salvador*.

4° Le **Nicaragua**, 350,000 hab. ; capitale, *Nicaragua*.

5° Le **Costa-Rica**, 240,000 hab. ; capitale, *San-José*.

298. Les **produits** sont les mêmes que ceux du Mexique. L'acajou et le bois de campêche font une partie considérable de son *commerce*. L'isthme de Panama est traversé par un *chemin de fer ;* c'est la voie de communication entre l'Atlantique et le Pacifique.

LES ANTILLES.

Population totale, 5,300,000 habitants.
Superficie totale, 95,000 milles carrés.

299. Les *Antilles*, ou *Indes Occidentales*, comprennent toutes les îles qui entourent la mer des Caraïbes ou des Antilles. On les divise en *grandes* et en *petites* Antilles.

300. Le **climat** y est chaud et malsain sur les côtes, mais délicieux à l'intérieur. Des ouragans et de violentes tempêtes renversent quelquefois tout sur leur passage et occasionnent de nombreux naufrages.

301. Les **habitants** sont des descendants d'Européens, des nègres, des Indiens et des races mixtes.

302. **Divisions :** 1° Ile d'*Haïti*, divisée en deux républiques indépendantes : la république d'**Haiti ;** capitale, *Port-au-Prince*, 40,000 hab.;— et la république de **Saint-Domingue ;** capitale, *Saint-Domingue*.

2° Iles appartenant à l'*Espagne :* **Cuba,** cap., *la Havane*, 240,000 hab.; **Porto-Rico** (ou Puerto-Rico) cap., *San-Juan*.

3° Iles appartenant à l'*Angleterre :* la **Jamaique,** cap., *Kingston ;* les îles **Bahama** ou Lucayes et **la Barbade.**

4° Iles appartenant à la *France :* **la Martinique** et **la Guadeloupe.**

303. **Industrie** et **commerce.**—L'industrie agricole, et particulièrement *les denrées coloniales*[1] *à exporter :* sucre, café, ananas, bananes, etc., sont la seule préoccupation de la population des Antilles. Les forêts fournissent l'acajou et des bois de teinture.

304. *Importation* de grains et farines, viande, beurre, fromage, etc.

---

1 Par *denrées coloniales*, on entend généralement les produits végétaux exportés par les colonies.

ANIMAUX DE L'AMÉRIQUE MÉRIDIONALE.

1, Porc-épic ; 2, tamanoir (fourmilier) ; 3, lama ; 4, alligator ; 5, tapir ; 6, chinchilla ; 7, cabiai ; 8, couguar ; 9, pécari ; 10, petit tamanoir ; 11, singes ; 12, jaguar ; 13, toucans ; 14, perroquets ; 15, condor ; 16, aigle ; 17, boa ; 18, ocelot ; 19, tatou.

AMÉRIQUE MÉRIDIONALE.

LEÇON XXXV.

GEOGRAPHIE GENERALE DE L'AMERIQUE DU SUD.

Population, 36,000,000 d'habitants
Superficie, 7,000,000 de milles carrés.

305. **Bornes.** — L'Amérique méridionale est bornée, au nord, par la mer des Antilles ; au nord-est et au sud-est, par l'Atlantique ; à l'ouest par le Pacifique.

306. **Iles.** — L'île *Marajo*, dans le delta de l'Amazone ; les îles *Falkland* ou Malouines et de la *Terre-de-Feu*, au sud ; l'*archipel patagonien*, sur les côtes du Chili.

307. **Isthme.**—L'isthme de *Panama*, qui réunit les deux Amériques.

308. **Caps.**—Les caps *Gallinas*, au N. de la Colombie ; *Saint-Roch*, à l'est du Brésil ; *Horn*, au sud ; *Blanco*, sur la côte occidentale.

309. **Montagnes.**— Les principales chaînes de montagnes sont celles des *Andes*, dans l'ouest ; des monts *Parime*, au sud du Vénézuéla, et des monts *Brésiliens*.

Les Andes renferment plusieurs volcans actifs, entre autres le *Chimborazo* et le *Cotopaxi*, dans l'Équateur.

Des ravins profonds et des défilés de montagnes y offrent de grands dangers aux voyageurs, qui souvent ne peuvent les franchir qu'au moyen de ponts de cordes et portés par les Indiens.

310. **Plaines.**— Parmi les plaines que renferme cette partie du monde, on remarque celle de l'*Orénoque*, que l'on nomme *llanos* (ilanoce) ou plaine d'herbes ; celle de l'*Amazone*, *selvas* ou plaine boisée, et celle de *la Plata*, *pampas* ou prairies.

311. **Golfes.**—On remarque les golfes de *Panama* et du *Darien*, dans la Colombie ;— ceux de *Maracaïbo*, dans le Vénézuéla ;— de *Saint-Georges*, dans la Patagonie, — et de *Guayaquil*, dans l'Equateur.

312. **Détroit.** — Le détroit de *Magellan*, entre la Patagonie et la Terre-de-Feu.

313. **Cours d'eau.** — L'Amérique méridionale

est arrosée par l'*Orénoque*, dans le Vénézuéla ; — l'*Amazone*, 4,000 milles, et ses affluents, le *Rio Negro*, la *Madeira*, le *Tapajos*, dans le Brésil ;— par la *Plata* et son affluent, le *Parana*, dans la république Argentine.

314. **Lac.**—Le lac *Titicaca*, dans le Pérou.

315. **Climat.** — Le climat de l'Amérique méridionale est varié, et généralement plus *humide* et *moins chaud* que celui des parties de l'Afrique situées dans les mêmes latitudes.

316. **Productions.**— Les productions d'origine sud-américaine sont : la pomme de terre, la vanille, le maïs, le cacao, le quinquina[1] et le caoutchouc. Le pays produit aussi le sucre, le coton, le café, l'indigo, les ananas, les bananes, etc. Il y a des *mines* d'or, d'argent et de platine. On y trouve aussi le diamant, les rubis et autres pierres précieuses.

317. Les *animaux* les plus remarquables sont : le jaguar, espèce de tigre ; le puma, lion américain ; le fourmilier, le lama, l'alpaca, etc. D'énormes serpents, appelés *boas constricteurs*, infestent les forêts. Un grand nombre d'oiseaux sont remarquables par la beauté de leur plumage.

318. **Races humaines.** — Les habitants de l'Amérique du Sud sont : des blancs, descendants d'Espagnols et de Portugais ; des Indiens, des nègres et des métis. Les Indiens forment plus de la moitié de la population.

319. **Religion.**—La très grande majorité des habitants de l'Amérique du Sud professent la religion *catholique*.

320. **Divisions politiques.** — Les états de l'Amérique méridionale sont : la Colombie, le Vénézuéla, les Guyanes, le Brésil, l'Equateur, le Pérou, la Bolivie, le Chili, l'Argentine, le Paraguay et l'Uruguay.

321. Tous ces états se sont constitués en républiques, à l'exception des Guyanes, qui sont des colonies.

LEÇON XXXVI.

COLOMBIE.

Pop., 4,000,000 d'hab.— **Sup.**, 400,000 m. c.

322. Les *Etats-Unis de Colombie* sont bornés au N. par la mer des Antilles ; à l'E., par le Vénézuéla ; au S., par l'Equateur ; à l'O., par le Grand océan.

323. Le *climat* y est très chaud et malsain sur les côtes, mais il est doux et salubre dans les contrées élevées.

324. Le *sol* y produit le sucre, le café, le coton et les fruits tropicaux ; les productions des régions élevées sont celles des climats tempérés.

325. **Villes.** — *Bogota*, 100,000 hab., capitale, est située vers le centre du pays, à 8,500 pieds au-dessus du niveau de la mer.— Le principal *port* est *Aspinwall* ou Colon, sur l'isthme de Panama.

VENEZUELA.

Pop., 2,300,000 hab.—**Sup.**, 500,000 m. c.

326. Le *Vénézuéla* est situé à l'est des états colombiens ; il consiste en vastes plaines arrosées par l'*Orénoque* et quelques-uns de ses tributaires.

327. **Villes.**—*Caracas*, 75,000 hab., capitale, est située dans une plaine fort élevée.—*La Guayra*, 25,000 hab., est le principal port du Vénézuéla.— *Valencia*, 40,000 hab.

GUYANES.

Pop., 400,000 hab.—**Sup.**, 180,000 m. c.

328. Les *Guyanes* sont situées au sud-est du Vénézuéla et au nord du Brésil. Leurs côtes sont basses, unies, malsaines et sujettes aux inondations. Le sud est montagneux et salubre. L'intérieur est habité par des Indiens.

329. Le *sol* y est extrêmement fertile ; il produit le café, le sucre, le cacao, le coton, le maïs, l'indigo et toutes les espèces de fruits des contrées tropicales.

330. Cette contrée se divise en trois parties, savoir : la **Guyane anglaise** cap., *Georgetown*, 30,000 hab.; la **Guyane hollandaise**, ou *Surinam*, cap. *Paramaribo*, 20,000 hab., et la **Guyane française**, cap., *Cayenne*, 6,000 hab.

---

331. Le **commerce** *intérieur* de ces contrées est très faible.—*Importation* de produits européens : tissus de coton et de soie, vins.— *Exportation* de l'or et du tabac, de la

1 Le *cacao*, dont on fait le chocolat, est la fève ou graine du cacaoyer, espèce d'arbre.—Le *quinquina* est l'écorce dont on retire la *quinine*, substance fébrifuge.

Colombie ; du café, du tabac, du cacao, du Vénézuéla ; du sucre et autres denrées coloniales, des laines et des peaux, des Guyanes.

LEÇON XXXVII.

BRESIL.

Pop., 14,000,000 d'hab.—**Sup.**, 3,200,000 de m. c.

332. Sauf le Chili, tous les états de l'Amérique méridionale confinent aux *Etats-Unis du Brésil*, qui sont bornés à l'est par l'Atlantique.



RÉCOLTE DU CAFÉ.

333. Le *climat* est doux et généralement sain. —Le *sol*, remarquable pour sa fertilité, produit le sucre, le manioc, le blé, le coton, le tabac, le riz et beaucoup de fruits; le Brésil fournit plus de café que toute autre contrée.

334. Il y a des mines d'or et d'argent. Le diamant et les rubis y sont abondants.

335. Les deux tiers de la *population* sont des *blancs* d'origine portugaise ; le reste se compose de nègres, de mulâtres et d'Indiens civilisés ou sauvages.

336. La langue est un composé de portugais et de français. La religion est le *catholicisme*.

337. Le Brésil se divise en 20 *états* ou *provinces*, qui forment une *république fédérative*.

338. **Villes.** — *Rio-de-Janeiro*, 700,000 hab., capitale, est la plus grande ville et le port le plus important de l'Amérique méridionale.

Bahia ou São-Salvador, 160,000 hab., seconde ville de la république, bon port de mer.

Pernambouc, 140,000 hab., port de mer.

339. L'**industrie** manufacturière est peu avancée, mais les cultures et les mines sont importantes.

340. Le **commerce** y est très actif. Le commerce *intérieur* se fait surtout par eau. Rio-de-Janeiro, Bahia et Pernambouc ont des chemins de fer qui pénètrent dans l'intérieur du pays.

Importation d'objets manufacturés, tissus, farines, vins.— *Exportation* de café, coton, sucre, cuirs et peaux, caoutchouc et diamant.

LEÇON XXXVIII.

EQUATEUR.

Pop., 1,200,000 hab.—**Sup.**, 200,000 m. c.

341. L'*Equateur* est borné au N. par la Colombie ; à l'E., par le Brésil ; au S., par le Pérou ; à l'O., par le Pacifique.

342. Le *climat* et les productions y sont les mêmes que dans la Colombie. C'est dans l'Equateur et les contrées voisines que se recueille le quinquina.

343. **Villes.**—*Quito*, 80,000 hab., capitale, est située à 15 minutes seulement de l'Equateur, sur le penchant d'une montagne.—*Guayaquil* en est le principal port de mer.

PEROU.

Pop., 3,000,000 d'hab.—**Sup.**, 450,000 m. c.

344. Le *Pérou* est situé à l'ouest du Brésil et de la Bolivie, et au sud de l'Equateur.

345. La plaine de la côte est sablonneuse, et le *climat* y est très chaud ; jamais il n'y pleut, mais la

rosée y est abondante ; à l'est des montagnes, il pleut durant la moitié de l'année.

346. Les productions sont : le sucre, le coton, le tabac, le maïs, le cacao et surtout le quinquina.

347. Le Pérou était le pays le plus civilisé de l'Amérique méridionale, lorsque les Espagnols en firent la découverte. La soif de l'or poussa Pizarre et ses aventuriers à traiter cruellement l'Inca (le roi) et son peuple afin d'en extorquer ce métal, qu'ils convoitaient avec avidité.

348. **Villes.**—*Lima*, 110,000 hab., capitale, est bâtie à six milles de la côte ; elle a été plusieurs fois détruite par des tremblements de terre.—*Callao* est le principal port de mer du Pérou.— *Cuzco* était la capitale des Incas.

---

349. Il n'y a guère d'**industries** dans ces pays que l'agriculture et l'exploitation des mines.

350. *Importation* de farines et autres comestibles, et de tissus.

Exportation : de l'Equateur, cacao et caoutchouc ; — du Pérou, guano[1], nitrate de soude et laine de lama ; — des deux pays, quinquina et autres drogues médicinales.

LEÇON XXXIX.

BOLIVIE.

Pop., 2,400,000 hab.—**Sup.**, 450,000 m. c.

351. La *Bolivie*[2] est située entre le Brésil et le Pérou.

352. Elle est montagneuse dans l'ouest ; de vastes plaines s'étendent à l'est et au centre.

353. Les Boliviens habitent particulièrement les vallées des Andes, lesquelles sont fertiles et salubres.

354. **Villes.**—*La Paz*, 80,000 hab., capitale.— *Chuquisaca* ou *Sucre*, 25,000 hab., est bâtie sur un plateau fort élevé.

1 Le *guano* est la fiente d'oiseaux de mer déposée en amas considérables sur les côtes de certains pays chauds et secs. C'est un excellent engrais, de même que le *nitrate de soude*.

2 Le nom de *Bolivie* a été donné à ce pays en l'honneur de *Bolivar*, son libérateur.

CHILI.

Pop., 2,800,000 hab.—**Sup.**, 280,000 m. c.

355. Le *Chili*[1] est une contrée longue et étroite, située entre le Pacifique et la chaîne des Andes.

356. Les *Andes* renferment beaucoup de *volcans ;* les tremblements de terre y sont fréquents ; quelquefois ils détruisent des villes entières.

357. Le *climat* y est tempéré et salubre. Le *sol* est fertile, excepté dans l'extrême nord, où il ne pleut jamais.

358. Les principales *productions* sont : le blé, le maïs, l'orge, le vin, l'huile, etc. Les produits minéraux sont : l'or, l'argent, le cuivre, l'étain et le fer.

359. **Villes.**—*Santiago*, 250,000 hab., cap., est située dans une plaine élevée et fort belle.—*Valparaiso* (vallée du Paradis), 120,000 hab., est le port le plus important du Pacifique méridional.

---

360. Ces deux pays *exportent* de l'argent, de l'or et du guano ; le Chili exporte de plus du cuivre, du nitrate de soude et du froment.

LEÇON XL.

ARGENTINE ou LA PLATA.

Pop., 4,400,000 hab.—**Sup.**, 1,100,000 m. c.

361. La *confédération Argentine*, est située au S. de la Bolivie et du Paraguay, entre le Chili et l'Atlantique. C'est un pays presque entièrement composé de plaines (*pampas*), dans lesquelles errent une multitude de loups et de chevaux sauvages.

362. Le *climat*, généralement tempéré, est salubre.

363. Cette république est arrosée par les rivières Parana, Paraguay et plusieurs autres.

364. La partie méridionale de l'Argentine s'ap-

1 Près du Chili, sur une des îles de *Juan-Fernandez*, vécut plusieurs années Alexandre Selkirk, dont l'histoire a servi de base au conte de *Robinson Crusoé*.

pelle *Patagonie ;* c'est une vaste pampa herbeuse parcourue par des Indiens, qui vivent de chasse et de pêche.

365. **Villes.**—*Buénos-Ayres,* 540,000 habitants, capitale, située sur la rive droite du Rio de la Plata ; c'est l'une des plus grandes places de commerce de l'Amérique.

Rosario, 70,000 hab., le second port du pays.

PARAGUAY.

Pop., 500,000 hab.—**Sup.,** 100,000 m. c.

366. Le *Paraguay* est une petite contrée située au sud du Brésil ; sa surface s'élève graduellement vers l'intérieur.

367. Le *climat* y est doux et salubre, et le *sol,* fertile ; ses principaux produits sont : le sucre, le coton, le tabac, le riz, et surtout l'herbe célèbre connue sous le nom de *thé du Paraguay* ou *maté.*

368. **Ville.**—L'*Assomption,* 30,000 hab., cap., est bâtie sur la rive gauche de la rivière du Paraguay.

URUGUAY.

Pop., 700,000 hab.—**Sup.,** 70,000 m. c.

369. L'*Uruguay* est le plus petit état de l'Amérique du Sud ; il est situé entre la confédération Argentine et l'océan Atlantique.

370. Son *climat* est tempéré et salubre, et son *sol,* fertile. Il y a plusieurs chaînes de montagnes vers le nord.

371. Il est arrosé par la rivière Uruguay et ses affluents.

372. **Ville.** — *Montévidéo,* 130,000 hab., située sur la rive nord de la Plata, en est la capitale.

---

373. Ces pays sont fertiles ; on y *cultive,* surtout dans la partie occidentale de l'Argentine, la canne à sucre, le cotonnier, le tabac, la vigne et le blé. Mais ce sont surtout d'immenses régions de pâturages, et l'*industrie* générale est l'*élève des bestiaux.* C'est le plus grand centre de production de viande qui existe sur le globe.

374. *Importation* de tissus, d'articles de mode et autres produits manufacturés.— *Exportation* de viande salée, de laine, de peaux et autres produits animaux.

EUROPE.

LEÇON XLI.

GÉOGRAPHIE GÉNÉRALE DE L'EUROPE.

Population, 360,000,000 d'habitants.
Superficie, 3,760,000 milles carrés.

375. L'Europe fait partie de l'ancien continent ; elle est la plus petite des cinq parties du monde, mais la plus peuplée relativement à son étendue.

376. **Bornes.**—L'Europe est bornée au N. par l'océan Glacial ;—à l'E, par l'Asie et la mer Caspienne ;—au S., par le Caucase, la mer Noire et la Méditerranée,—et à l'O., par l'Atlantique.

377. **Iles.**—Les principales îles sont : la *Nouvelle-Zemble,* dans l'océan Glacial ; — l'archipel *Danois,* dans la Baltique ;—les îles *Britanniques,* dans l'Atlantique ;—les îles *Baléares,* la *Corse,* la *Sardaigne* et la *Sicile,* dans la Méditerranée.

378. **Presqu'îles.** — Les presqu'îles sont : la péninsule *scandinave,* comprenant la Suède et la Norvège ; — le *Danemark,* la *Crimée,* la *Grèce,* l'*Italie* ;— la péninsule *hispanique,* comprenant l'Espagne et le Portugal.

379. **Isthmes.**— On remarque deux isthmes en Europe : celui de *Pérékop,* qui unit la Crimée à la Russie ;—et celui de *Corinthe,* qui joint la Morée (partie de la Grèce) au continent.

380. **Caps.**— Les caps les plus remarquables sont : les caps *Nord,* en Norvège ;—*Matapan,* en Grèce ;— *Finisterre,* en Espagne ;—*la Hogue,* en France ;—et *Land's-End,* en Angleterre.

ANIMAUX DE L'EUROPE.

1, Chevaux ; 2, vaches ; 3, sanglier ; 4, lièvre ; 5, mulets ; 6, cerf ; 7, chamois ; 8, rennes ; 9, bouquetin ; 10, chèvre ; 11, mouton ; 12, ânes ; 13, hérisson ; 14, rats ; 15, butor ; 16, hérons ; 17, canards ; 18, cygnes ; 19, ibis ; 20, pélican ; 21, lévrier.

381. **Montagnes.**—Les principales chaînes de montagnes sont : les *Dovrefield*, en Norvège et en Suède ;—l'*Oural* et le *Caucase*, entre la Russie et l'Asie ;—les *Alpes*, entre la France, la Suisse et l'Italie ;—les *Pyrénées*, entre la France et l'Espagne.

Le point le plus élevé de ces montagnes est le mont *Blanc* (16,000 pieds), dans les Alpes.

382. **Volcans.**— Les volcans les plus remarquables de l'Europe sont : le *Vésuve*, près de Naples ; —l'*Etna*, en Sicile.

383. **Mers.** — L'Europe est baignée : 1° par l'océan *Glacial boréal* (ou *arctique*) ;

2° Par l'océan *Atlantique*, qui forme la mer *Baltique*, la mer du *Nord* et la *Manche* ;

3° Par la mer *Méditerranée*, qui forme la mer *Adriatique*, l'*Archipel* ou mer Egée et la mer *Noire* ;

4° Par la mer *Caspienne*, qui est une mer isolée.

384. **Golfes.**—Les golfes les plus remarquables sont ceux de *Bothnie* et de *Finlande*, dans la Baltique ;—de *Tarante* et du *Lion*, dans la Méditerranée ; —de *Gascogne*, entre la France et l'Espagne.

385. **Détroits.**—Les principaux détroits sont ceux du *Bosphore* et des *Dardanelles*, entre la Turquie d'Europe et la Turquie d'Asie ; — le *Phare de Messine*, entre l'Italie et la Sicile ;—le détroit de *Gibraltar*, entre l'Espagne et l'Afrique ;—le *Pas de Calais*, entre la France et l'Angleterre ;—le canal *Saint-Georges* et le canal du *Nord*, entre l'Angleterre et l'Irlande.

386. **Fleuves.** — Les fleuves les plus remarquables sont : l'*Oural* et le *Volga*, qui se jettent dans la mer Caspienne ;—le *Don*, le *Dniéper*, le *Danube*, qui se jettent dans la mer Noire ;—le *Tibre*, en Italie, le *Tage* dans la péninsule hispanique ;—le *Rhône*, la *Garonne*, la *Loire* et la *Seine*, en France ;—le *Rhin*, en Allemagne et dans les Pays-Bas ;—la *Tamise*, en Angleterre.

387. **Lacs.**— Les principaux lacs de l'Europe sont : les lacs *Onéga* et *Ladoga*, en Russie ;—les lacs de *Genève* et de *Constance*, en Suisse.

LEÇON XLII.

GEOGRAPHIE GENERALE DE L'EUROPE (*suite*).

388. **Climat.**—Le climat, à l'extrême nord et est, est froid et sévère ; mais à l'ouest et au centre, il est doux et

agréable ; au-dessous du 45° de latitude, on jouit d'un été presque perpétuel.

389. **Productions.**—L'Europe est riche en *minéraux* utiles : houille, fer, cuivre, plomb, zinc, mercure, sel, marbre, etc.

390. Dans les contrées méridionales, on *cultive* la vigne avec perfection ; on y récolte également les citrons, les oranges, les figues et autres fruits tropicaux ; les contrées du nord produisent toutes sortes de graminées et de fruits pour l'usage de l'homme et la nourriture des animaux.

391. **Race humaine.**—Les Européens appartiennent à la race *blanche*.

392. La **religion** *chrétienne* domine partout, excepté en Turquie, où règne le *mahométisme*. La Russie et la Grèce suivent la religion *grecque schismatique ;* les états du nord, le *protestantisme*, et ceux du sud, le *catholicisme*. Les catholiques sont d'ailleurs nombreux partout.

393. L'Europe est renommée pour sa civilisation, son commerce et son industrie ; pour ses villes magnifiques, ses objets d'arts et de sciences.

Elle possède un grand nombre d'institutions qui répandent l'*éducation* parmi le peuple.

394. Les **gouvernements** européens sont en général *monarchiques ;* parmi eux on trouve aussi cependant plusieurs *républiques*.

395. **Divisions politiques.**— Les états de l'Europe sont : le Royaume-Uni de Grande-Bretagne et d'Irlande, le Danemark, la Norvège, la Suède, la Russie, la France, la Belgique, la Hollande, l'Allemagne, l'Autriche-Hongrie, la Suisse, le Portugal, l'Espagne, l'Italie, le Monténégro, la Serbie, la Roumanie, la Bulgarie, la Turquie et la Grèce.



VUE DE LONDRES.

LEÇON XLIII.

EMPIRE BRITANNIQUE.

Pop., 370,000,000 d'hab.—**Sup.**, 11,000,000 de m. c.

396. L'*empire Britannique* comprend le *Royaume-Uni de Grande-Bretagne et d'Irlande*, puis les *Indes*, le *Canada*, et une multitude d'autres *colonies*, dans toutes les parties du monde, qui pour la plupart ont leurs gouvernements particuliers. La Grande-Bretagne est la puissance la plus influente du monde entier.

ROYAUME-UNI DE GRANDE-BRETAGNE ET D'IRLANDE.

397. Le Royaume-Uni de Grande-Bretagne et d'Irlande comprend l'*Angleterre*, l'*Ecosse* et l'*Irlande*.

C'est une *monarchie constitutionnelle ; Londres* (voir no 402) en est la capitale.

ANGLETERRE.

Pop., 29,000,000 d'hab.—**Sup.**, 58,000 m. c.

398. L'*Angleterre* est la partie la plus importante de la Grande-Bretagne ; elle est séparée de la France par la Manche (*English Channel*), et de l'Irlande, par le canal Saint-Georges et la mer d'Irlande.

399. Ses principales *rivières* sont : la *Tamise*, dans l'est, et la *Severn*, dans l'ouest.

400. Son *climat* est doux, humide et brumeux.

401. La *religion anglicane* est la religion officielle ; environ le tiers de l'Angleterre est *catholique*.

402. **Villes.**—*Londres*, 4,400,000 hab., sur la Tamise, capitale, est la ville la plus populeuse de tout le globe ; elle renferme un grand nombre de monuments superbes ; la cathédrale St-Paul, l'abbaye de Westminster surtout méritent d'être citées.

403. Les autres villes les plus remarquables sont : *Liverpool*, 520,000 hab., second port de commerce du monde ; *Manchester*, 500,000 hab.; *Birmingham*, 440,000 hab. ; *Leeds*, 370,000 hab. ; *Sheffield*, 320,000 hab., toutes villes manufacturières ; *Bristol*, 230,000 hab., port de mer important.

404. L'*agriculture* anglaise est des plus perfectionnées ; elle produit relativement peu de grains, mais elle multiplie les cultures de plantes propres à engraisser les animaux. Elle possède plusieurs races d'animaux remarquables par la facilité avec laquelle ils engraissent.

405. On exploite en Angleterre de riches *mines* de houille et de métaux utiles : fer, cuivre, plomb, etc.

On y construit des *vaisseaux* ; on y fabrique des *machines*, des *armes*, de la *coutellerie*, etc., et des *tissus* de toute sorte, en grande partie pour l'*exportation*.

406. Le commerce intérieur dispose d'un fort bel ensemble de *chemins de fer*, de *rivières* et de *canaux*.

Plusieurs *télégraphes sous-marins* relient les îles Britanniques avec le continent européen et l'Amérique. De nombreuses lignes de *vaisseaux* à vapeur et à voile les mettent en communication avec tous les pays du monde.

407. L'Angleterre *importe* surtout des *matières textiles* (coton, laine) et des *denrées alimentaires* (farines, sucre, thé, café, bétail)[1].

1 Entre autres produits, le Canada exporte en Angleterre des grains et farines, des pommes, des conserves alimentaires (fruits et légumes), du beurre, du fromage, des œufs et du bétail. Ce commerce pourrait probablement s'augmenter.

LEÇON XLIV.

ECOSSE (*Scotland*).

Population, 4,000,000 d'habitants.
Superficie (les îles adjacentes y comprises), 30,000 m. c.

408. L'*Ecosse*, autrefois *Calédonie*, est située au nord de l'Angleterre, dont elle est séparée par les monts Cheviots ; elle est divisée en *hautes terres* (*Highlands*), au nord, et en *terres basses* (*Lowlands*), au sud.

409. Les *Highlands* sont une région montagneuse et froide, mais qui renferment des sites très pittoresques. Les *Lowlands* sont unies et bien cultivées.

410. Les principales *productions* sont celles qui proviennent de l'agriculture et des mines de fer et de charbon. Ses pêcheries sont très importantes.

411. **Villes.**—*Edimbourg*, 260,000 hab., capitale, est remarquable pour son château et pour son palais des rois d'Ecosse.—*Glasgow*, 620,000 hab., en est la ville la plus importante par sa population, et elle est célèbre pour ses tissus et sa métallurgie.—*Dundee*, 150,000 hab.

IRLANDE.

Pop., 5,000,000 d'hab.— **Sup.**, 32,500 m. c.

412. L'*Irlande*, île située à l'ouest de l'Angleterre, est célèbre par sa constante verdure, d'où lui vient le nom d'*Emeraude*, qu'on lui donne souvent.

413. Son *climat* est très humide ; son *sol* produit le blé, l'avoine, l'orge, le lin et surtout les pommes de terre, qui y sont excellentes, et qui y constituent la principale nourriture du pauvre.

414. Dans plusieurs parties de l'Irlande, le peuple est pauvre et opprimé par les seigneurs. Un grand nombre d'Irlandais émigrent chaque année en l'Amérique.

415. La plupart des habitants sont *catholiques*.

416. **Villes.**— *Dublin*, 260,000 hab., capitale, sur la *Liffey*, est une très belle ville et renferme de magnifiques monuments.—*Belfast*, 250,000 hab., célèbre par l'industrie du lin, et *Cork*, 80,000 hab., sont des ports de mer importants.

LEÇON XLV.

DANEMARK.

Pop., 2,200,000 hab.—**Sup.**, 15,000 m. c.

417. Le *Danemark* est composé de la presqu'île du Jutland et de l'archipel danois ; il est situé au sud de la Norvège et de la Suède, dont il est séparé par deux bras de mer, qui portent les noms de Skager-Rack et de Cattégat.

418. La surface du Danemark est plate et basse ; en quelques endroits, elle est au-dessous du niveau de la mer.

Son *climat* est humide, mais doux et salubre.

419. Le **gouvernement** est une *monarchie constitutionnelle*. Les Danois professent le *protestantisme*.

420. **Ville.**—*Copenhague*, 310,000 hab., capitale, ville savante et industrieuse.

421. Le **sol** du Danemark est généralement fertile et produit des graminées en abondance. Les Danois élèvent des *bestiaux* en grand nombre.

La *pêche* au hareng, à la morue, au maquereau et au saumon s'y fait avec succès.

422. Le *commerce* extérieur du Danemark est très actif.

SUEDE et NORVEGE.

Pop., Suède, 4,900,000 hab. ;— Norvège, 2,100,000 hab.
Superficie totale, 295,000 m. c.

423. La *Suède* et la *Norvège* forment au nord-ouest de l'Europe, une péninsule qui, avec le Danemark, composent la *Scandinavie*. Ces deux pays sont séparés par les montagnes *Kiolen*.

424. La Norvège est montagneuse, tandis que la Suède est unie, excepté dans la partie du nord. La côte de la Norvège est très pittoresque.

425. Le *climat* y est froid, mais salubre. Dans le nord, l'été ne dure pas plus de trois mois, durant lesquels la végétation est extrêmement rapide.

426. Le **gouvernement** est une *monarchie constitutionnelle ;* chacun des deux pays a sa législature et ses lois, mais un même roi les gouverne tous deux. La *religion protestante* y domine.

427. **Villes.**—*Stockholm*, 250,000 hab., cap. de la Suède ;—*Christiania*, 130,000 hab., cap. de la Norvège.

428. La Suède est renommée pour ses *mines de fer ;* on dit que le fer de ce pays est le meilleur du monde. Les autres produits sont ceux qui proviennent de l'*agriculture*, des *forêts* et des *pêcheries*, qui sont considérables.

LEÇON XLVI.

RUSSIE.

Pop.[1], 95,000,000 d'hab.— **Sup.**, 2,100,000 m. c.

429. La *Russie* occupe presque toute la moitié orientale de l'Europe.

430. Sa *surface* se compose généralement de plaines basses et unies.

Le *climat* est continental, sec, très froid dans le nord, mais tempéré dans le sud.

431. Le **gouvernement** est une *monarchie absolue*. La religion, dont le czar ou empereur est le chef suprême, est le *rit grec schismatique*.

432. **Villes.**—*St-Pétersbourg*, 1,000,000 d'hab., capitale, ville superbe et bien bâtie, fut fondée par Pierre le Grand.—*Moscou*, 750,000 hab., ancienne capitale, est la ville la plus remarquable ; elle fut brûlée, en 1812, à l'arrivée de Napoléon.

433. *Varsovie*, 460,000 hab., sur la Vistule ; ci-devant cap. de la Pologne.

Odessa, port sur la mer Noire, exporte des blés.

434. Le centre et le sud de la Russie produisent le *blé*, l'orge, le lin, le chanvre, le tabac et la betterave à sucre. On y exploite de grandes *forêts* de sapins et de riches *mines* d'or, de fer, de cuivre et de platine ; ce dernier métal se trouve dans les monts Ourals en plus grande abondance que partout ailleurs.

---

1 Avec ses possessions asiatiques, l'empire russe compte 110,000,000 de sujets sur un territoire de 8,500,000 m. c.

NOTRE-DAME DE PARIS.

LEÇON XLVII.

FRANCE.

Pop.[1], 39,000,000 d'hab.—**Sup.**, 204,000 m. c.

435. La *France* est séparée de l'Angleterre par la Manche ; de l'Espagne par les Pyrénées, et de l'Italie par les Alpes. Elle est montagneuse dans l'est et le sud; le reste forme une partie de la grande plaine du nord de l'Europe.

436. Le *climat* de la France est doux, agréable et salubre. Son *sol* est très fertile et fort bien cultivé ; il produit en abondance toutes les denrées des zones tempérées.

437. La France fut, avant 1792, un royaume, et depuis, successivement une république, un empire, un royaume, et est actuellement (1894) une *république*. Les Français professent la *religion catholique*.

438. **Villes.**—*Paris*, 2,400,000 hab., sur la Seine, capitale, est une des plus belles villes du monde ; elle renferme de belles églises, de magnifiques monuments, des galeries de peinture splendides et des bibliothèques nulle part surpassées. La bibliothèque Nationale contient 1,800,000 volumes et 200,000 manuscrits.

439. *Lyon*[1], 400,000 hab., sur le Rhône, est remarquable par ses manufactures de soie.—*Marseille*, 380,000 hab., célèbre par son antiquité, elle fut bâtie par les Grecs, 600 ans avant J.-C.—*Bordeaux*, 240,000 hab., renommée pour ses vins.

440. Ces deux dernières villes, ainsi que *le Havre* et *Rouen*, sont des ports de mer.

441. La France est une contrée à la fois agricole, manufacturière et commerçante. Elle produit pour l'*exportation* des vins, du sucre de betterave, des soieries, des draps, des vêtements confectionnés[2], etc. Elle *importe* de la houille, des métaux, des matières textiles : soie, coton, lin et laine, des peaux, du café, et assez souvent du blé, des bestiaux.

1 Avec ses colonies, la France compte 70,000,000 de sujets sur un territoire d'environ 1,200,000 m. c.

1 *Lyon* se prononce en une syllabe, et non pas *Ly-on*. Il en est de même de *Rouen*.

2 Ne dites pas des *hardes faites*.

LEÇON XLVIII.

BELGIQUE.

Pop., 6,200,000 hab.—**Sup.**, 11,400 m. c.

442. La *Belgique* est un petit royaume situé au N.-E. de la France ; c'est le pays le plus peuplé de l'Europe relativement à son étendue. Ses côtes sont basses, et le sud est montagneux.

443. Le *climat* y est tempéré et humide.

444. Le **gouvernement** est une *monarchie constitutionnelle*. Les Belges professent la *religion catholique*.

445. La Belgique a été le théâtre de batailles sanglantes ; une des plus fameuses est celle de *Waterloo*, qui a décidé du sort de Napoléon I, en 1815.

446. **Villes.**—*Bruxelles*, 480,000 hab., capitale, est une très jolie ville.—*Anvers*, 220,000 hab., grand port de mer.— *Gand*, 150,000 hab., et *Liège*, 145,000 hab., sont des villes renommées.

447. En Belgique, l'*agriculture* est portée à un très haut point de perfection ; on y cultive surtout le lin, le houblon,

le coton, le tabac et les graminées. Le *fer* et le *charbon* y sont abondants.

Parmi les productions manufacturières, on cite particulièrement les *dentelles* et les *tapis* dits *de Bruxelles*.

HOLLANDE.

Pop., 4,500,000 hab.—**Sup.**, 12,700 m. c.

448. La *Hollande*, appelée aussi les *Pays-Bas*, est un petit royaume situé au N.-E. de la Belgique. La dépression du terrain y est telle qu'on est obligé d'entretenir des digues pour empêcher la mer de le submerger.

449. Le *climat* y est humide et désagréable.

450. Le **gouvernement** est une *monarchie constitutionnelle*. La religion dominante est le *protestantisme*, mais il y a beaucoup de *catholiques* et de *juifs*.

451. **Villes.**—*La Haye*, 150,000 hab., en est la capitale.—*Amsterdam*, 420,000 hab., ancienne cap., est la ville la plus considérable.—*Rotterdam*, 200,000 hab., et *Utrecht*, 80,000 hab., sont des villes importantes.

452. De sa nature, le *sol* hollandais est ingrat, mais une agriculture intelligente l'a rendu très fertile. Les cultures sont à peu près les mêmes qu'en Belgique. Les Hollandais s'occupent aussi de l'engraissement des *animaux*.

LEÇON XLIX.

ALLEMAGNE.

Pop., 50,000,000 d'hab. — **Sup.**, 209,000 m. c.

453. L'*empire d'Allemagne* est une vaste contrée au centre de l'Europe, s'étendant de la Belgique et de la mer du Nord à l'Autriche ; sa surface est généralement unie, mais elle est montagneuse au sud ; environ un tiers du pays est couvert de forêts.

454. Le *climat* y est plutôt froid que chaud, et devient très froid et très humide au nord. Le *sol* est généralement fertile et très bien cultivé ; il renferme de riches mines de houille, de fer et autres métaux.

455. L'Allemagne est le foyer de la *religion protestante ;* elle domine dans le nord, tandis que la *religion catholique* est plus généralement professée dans le sud.—L'*instruction* y est très répandue.

456. L'Allemagne forme un *empire fédératif*, dont le roi de Prusse est souverain, et dont *Berlin* est la capitale.

457. Les principaux états que comprend l'Allemagne sont :

I. Le *royaume* de **Prusse**, 30,000,000 d'hab.

Villes.—*Berlin*, 1,600,000 hab., grande et belle ville, capitale du royaume de Prusse et de l'empire allemand.—*Breslau*, 340,000 hab.—*Cologne*, 280,000 hab., possède une des plus belles cathédrales du monde.—*Aix-la-Chapelle*, 100,000 hab., ancienne capitale de l'empire de Charlemagne.

II. Le *royaume* de **Bavière** ; capitale, *Munich*, 350,000 hab.

III. Le *royaume* de **Saxe** ; cap., *Dresde*, 270.000 hab.

IV. Le *royaume* de **Wurtemberg**[1] ; cap., *Stuttgart*, 140,000 hab.

V. Le *grand-duché* de **Bade** ; cap., *Carlsruhe*, 70,000 hab.

VI. **Alsace-Lorraine** ; cap., *Strasbourg*, 124,000 habitants.

458. *Hambourg*, 550,000 hab., port de mer, est la capitale d'un petit état, appelé *district de Hambourg*.

459. L'**industrie** de l'Allemagne est très développée, particulièrement dans la *métallurgie* et l'*agriculture*. Son commerce est très actif ; il exporte surtout de la *houille*, des ouvrages en *fer* et en acier, des *tissus* divers et du sucre de betterave.

LEÇON L.

AUTRICHE-HONGRIE.

Pop., 42,000,000 d'hab.—**Sup.**, 240,000 m. c.

460. L'*empire d'Autriche-Hongrie* est situé au centre de l'Europe. Sa surface est généralement montagneuse, excepté dans la Hongrie et la Bohême.

---

1 Le *w* allemand se prononce comme le *v* français.

461. Le *climat* y est froid dans les régions des montagnes et doux dans les plaines. Le *sol* est assez fertile.

462. Le **gouvernement** est une *monarchie constitutionnelle.* La majorité de la population est *catholique.*

463. L'empire austro-hongrois est formé de deux grandes parties, l'**Autriche** et la **Hongrie,** possédant chacune un gouvernement distinct.

L'Autriche renferme les *royaumes* de **Dalmatie,** de **Galicie** et de **Bohême.**

464. **Villes.**—*Vienne,* 1,300,000 hab., capitale de l'Autriche et de l'empire ; très belle ville, située sur le Danube.

465. *Budapest,* 500,000 hab., cap. de la Hongrie ; formée de deux villes séparées par le Danube. — *Prague,* 200,000 hab. — *Trieste,* 150,000 hab., port de mer.

466. L'*agriculture* austro-hongroise produit des céréales, froment et maïs, du tabac, des vins et la betterave à sucre. Le sol renferme des *mines* d'or, d'argent, de cuivre et autres métaux, ainsi que de houille et de sel. Les habitants font l'*élève des bestiaux* et fabriquent des *tissus* de soie et de laine.

LEÇON LI.

SUISSE.

Pop., 3,000,000 d'hab.—**Sup.,** 16,000 m. c.

467. La *Suisse* est située entre l'Autriche et la France ; c'est un pays très montagneux et qui offre des paysages très pittoresques.

Les montagnes sont couvertes de grandes étendues de glace appelées *glaciers.*

468. Le *climat* y varie avec l'élévation des terrains. Le *sol* y est très fertile dans plusieurs vallées, et produit les fruits et les grains ordinaires des pays tempérés.

469. La Suisse est une *republique fédérative,* ou une confédération de 22 petits états, appelés *cantons.* Le peuple est industrieux et attaché à son pays.

470. **Villes.**—*Berne,* 50,000 hab., capitale fédérale.—*Bâle,* 75,000 hab., principale ville de commerce.—*Genève,* 70,000 hab., sur le lac du même nom ; la ville la plus remarquable dans l'histoire de la Suisse.

Le mont Pilate, en Suisse.

471. L'élève des *bestiaux* est la principale occupation des habitants de la Suisse ; il se livrent aussi à la fabrication de l'*horlogerie.*

LEÇON LII.

ESPAGNE.

Pop., 18,000,000 d'hab.—**Sup.,** 195,000 m. c.

472. L'*Espagne* est située au S.-O. de la France, dont elle est séparée par les Pyrénées. Sa surface est très inégale ; l'intérieur consiste en vastes plateaux et en montagnes.

473. Le *climat* y est assez tempéré sur les côtes, mais les plateaux sont sujets à de grands froids et à de grandes chaleurs. Le *sol* est généralement bon et fertile, mais l'agriculture laisse à désirer.

474. Le **gouvernement** est une *monarchie constitutionnelle.* Les Espagnols professent la *religion catholique,* qui fut longtemps la seule admise dans le royaume.

475. **Villes.**—*Madrid,* 470,000 hab., capitale, située sur une branche du Tage, vers le milieu

du pays.—*Barcelone*, 260,000 hab., premier port de commerce.—*Valence*, 170,000 hab., surnommée *la Belle*.—*Séville*, 140,000 hab.—*Grenade* et *Cordoue*, remarquables par les ruines moresques qu'elles contiennent.

PORTUGAL.

Pop., 4,700,000 hab.—**Sup.**, 34,200 m. c.

476. Le *Portugal*, est situé à l'ouest de l'Espagne. L'aspect de ce pays ressemble beaucoup à celui de l'Espagne.

477. Le *climat* y est salubre ; le *sol* est fertile.

478. Le **gouvernement** est une *monarchie constitutionnelle*. Les Portugais professent la *religion catholique*.

479. **Villes.**—*Lisbonne*, 260,000 hab., sur le Tage, en est la capitale ; elle fut presque détruite en 1755, par un de ces tremblements de terre auxquels le pays est sujet.—*Oporto*, 110,000 hab., est le principal port de commerce.

---

480. **L'industrie** et le **commerce** de ces deux pays sont peu florissants. Ils *exportent* surtout des vins et des fruits : raisins, oranges, olives, etc., et du sel. L'Espagne exporte aussi du mercure et du fer.

LEÇON LIII.

ITALIE.

Pop., 30,000,000 d'hab.—**Sup.**, 111,000 m. c.

481. L'*Italie* est située au sud de l'Autriche et de la Suisse. Sa principale partie consiste en une péninsule ayant la forme d'une botte ; elle est comprise entre la Méditerranée et la mer Adriatique. Les îles de *Sicile* et de *Sardaigne* lui appartiennent.

482. Son *climat* est très beau, mais excessivement chaud. Son *sol* est généralement très productif.

483. L'Italie est un *royaume* qui a été formé par la réunion de plusieurs petits états, en particulier ceux **de l'Eglise**, injustement enlevés au Pape. La majorité des habitants sont descendants des anciens Romains. Ils professent la *religion catholique*.

484. L'Italie est remarquable par ses beaux-arts ; la peinture, la sculpture, la musique, y ont fleuri plus que partout ailleurs.

485. **Villes.**—*Rome*, 400,000 hab., est la capitale de l'Italie et du monde chrétien ; elle est la résidence de son chef, notre saint père, le Pape.

486. *Naples*, 500,000 hab., cap. de l'ancien royaume de *Naples*.—*Milan*, 300,000 hab., anc. cap. de la *Lombardie*, très belle cathédrale.—*Venise*, 160,000 hab., anc. cap. de la *Vénitie*, est bâtie sur soixante-et-douze petites îles ; les communications se font par le moyen de bateaux appelés *gondoles*.

487. L'Italie *exporte* de la soie, de l'huile d'olive et des fruits. Son industrie est peu progressive.

LEÇON LIV.

MONTENEGRO, SERBIE, ROUMANIE et BULGARIE.

488. Le *Monténégro*, la *Serbie*, la *Roumanie* et la *Bulgarie* sont des petits états situés entre l'Autriche-Hongrie, la Russie et la Turquie.—Les trois premiers sont indépendants ; la Bulgarie est une principauté vassale de la Turquie.

489. La *principauté* de **Monténégro**, population 300,000 hab., a pour capitale *Cettinié* ou Cettigné, 5,000 hab.

490. Le *royaume* de **Serbie**, pop. 2,000,000 d'hab., a pour cap. *Belgrade*, 30,000 hab., sur le Danube.

491. Le *royaume* de **Roumanie** compte 5,500,000 hab. Sa cap. est *Bukharest*, 220,000 hab.

492. La **Bulgarie** compte 3,000,000 d'hab. Sa capitale est *Sofia* ou Sophia, 30,000 hab.

493. Le Monténégro et la Serbie sont peu productifs.—La Roumanie et la Bulgarie sont des pays fertiles, qui nourrissent un *bétail* nombreux et produisent abondamment le maïs et le *froment*.

LEÇON LV.

TURQUIE.

Pop., 5,000,000 d'hab.— **Sup.**, 65,000 m. c.

494. La *Turquie* est une contrée du sud de l'Europe. Sa surface est alternée de montagnes et de vallées.

495. Son *climat* est sévère dans le nord ; le sud est plus doux, mais très variable. Son *sol* est très fertile, surtout dans la vallée du Danube, mais il est mal cultivé.

496. Son **gouvernement** est *monarchique*. L'empereur se nomme *grand seigneur* ou *sultan ;* il est en même temps chef de la religion, qui est le *mahométisme*.

497. La Turquie est un empire, dont la Bulgarie et quelques autres pays sont vassaux (voir nos 489 521, 577, 584.)

498. **Villes.** — *Constantinople*, 880,000 hab., capitale, à l'entrée du Bosphore ; port bien situé.— *Salonique*, 80,000 hab., port de mer.

GRECE.

Pop., 2,200,000 hab.—**Sup.**, 25,000 m. c.

499. La *Grèce*, qui consiste en deux péninsules séparées par le golfe de Lépante, est située au sud de la Turquie ; elle offre de très beaux sites et jouit d'une atmosphère agréable.

500. Le *climat* est tempéré, mais variable, et le *sol* est fertile, mais mal cultivé.

501. Son **gouvernement** est une *monarchie constitutionnelle*. La religion est le rite *grec schismatique*.

502. **Ville.**—*Athènes*, 90,000 hab., située près du golfe d'Egine, capitale ; ville fameuse par ses souvenirs et ses ruines ; elle fut renommée pour ses beaux-arts et sa littérature.

---

503. La Turquie et la Grèce ont un sol naturellement riche, mais l'agriculture et l'industrie y sont peu prospères. Ces deux pays exportent des *fruits*, et on trouve de fort beaux *marbres* en Grèce.

ASIE.

LEÇON LVI.

GEOGRAPHIE GENERALE DE L'ASIE.

Population, 810,000,000 d'habitants.
Superficie, 16,000,000 de milles carrés.

504. **Bornes.**— L'Asie est bornée au N. par l'océan Arctique ;— à l'E., par le Pacifique ;—au S., par l'océan Indien ;—à l'O., par la mer Rouge, la Méditerranée et l'Europe.—C'est la plus grande des parties du monde.

505. **Iles.**—Dans le *Grand océan*, les îles du *Japon ;* les îles *Formose* et *Haïnan*, appartenant à la Chine ;—dans l'océan Indien, l'île *Ceylan*, aux Anglais.

506. **Presqu'iles.**—La *Corée*, à l'O.;—la presqu'île de *Malacca* et le *Décan* (partie méridionale de l'Hindoustan), au S.;—l'*Arabie* et l'*Asie Mineure* (partie de la Turquie), à l'O.

507. **Isthme.**—L'isthme de *Suez*, joint l'Asie à l'Afrique.

508. **Caps.**—Le cap *Oriental*, au N.-E. de la Sibérie ;—le cap *Romania*, au sud du Malacca ;—le cap *Comorin*, au sud du Décan.

509. **Montagnes.**—Les monts *Himalayas*, au nord de l'Hindoustan (renfermant le mont *Everest*, 29,000 pieds, le plus haut du globe) ;—les monts *Altaï*, en Sibérie ;—l'*Oural* et le *Caucase*, entre l'Asie et l'Europe.

510. L'Asie est remarquable par ses hautes montagnes, les plus élevées du monde, ses vastes plateaux, ses plaines, ses déserts et ses grandes rivières.

511. **Mers.**—Au N., l'océan *Glacial arctique ;* —à l'E., le *Pacifique*, formant la mer de *Behring*, la



ANIMAUX DE L'ASIE.

1, Lion, lionne ; 2, éléphants ; 3, tigres ; 4, panthère ; 5, dromadaire (à une bosse), chameau (à deux bosses) ; 6, rhinocéros ; 7, flamants ; 8, calao ; 9, perroquets ; 10, paon ; 11, argali (mouton) ; 12, singe ; 13, serpent à lunettes ; 14, python ; 15, porc-épic.

mer d'*Okhotsk*, la mer du *Japon*, la mer *Jaune* et la mer de *Chine* ; — au S., l'océan *Indien*, formant la mer d'*Arabie* et la mer *Rouge* ;—à l'O., la *Méditerranée*, la mer *Noire* et la mer *Caspienne*.

512. **Golfes.**—Le golfe de *Siam*, dans l'Indo-Chine ;—le golfe de *Bengale* ;—le golfe *Persique*, entre la Perse et l'Arabie.

513. **Détroits.**—Le détroit de *Behring*, entre l'Asie et l'Amérique ;—le détroit de *Malacca*, entre la presqu'île de Malacca et l'île de Sumatra ;—le détroit de *Bab-el-Mandeb*, entre l'Arabie et l'Afrique ;—les *Dardanelles* et le *Bosphore*, entre l'Asie et l'Europe.

514. **Fleuves.**—L'*Obi*, la *Léna*, en Sibérie ;—le *Hoang-Ho* (fleuve Jaune), le *Yang-tse-Kiang* (fleuve Bleu), en Chine ;—le *Gange* et l'*Indus*, dans l'Hindoustan.

515. **Climat.**—Le climat de l'Asie est très varié; ses plaines septentrionales et ses plateaux du centre sont froids et peu habités; les régions de la Chine orientale et des Indes sont humides, chaudes et très populeuses ; l'Asie occidentale est plus sèche et moins peuplée.

516. **Productions.**— Les productions de l'Asie sont importantes en espèces *minérales* : or, platine, pierres précieuses ;—en espèces *végétales* : riz, thé, mûrier, cotonnier, légumes ;—et en espèces *animales* : singes, tigre royal, éléphant des Indes, chameau et dromadaire d'Arabie, renne de Sibérie, ver à soie, paon, etc.

517. **Races humaines.**—Sa population, qui excède la moitié de celle de toute la terre, comprend trois races distinctes : la *race blanche*, occupant l'ouest, la *race jaune* et la *race brune* qui occupent le centre et l'est.

518. **Gouvernements. Religions.** — Les peuples sont opprimés par leurs gouvernements, presque tous despotiques. L'Asie est le siège de toutes les religions : la plus grande partie des populations est *idolâtre*, un grand nombre professe le *mahométisme* ; les *catholiques* n'y sont pas nombreux comparativement.

519. L'Asie est surtout remarquable comme ayant

été le berceau du genre humain et de la religion chrétienne.

520. **Divisions.**—Les principales divisions politiques de l'Asie sont : la Turquie d'Asie, l'Arabie, la Perse, l'Inde ou Hindoustan, la Cochinchine, le royaume d'Annam, le royaume de Siam, la Chine, le Japon, la Sibérie.

LEÇON LVII.

TURQUIE D'ASIE.

Pop., 17,000,000 d'hab.—**Sup.**, 700,000 m. c.

521. La *Turquie d'Asie*, autrefois *Asie Mineure*, est une partie de l'empire Ottoman, dont Constantinople est la capitale (voir no 497). Elle est située dans l'ouest de l'Asie et diversifiée par des montagnes, des vallées et des plaines.

522. Son *climat* est varié. Son *sol* est fertile, mais mal cultivé.

523. Sa **population** est composée de Juifs, de Grecs, de Turcs et d'Arabes.

524. La *Palestine*, ou Terre-Sainte, qui fait partie de la Turquie, est le pays où ont eu lieu les événements rapportés dans l'Ecriture sainte. On y trouve *Bethléem*, où Notre-Seigneur Jésus-Christ est né ; *Nazareth*, où il a vécu, et *Jérusalem*, où il est mort. C'est là aussi qu'est la mer Morte, occupant l'emplacement où étaient autrefois les villes de *Sodome* et de *Gomorrhe*.

525. **Villes.**—*Smyrne*, 160,000 hab., en est le principal port.—On y trouve aussi les ruines de *Babylone* et de *Ninive*.—*Tyr* et *Sidon*, autrefois si célèbres pour leur commerce, ne sont plus que de pauvres villages.

526. La Turquie exporte des fruits, de l'opium, de l'huile d'olive et des éponges.

LEÇON LVIII.

ARABIE.

Pop., 6,000,000 d'hab.—**Sup.**, 1,000,000 de m. c.

527. L'*Arabie* est une péninsule située dans le S.-O. de l'Asie ; la plus grande partie est déserte, faute de rivières permanentes. Le *climat* y est chau et sec. Le mont *Sinaï* est situé au nord de la m Rouge.

528. Les Arabes, descendants d'Ismaël, so divisés en familles ou tribus.

Les habitants du désert se nomment *Bédouin* ils sont nomades et vivent sous des tentes.

529. **Villes.**—*Mascate*, ville florissante.—*L Mecque*, ville sainte et lieu de pèlerinage po les mahométans : Mahomet y est né.—*Médin* possède le tombeau de Mahomet.

530. Le *sol* est stérile, excepté sur les côtes de la m Rouge, où il est assez fertile ; les *produits* de l'Arabie sont : café, les dattes, l'indigo, les épices, la gomme arabique, et

PERSE.

Pop., 8,000,000 d'hab.—**Sup.**, 600,000 m. c.

531. Le royaume de *Perse* est situé à l'E. de l Turquie. C'est une contrée diversifiée de groupe de collines, de chaînes de montagnes et de déserts salés et sablonneux, d'où résulte un *climat* varié.

532. Le *gouvernement* est despotique ; le roi se nomme *schah*. Les Perses professent le *mahomé tisme*.

533. **Villes.**—*Téhéran*, 200,000 hab., capitale actuelle.—*Ispahan*, ancienne capitale.

534. La Perse *exporte* de la soie, des tapis, des armes blanches et des fruits.

LEÇON LIX.

HINDOUSTAN.

Pop., 280,000,000 d'hab.—**Sup.**, 1,300,000 m. c.

535. L'*Inde*[1], ou *Hindoustan*, est bornée par les monts Himalayas, le golfe de Bengale et la mer d'Arabie. Elle forme un *empire*, qui est dépendant de l'Angleterre.

536. Le *climat* est très chaud, excepté dans les régions montagneuses, où il est assez tempéré. — La plupart des Hindous sont *idolâtres*.

---

1 On désigne sous le nom générique des *Indes* l'Hindoustan, l'Indo-Chine et les petits pays adjacents.

537. **Villes.** — *Calcutta*, 850,000 hab., capitale, — et *Bombay*, 800,000 hab. ; ce sont des ports de mer.

538. **Birmanie.**— A l'Hindoustan se rattache la *Birmanie*, petit état situé au S. de la Chine et soumis à l'Angleterre.

Sa capitale est *Mandalai*, 180,000 habitants.

539. L'Inde exporte du blé, du café, de l'opium, du coton, de la soie et de la laine.

INDO-CHINE FRANÇAISE.

Pop., 17,000,000 d'hab.
Sup., 105,000 m. c.

540. L'*Indo-Chine française* est bornée au N., par la Chine ; à l'E., par la mer de la Chine, et à l'O., par le royaume de Siam.

Elle est sous la domination de la France.

541. Elle est formée surtout de la **Cochinchine**, cap. *Saïgon*, et du royaume d'**Annam**, cap. *Hué*.

ROYAUME DE SIAM.

Population, 6,000,000 d'hab.

542. Le Royaume de *Siam* est situé à l'O. de l'Indo-Chine française.— Il est indépendant.

Sa capitale est *Bangkok*, 500,000 hab.

---

543. Ces deux pays *exportent* du riz, du sucre et des épices.



PÊCHE AUX PERLES, SUR LES COTES DU GOLFE PERSIQUE.

LEÇON LX.

EMPIRE CHINOIS.

Pop., 400,000,000 d'h.
Sup., 4,400,000 m. c.

544. L'*empire chinois* comprend, outre la *Chine propre*, plusieurs vastes contrées, dont les principales sont : la *Mongolie*, la *Mandchourie*, le *Thibet* et la *Tartarie* ; ces provinces sont peu connues.

545. Le *climat*, vers le nord, est plus froid qu'en Europe aux mêmes latitudes ; le centre est tempéré, et le midi, passablement chaud. Le *sol* est très bien arrosé, fertile et bien cultivé.

546. Le **gouvernement** de la Chine est *monarchique absolu*, mais d'un caractère patriarcal. Le *bouddhisme* est la *religion* dominante.

547. Parmi les curiosités de la Chine, on cite la grande muraille de 1,500 milles de longueur, construite pour protéger le pays contre les Tartares.

548. **Villes.**—*Pékin*, 1,000,000 d'hab, capitale. —*Canton*, 1,600,000 hab., et *Shanghaï*, 350,000 hab., sont les principaux ports de mer.

549. La Chine envoie à l'étranger des quantités énormes de *thé*. Elle *exporte* aussi de la soie, du coton, de la porcelaine et de la cire.

LEÇON LXI.

JAPON.

Pop., 40,000,000 d'hab.— **Sup.**, 150,000 m. c.

550. Le *Japon* est situé à l'est de la Chine ; il est composé de plusieurs îles, dont les principales s'appellent *Nippon* et *Kiou-Siou*.

551. Son *climat* est variable, très froid au nord. Les *trombes* ou siphons sont communs dans les mers. Son *sol* est très bien cultivé.

552. Son **gouvernement** est une *monarchie* absolue ; l'empereur s'appelle *mikado*. Les Japonais professent l'idolâtrie ou le *bouddhisme*.

553. **Villes.**—*Tokio*, 1,400,000 hab., capitale, située à l'E. de l'île Nippon. — *Yokohama*, 120,000 hab., port de mer, entrepôt des Européens.

554. Le Japon *exporte* de la soie, du thé, du camphre, du cuivre et de la porcelaine.

LEÇON LXII.

SIBERIE.

Pop., 10,000,000 d'hab.— **Sup.**, 6,000,000 de m. c.

555. La *Sibérie* appartient à la Russie ; elle occupe tout le nord de l'Asie, et n'est pour ainsi dire qu'une vaste plaine très froide.

556. *Irkoutsk*, 40,000 hab., dans le sud, résidence d'agrément ;—et *Tobolsk*, 20,000 hab., dans l'ouest, sont les principales villes.

557. Il y a des *mines* d'or, d'argent et de platine dans les monts Ourals et les monts Altaï ; mais les principaux articles de commerce sont les belles *fourrures* de zibeline et d'hermine.

TURKESTAN, AFGHANISTAN et BELOUTCHISTAN.

Pop., 8,500,000 hab.—**Sup.**, 550,000 m. c.

558. Le *Turkestan*, l'*Afghanistan* et le *Beloutchistan* sont de petits états situés entre la Sibérie, l'Inde et la Perse. Ils sont vassaux de puissances étrangères. La plupart des habitants sont chasseurs ou pâtres et mènent une vie errante ; cependant un grand nombre d'entre eux demeurent dans les villes.

559. **Villes.**—*Boukhara*, 100,000 hab., cap., et *Samarkand* sont les principales villes du Turkestan.

Kaboul, 60,000 hab., est la cap. de l'Afghanistan,—et *Kélat*, 15,000 hab., celle du Béloutchistan.

---

560. Ces pays *exportent* des produits agricoles, des bestiaux et des soieries. Le commerce s'y fait par caravanes.

AFRIQUE.

LEÇON LXIII.

GEOGRAPHIE GENERALE DE L'AFRIQUE.

Population, 140,000,000 d'habitants.
Superficie, 12,000,000 de milles carrés.

561. **Situation.**—L'Afrique est une des cinq parties du monde ; elle est située au S. de l'Europe, dont elle est séparée par la Méditerranée ; elle est jointe à l'Asie par l'isthme de Suez.

562. **Iles.**—Dans l'océan Indien, les îles de *Madagascar* et de la *Réunion*, aux Français, et l'île *Maurice*, aux Anglais ;—dans l'Atlantique, les *Canaries*, aux Espagnols ; les îles du *Cap-Vert* et les *Madère*, aux Portugais.

563. **Caps.**—Le cap *Blanc*, au N. de la Tunisie ; —le cap *Guardafui*, à l'E. de l'Afrique ;—le cap de *Bonne-Espérance*, au S.;—le cap *Vert*, à l'O. de la Sénégambie.

564. **Montagnes.**—L'*Atlas*, dans le nord du continent ;—les monts *Kongs*, dans la Guinée septentrionale ,—les monts *de l'Abyssinie* ;— les monts *Neigeux*, dans le sud.

565. **Désert.**—Au sud des états barbaresques (voir leçon LXIV), se trouve un grand désert appelé le *Sahara*. Il est formé de plaines sablonneuses,

ANIMAUX DE L'AFRIQUE.

1, Hippopotame ; 2, buffle ; 3, lion ; 4, chacal ; 5, gorille ; 6, lémur ; 7, babouin ; 8, chimpanzé ; 9, martin-pêcheur ; 10, girafe ; 11, zèbre ; 12, éléphant ; 13, dromadaire ; 14, coudou ; 15, gazelle ; 16, gnou, ; 17, antilope oryx ; 18, autruche ; 19, antilope noire ; 20, rhinocéros ; 21, babiroussa ; 22, phacochère ; 23, crocodile.

arides et salées, de collines rocheuses et nues. On y trouve des points fertiles et habités, appelés *oasis*.

566. **Golfes.**—Le golfe de la *Sidre*, dans la Méditerranée ;—le golfe d'*Aden*, à l'entrée de la mer *Rouge* ;—le golfe de *Guinée*, dans l'Atlantique.

567. **Détroits.**— Le détroit de *Gibraltar*, entre l'Afrique et l'Espagne ;—le détroit de *Bab-el-Mandeb*, à l'entrée de la mer Rouge ;—le canal de *Mozambique*, à l'O. de l'île de Madagascar.

568. **Fleuves.**—Le *Nil*, arrose l'Egypte et la rend fertile ;—le *Sénégal* et la *Gambie*, en Sénégambie ;—le *Niger*, en Guinée ;—le *Congo*, dans l'Afrique centrale ; — l'*Orange*, dans le sud ;—le *Zambèze*, dans le Mozambique.

569. **Lacs.**—Le lac *Tchad*, dans le Soudan ;—les lacs *Albert*, *Victoria*, *Tanganika* et *Nyassa*, dans l'est.

570. **Climat.**—Le climat de l'Afrique est très chaud et généralement très sec. Il est ordinairement malsain sur les côtes orientale et occidentale. Sur la côte septentrionale et à l'extrémité australe, il est tempéré.

571. **Productions.** — *Minéraux.* On trouve de la poudre d'or, en différents endroits, et des diamants, dans le bassin de l'Orange. — *Végétaux.* Les végétaux les plus remarquables et les plus utiles sont : le baobab, le palmier, l'oranger, le dattier, le caféier, etc.

572. Les *animaux* les plus remarquables sont : le lion, le rhinoceros, l'hippopotame, la girafe, l'éléphant ; on compte plus de 60 espèces d'antilopes. Les serpents abondent dans les forêts, et les crocodiles dans les rivières. Les insectes s'y trouvent en abondance ; les fourmis et les sauterelles y font de grands dégâts.

573. **Population.**—Les Africains du nord sont des *blancs*. La plupart des autres sont des *nègres* sauvages.

574. Il n'y a guère d'états importants en Afrique. La plus grande partie du continent connue, appartient à des puissances européennes. Les *gouvernements* indigènes sont despotiques. La *religion mahométane* domine dans le nord ; ailleurs les naturels sont adonnés à l'idolâtrie la plus dégradante.

575. L'intérieur de l'Afrique n'est que bien imparfaitement connu ; ce qui est dû à son climat brûlant et malsain, et au manque de baies et de rivières navigables.

576. **Divisions.**—Les principales contrées de l'Afrique sont : les *états barbaresques*, l'Egypte, l'Abyssinie, le Somaul, le Zanguebar, le Mozambique, la Cafrerie, l'île de Madagascar, la colonie du Cap, la Guinée méridionale, la Guinée septentrionale, la Sénégambie, le Soudan et le Congo.

LEÇON LXIV.

ETATS BARBARESQUES.

Superficie totale, 980,000 m. c.

577. La *Barbarie* est située sur l'Atlantique et la Méditerranée ; son nom lui vient des habitants primitifs, nommés *Berbères*, qui habitent maintenant les monts Atlas, par lesquels la contrée est traversée.

578. Elle comprend les états suivants :

I. Le **Maroc**, 7,500,000 hab., indépendant ;—capitale, *Fez*, 100,000 hab.;

II. L'**Algérie**, 3,800,000 hab., appartenant à la France ;—cap., *Alger ;*

III. La **Tunisie**, 1,500,000 hab., dépendant de la France ;—cap., *Tunis ;*

IV. Le **Tripoli**, 1,000,000 d'hab., dépendant de l'empire turc ;—cap., *Tripoli.*

579. Les *Mores* ou Maures habitent les villes et les villages, mais les *Arabes* mènent une vie errante.

580. Les états barbaresques *exportent* des bestiaux, des cuirs (le *maroquin* du Maroc), des laines et des fruits : figues, dattes, etc.

LEÇON LXV.

EGYPTE.

Pop., 7,000,000 d'hab. — **Sup.**, 400,000 m. c.

581. L'*Egypte* est située sur la Méditerranée, dans le nord de l'Afrique. Son histoire primitive est en partie rapportée dans la sainte Bible. Elle est fameuse par ses antiquités, dont on trouve encore de magnifiques ruines.

582. Le *climat* y est extrêmement chaud. Le *sol* y est rendu très fertile par les débordements du Nil.

583. Les *habitants* sont des Arabes, des Coptes, des Turcs, des Juifs, des Arméniens et des Grecs.

584. Cette contrée appartient à la Turquie et est gouvernée par un *khédive*. La *religion mahométane* y domine.

585. La **Nubie**, située entre l'Abyssinie et l'Egypte, appartient à ce dernier pays.

586. **Villes.**—*Le Caire*, 380,000 hab., capitale, est bâtie sur le Nil.—*Alexandrie*, 230,000 hab., est la principale place de commerce.—*Thèbes*, renferme des ruines fameuses.

587. L'isthme de Suez est percé par un *canal* qui permet aux vaisseaux de passer de la Méditerranée à la mer Rouge. —L'Egypte *exporte* du coton, du blé, du sucre et des fruits.

ABYSSINIE.

Pop., 5,000,000 d'hab.—**Sup.**, 200,000 m. c.

588. L'*Abyssinie* est située sur la mer Rouge, au sud de l'Egypte. Son *climat* est tempéré.

589. Elle forme un *empire* dont le *gouvernement* est *despotique*.

590. *Gondar*, 6,000 hab., est sa capitale.

591. L'Abyssinie *exporte* des laines, du miel, du café et du blé.

LEÇON LXVI.

AFRIQUE ORIENTALE.

592. L'*Afrique orientale* comprend le littoral de l'océan Indien depuis le Bab-el-Mandeb jusqu'à la Cafrerie.

593. On y trouve, en commençant par le nord :

I. Le **Somaul** ou pays des *Somaulis*, ville principale *Berbéra ;*

II. Le **Zanguebar**, appartenant en partie aux Anglais et aux Allemands, ville principale *Zanzibar* 70,000 hab., sur une île du même nom ;

III. Le **Mozambique**, appartenant aux Portugais ; cap., *Mozambique ;*

IV. La **Cafrerie** ou pays des *Cafres*, appartenant en partie aux Anglais et aux Portugais.

594. **Madagascar** est une grande île à l'est de l'Afrique, séparée de la terre ferme par le canal de Mozambique. *Tananarive* en est la capitale. Ses habitants s'appellent *Malagaches* ou *Malgaches*.

595. Ces pays *exportent* de l'ivoire, des peaux, de la cire et du caoutchouc.

LEÇON LXVII

AFRIQUE AUSTRALE.

596. L'*Afrique australe* comprend :

I. La république du **Transvaal**, cap. *Pretoria ;*

II. La république de l'**Orange**, cap. *Bloemfontein ;*

III. La colonie de **Natal**, cap. *Pietermaritzbourg ;*

IV. La colonie du **Cap**, cap. *le Cap* (*Cape-Town*), 60,000 hab.;

V. La **Hottentotie allemande**.

597. La république du Transvaal, les colonies de Natal et du Cap, dépendent de l'Angleterre. Une grande partie des habitants sont d'origine européenne : Anglais et Hollandais.

598. L'Afrique australe *exporte* des laines, des peaux, du bétail vivant, des plumes d'autruche et des diamants (des bords de l'Orange).

LEÇON LXVIII.

AFRIQUE OCCIDENTALE.

599. L'*Afrique occidentale* se divise en trois régions principales : la *Guinée méridionale*, la *Guinée septentrionale* et la *Sénégambie*.

600. La *Guinée méridionale* comprend :

I. les colonies portugaises de **Benguela**, de l'**Angola** et du **Congo portugais** ;

II. le **Gabon-Congo** ou Congo français ;

III. le **Cameron**, appartenant aux Allemands.

601. La *Guinée septentrionale* comprend :

I. Les royaumes du **Dahomey** et de l'**Achanti** ;

II. La **côte d'Or**, la **côte d'Ivoire**, la **côte des Esclaves**, appartenant aux Anglais ;

III. La **Libérie**, pays libre ;

IV. Le **Sierra-Leone**, aux Anglais.

602. La *Sénégambie* comprend principalement :

I. La **Gambie**, aux Anglais ;

II. Le **Sénégal**, aux Français.

603. **Villes.**— Parmi les principales villes de l'Afrique occidentale, il faut citer :

Saint-Paul, cap. du Loanda ;

Monrovia, cap. de la Libérie ;

Freetown, cap. du Sierra-Leone ;

Saint-Louis, cap. du Sénégal.

604. L'Afrique occidentale *exporte* de la poudre d'or, du poivre, de la gomme[1], du caoutchouc et de l'ivoire.

LEÇON LXIX.

AFRIQUE CENTRALE.

605. L'*Afrique centrale* comprend : le *Sahara*, le *Soudan* et le *Congo*.

606. Les *oasis* du **Sahara** renferment une population d'environ 4,000,000 d'hab.

607. Le **Soudan** est la partie de l'Afrique intérieure située au sud du Sahara.—Il est divisé en plusieurs petits états, dont le principal est le *Soudan égyptien*, ou les **Etats du Mahdi**, capitale *Kartoum*.

608. Le **Congo libre** est formé du bassin du fleuve Congo ; sa capitale est *Boma*.

609. L'Afrique centrale *exporte* de la poudre d'or, de la gomme, de l'ivoire et des plumes d'autruche.

---

1 *Gomme arabique*, qui découle d'un arbre appelé *acacia*.

ANIMAUX DE L'OCÉANIE.

1 et 2, Kanguroos géants ; 3, wombat ; 4, mouton ; 5, kanguroo-rat ; 6, ornithorhynque ; 7, chat sauvage ; 8, dragon volant ; 9, menure ; 10, perroquet ; 11, faisan ; 12, oiseau de paradis ; 13, casoar ; 14, aptéryx ; 15, cygne noir ; 16, émou.

OCÉANIE.

LEÇON LXX.

GEOGRAPHIE GENERALE DE L'OCEANIE.

Population, 40,000,000 d'habitants.
Superficie, 4,600,000 milles carrés.

610. **Bornes.**—L'Océanie s'étend à l'O., jusque vers l'Asie et l'océan Indien ; à l'E., jusque vers l'Amérique ; au S., jusqu'au pôle austral.

611. **Divisions.**—On divise généralement l'Océanie en trois grandes parties : la *Malaisie*, l'*Australasie* et la *Polynésie*[1] (voir leçons suiv.).

612. **Montagnes.**—Les montagnes *Bleues*, dans l'Australie.—Les *volcans* sont nombreux dans les îles Malaises, qui sont très montagneuses.

613. **Golfe.**—Le plus remarquable est le golfe de *Carpentarie*, au nord de l'Australie.

614. **Détroits.**—Le détroit de la *Sonde*, entre Sumatra et Java ;—le détroit de *Torrès*, entre l'Australie et la Nouvelle-Guinée ;—le détroit de *Bass*, entre la Tasmanie et l'Australie.

615. **Climat.**—Le climat de l'Océanie est généralement *tempéré* et *humide*, à cause des brises de la mer, qui viennent constamment rafraîchir les terres.

616. **Productions.**—Les productions naturelles sont les mêmes dans la Malaisie que dans les Indes asiatiques; on cite comme espèces propres l'orang-outang de Bornéo et de Sumatra, le muscadier et le giroflier des Moluques. — L'Australie est riche en *mines* d'or, de cuivre et de houille, et possède des espèces *animales* particulières : kanguroo, ornithorhynque[1], oiseaux du paradis, aptéryx ou oiseau sans ailes.

617. **Races humaines.**—L'Océanie est peuplée par la *race brune*, surtout dans la Malaisie. L'Australie a des *noirs* indigènes et sauvages, et une nouvelle population coloniale qui se compose de *blancs* venus d'Europe.

618. **Religion.**—Les Malais sont généralement *mahométans ;* les noirs sont *païens*, et les blancs sont *chrétiens*.

1 On donne souvent le nom de *Micronésie* à la partie de la Polynésie qui est située au nord de l'équateur.

1 *Ornithorhynque*, petit quadrupède dont le museau ressemble à un bec de canard.

619. **Condition politique.**—L'Océanie presque entière appartient à des puissances européennes : la Malaisie aux *Hollandais* et aux *Espagnols* surtout, et l'Australie aux *Anglais*.

LEÇON LXXI.

MALAISIE.

620. Les **colonies hollandaises** de la Malaisie ont une *population* de 28,000,000 d'hab., et comprennent les iles de *Sumatra* et de *Java* (îles de la *Sonde*), de *Bornéo*, de *Celèbés* et les *Moluques*.

621. **Ville.**—*Batavia*, 100,000 hab., dont 4,000 Européens, capitale et port de mer, située sur l'île de Java.

622. *Exportation* de thé, de café, de sucre, d'étain et d'épices (des Moluques).

623. Les **colonies espagnoles** de la Malaisie ont une *population* de 9,000,000 d'hab., et sont formées des îles *Philippines*.

624. **Ville.**— *Manille*, 200,000 hab., cap., port de mer.

625. La Malaisie espagnole *exporte* du sucre, du tabac et des cigares, des cordages, des perles, etc.

LEÇON LXXII.

AUSTRALASIE.

626. Les **colonies anglaises** de l'Australasie ont une *population* de 4,200,000 hab., et comprennent l'*Australie* ou continent australien et les îles de la *Tasmanie* et de la *Nouvelle-Zélande*.

627. L'Australie est divisée en cinq états :

I. La colonie de **Victoria** ; cap., *Melbourne*, 400,000 hab., port le plus commerçant de l'Océanie ;

II. La **Nouvelle-Galles du Sud** ; cap., *Sydney*, 300,000 hab.;

III. Le **Queensland** ; cap., *Brisbane*, 40,000 hab.;

IV. L'**Australie méridionale** ; cap., *Adélaïde*, 80,000 hab.;

V. L'**Australie occidentale** ; cap., *Perth*, 7,000 habitants.

628. La **Tasmanie** a pour cap. *Hobart-Town*, 35,000 hab ;—et la **Nouvelle-Zélande**, *Wellington* ; —ville principale, *Auckland*, 50,000 hab.

629. Les colonies anglaises de l'Australasie élèvent de nombreux troupeaux de vaches à lait et de moutons dont elles *exportent* les produits : peaux, laines, viandes, beurre, fromage. Elles exportent aussi de l'*or*.

630. Outre le continent et les îles déjà nommées, l'Australasie comprend plusieurs autres îles, dont les principales sont la *Nouvelle-Guinée* ou *Papouasie*, les *Nouvelles-Hébrides* et la *Nouvelle-Calédonie*.

LEÇON LXXIII.

POLYNESIE.

631. La *Polynésie* comprend toutes les îles de l'océan Pacifique qui ne sont pas incluses dans les deux divisions précédentes.

632 Un grand nombre de ces îles sont l'ouvrage d'animalcules qui se créent de petites loges calcaires et forment des îlots qui se couvrent ensuite de sable, d'herbes marines, et deviennent ainsi habitables.

633. L'état libre le plus important de la Polynésie est celui d'**Hawaii** ou des îles *Sandwich*, 85,000 hab.; cap., *Honolulu*, port très fréquenté, se trouvant sur la route de San-Francisco à la Chine.

634. Les autres principaux groupes d'îles sont : les îles *Marquises* et *Taïti*, aux Français ; les îles *Fidji*, aux Anglais ; les îles des *Amis*, de la *Société*, *Samoa* ou des *Navigateurs* et les *Carolines*, dont les habitants sont d'habiles marins.

LA TERRE.

RESUME.

Hémisphères.—Occidental, oriental.
Parties du monde.—Amérique (septentrionale et méridionale), Europe, Asie, Afrique, Océanie.
Iles.—HÉMISPHÈRE OCCIDENTAL : Groënland, Terre-Neuve, Antilles, etc. —HÉMISPHÈRE ORIENTAL : îles du Japon, Philippines, Nouvelle-Guinée, Tasmanie, Celèbes, Bornéo, Java, Sumatra, Madagascar, Britanniques.
Isthmes.—Panama, Suez.
Caps.—HÉM. OCC. : Barrow, Farewell, Gallinas, St-Roch, Horn, Blanc. —HÉM. ORIEN.: Nord, Nord-Est, Comorin.
Montagnes. — HÉM. OCC.: monts Rocheux, Cordillères des Andes. — HÉM. ORIEN.: Ourals, Altaï, Hymalayas, Atlas, Alpes, Caucase.
Océans.—Atlantique, Pacifique, Indien, Arctique, Antarctique.
Mers.—HÉM. OCC.: d'Hudson, des Antilles.—HÉM. ORIEN. : de Chine, d'Arabie, Rouge, Méditerranée, Noire, Caspienne, du Nord, Baltique.
Golfes et Baies.—HÉM. OCC.: Baffin, St-Laurent, Mexique, Californie. —HÉM. ORIEN.: de Bengale, Persique, de Guinée, de Gascogne.
Détroits.—HÉM. OCC. : Davis, Magellan, Behring. — HÉM. ORIEN. : Malacca, Bab-el-Mandeb, Mozambique, Gibraltar, Pas de Calais.
Fleuves.—HÉM. OCC.: Mackenzie, St-Laurent, Mississipi, Rio Grande, Orénoque, Amazone.—HÉM. ORIEN. : Obi, Iénisséi, Léna, Amour, Yang-tse-Kiang ou Bleu, Congo, Niger, Nil, Volga, Oural.

Les cinq parties du monde.

	Population.	Superficie m. c.	Pop. rel.[1]
Amérique	125,083,239	15,654,883	8
Europe	362,700,000	3,762,600	97
Asie	810,000,000	16,025,000	55
Afrique	139,950,000	12,134,200	11
Océanie	42,000,000	4,115,300	10
Totaux	1,479,733,239	51,691,983	

1 *Population relative*, nombre d habitants par mille carré.

Les douze plus grandes villes du globe.

	Populat.		Populat.
Londres, *Angleterre*	4,400,000	Vienne, *Autriche*	1,300,000
Paris, *France*	2,500,000	Philadelphie, *Etats-Unis*	1,100,000
New-York, *Etats-Unis*	1,800,000	Chicago, *Etats-Unis*	1,100,000
Canton, *Chine*	1,600,000	St-Pétersbourg, *Russie*	1,000,000
Berlin, *Allemagne*	1,600,000	Pékin, *Chine*	1,000,000
Tokio, *Japon*	1,400,000	Constantinople, *Turquie*	880,000

EXERCICES.

1. Que représente cette carte ?
2. Comment appelle-t-on la partie de droite ?—Celle de gauche ?
3. Montrez le pôle arctique.—Le pôle antarctique.
4. Montrez le tropique du Cancer.—Celui du Capricone.
5. Montrez la zone torride.—Les zones tempérées.
6. Montrez les méridiens.—Montrez les parallèles.
7. Montrez l'équateur.—Le premier méridien.
8. Montrez des îles.—Des presqu'îles.
9. Montrez l'ancien continent.—Le nouveau continent.
10. Où est placé le nord sur la carte ?—Le sud ?—L'ouest ?
11. Montrez l'Amérique septentrionale.—L'Europe.—L'Asie.—L'Océanie.
12. Laquelle de ces contrées est la plus au nord ? *A*.
13. La plus au sud ? *A*.—La plus à l'est ? *A*.
14. Quelle partie du monde est à l'est de l'Europe ? *A*.
15. Montrez le Canada.—Les Etats-Unis.—L'Australie.
16. Quel océan est situé entre l'Amérique et l'Europe ? *A*.
17. —Entre l'Amérique et l'Asie ? *P*.
18. Quel océan se trouve au nord de l'Europe et de l'Asie ? *A*.
19. Montrez le principal golfe de l'Amérique septentrionale. *M*.
20. Quelle mer sépare l'Europe de l'Afrique ? *M*.
21. Quel détroit sépare l'Asie de l'Amérique ? *B*.
22. Quel isthme unit les deux Amériques ? *P*.
23. Quel cap est situé à l'ouest de l'Amérique méridionale ? *B*.
24. Quel cap se trouve au sud de l'Afrique ? *B.-E.*
25. Quel cap est situé au N. de l'Europe ? *N*.—Au S. de l'Asie ? *C*.
26. Quelles montagnes sont situées à l'O. de l'Amérique septentrionale ? *R*.—A l'O. de l'Amérique méridionale ? *A*.
27. Quelles montagnes séparent l'Europe de l'Asie ? *O*.
28. Montrez, dans l'Asie, les monts Himalayas.
29. Quelles eaux traverserait-on et quel cap doublerait-on pour aller de New-York à San-Francisco ? *O. A., c. H., o. P.*—Du Canada en Australie ? *O. A., c. B. E., o. P.* ou *O. A., c. H., o. P.*

16. Quel océan est situé entre l'Amérique et l'Europe ? A.

Canada en Australie ? O.

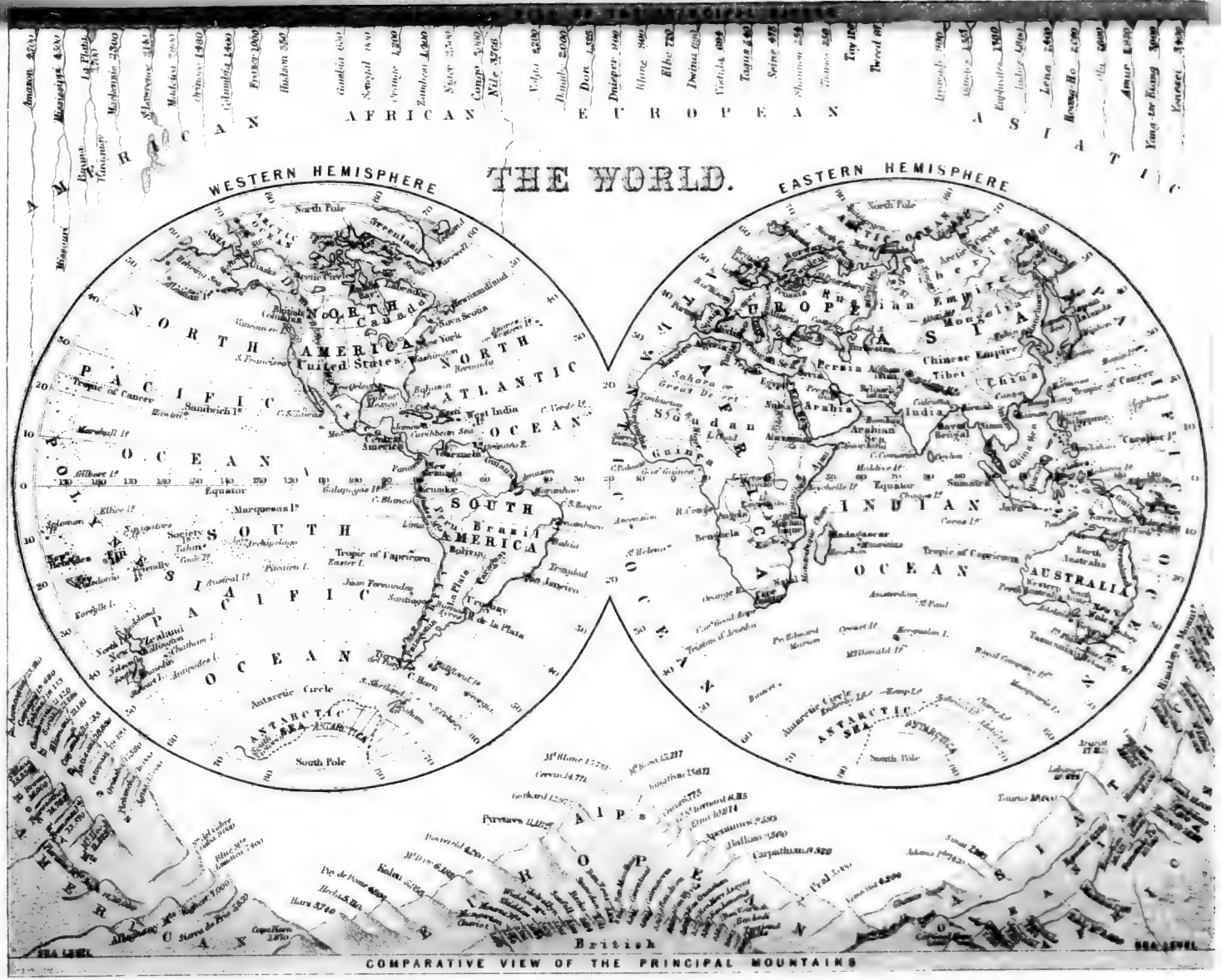

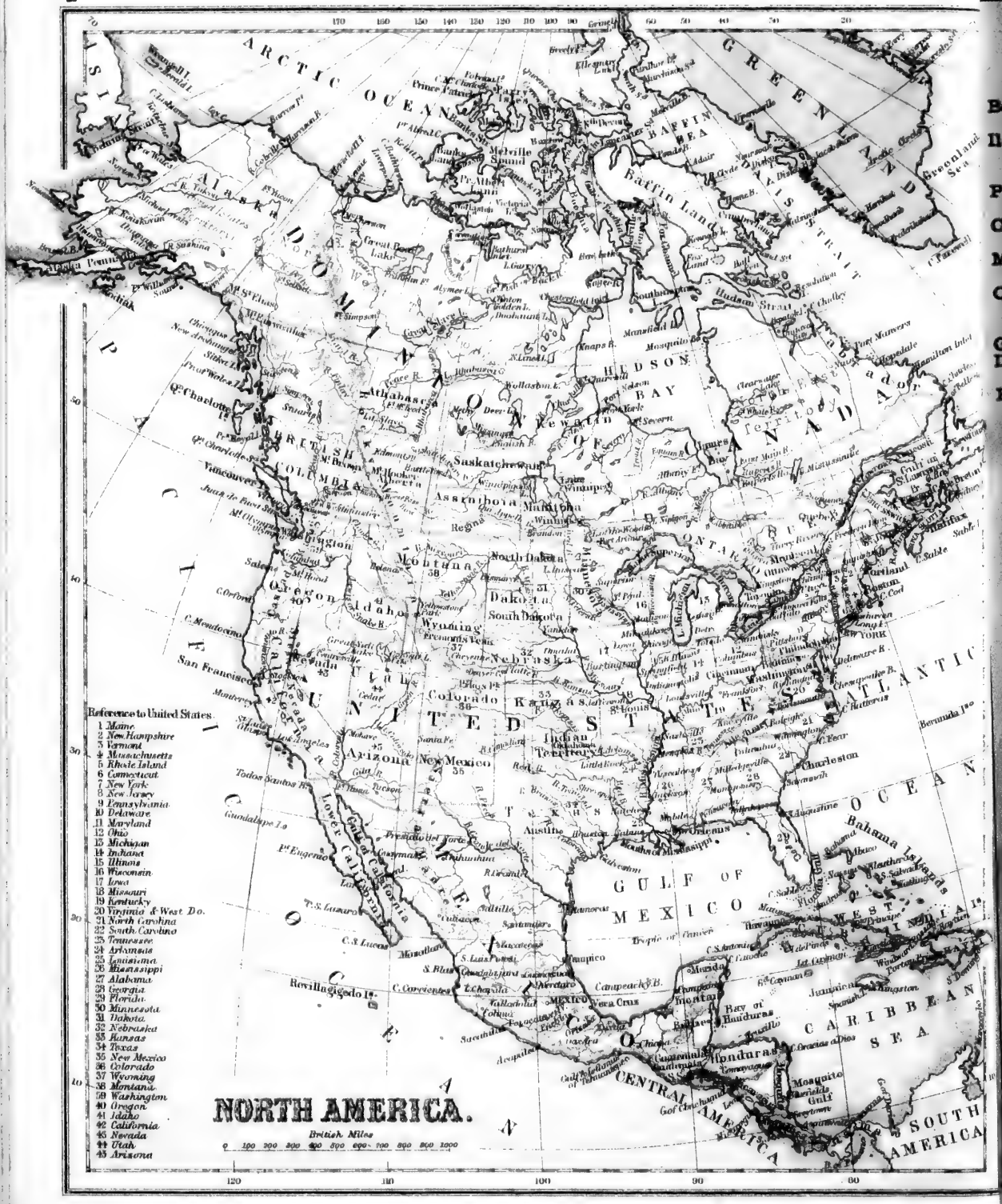
NORTH AMERICA.
British Miles
0 100 200 300 400 500 600 700 800 900 1000
Reference to United States.
1 Maine
2 New Hampshire
3 Vermont
4 Massachusetts
5 Rhode Island
6 Connecticut
7 New York
8 New Jersey
9 Pennsylvania
10 Delaware
11 Maryland
12 Ohio
13 Michigan
14 Indiana
15 Illinois
16 Wisconsin
17 Iowa
18 Missouri
19 Kentucky
20 Virginia & West Do.
21 North Carolina
22 South Carolina
23 Tennessee
24 Arkansas
25 Louisiana
26 Mississippi
27 Alabama
28 Georgia
29 Florida
30 Minnesota
31 Dakota
32 Nebraska
33 Kansas
34 Texas
35 New Mexico
36 Colorado
37 Wyoming
38 Montana
39 Washington
40 Oregon
41 Idaho
42 California
43 Nevada
44 Utah
45 Arizona
ARCTIC OCEAN
GREENLAND
BAFFIN BAY
Baffin Land
Melville Sound
ALASKA
DOMINION OF CANADA
HUDSON BAY
Athabasca
Saskatchewan
Assiniboia
Manitoba
Winnipeg
Regina
BRITISH COLUMBIA
Victoria
Vancouver
Quebec
Halifax
Montreal
Ottawa
Toronto
Portland
Boston
NEW YORK
Philadelphia
Washington
Cincinnati
Chicago
St Louis
Charleston
Savannah
New Orleans
Galveston
Austin
Denver
Salt Lake
Cheyenne
Helena
Portland
San Francisco
Sacramento
Los Angeles
Monterey
Santa Fe
Tucson
Prescott
Mexico
Vera Cruz
Tampico
Campeche
Merida
Havana
Kingston
Jamaica
Bahama Islands
WEST INDIES
CARIBBEAN SEA
GULF OF MEXICO
ATLANTIC OCEAN
Bay of Honduras
Honduras
Mosquito Fields
Gulf
CENTRAL AMERICA
SOUTH AMERICA
UNITED STATES
Oregon
Idaho
Montana
Dakota
North Dakota
South Dakota
Wyoming
Nebraska
Colorado
Kansas
Utah
Nevada
Arizona
New Mexico
Indian Territory
TEXAS
Lower California
Gulf of California
Revillagigedo Is.
Bermuda Is.

RESUME[1].

Bornes.—Océan Arctique, océan Atlantique, mer des Antilles, golfe du Mexique, océan Pacifique.

Iles.—Groënland, Islande, Terre-Neuve, Prince-Edouard, Antilles (Cuba, Haïti, Porto-Rico, Jamaïque, etc.), *Vancouver*, *Reine-Charlotte*.

Presqu'îles.—Nouvelle-Ecosse, Floride, Yucatan, Vieille-Californie (ou Basse-Californie), *Alaska*.

Caps.—*Barrow*, Farewell, *Charles*, Race, *Sable*, Cod, Hatteras, Sable, San-Lucas, Mendocino.

Montagnes.—Alléghanys, *Sierra Madré*, *Sierra Nevada*, *Cascades*, Rocheuses, Popocapteptl.

Océans et Mers.—Arctique, Baffin et Hudson (mers ou baies), Atlantique, Antilles, du Mexique (mer ou golfe), Pacifique, Behring.

Golfes et Baies.—St-Laurent, *Fundy*, de Californie.

Détroits.—Behring, *Davis*, *Hudson*, Belle-Isle, Floride, Yucatan.

Rivières.—Mackenzie, St-Laurent, Mississipi, *Rouge*, Arkansas, Ohio, Missouri, Rio Grande, *Colorado*, *Colombie*.

Lacs.—Des Ours, des Esclaves, *Winnipeg*, Supérieur, Michigan, Huron, Erié, Ontario.

Divisions.

CONTRÉES.	Population.	Superficie m. c.	Pop rel.	Capitales.
Groënland....	10,000	530,000	—	*Godthaab.*
Islande	70,000	40,000	2	*Reykiavik.*
Canada.....	4,833,239	3,456,383	1	Ottawa.
Terre-Neuve..	200,000	42,000	5	Saint-Jean.
Etats-Unis et Alaska.	63,000,000	3,602,000	18	Washington.
Mexique	12,000,000	740,000	16	Mexico.
Guatémala....	1,400,000	46,000	30	Nouv.-Guatémala.
Honduras....	430,000	44,000	10	Tégucigalpa.
San-Salvador..	650,000	7,500	86	San-Salvador.
Nicaragua....	350,000	52,000	7	Nicaragua.
Costa-Rica....	240,000	20,000	12	San-José.
Antilles.....	5,300,000	95,000	54	
Totaux.....	89,383,239	8,724,883		

1 Dans ce *résumé* et ceux qui suivent, on a mis en italique les noms qui ne se rencontrent pas dans le *texte*.

EXERCICES.

1. Par quel océan l'Amérique septentrionale est-elle bornée au nord ? *A.*
2. Par quel océan est-elle bornée à l'est ? *A.*
3. Quelle mer est située au nord ? *H.*
4. Quelle contrée occupe le nord ? *C.*
5. Quelle contrée occupe le milieu ? *E.-U.* (*U.S.*)
6. Quelle est la capitale du Canada ? *O.*—Celle des Etats-Unis ? *W.*
7. Nommez et montrez la capitale du Mexique. *M.*—Celle du Guatémala. *N.-G.*
8. Quelle grande île est située à l'E. du Canada ? *T.-N.*
9. Quelles sont les deux grandes îles situées à l'ouest ? *R.-C.* (*Q. C.*), *V.*
10. Nommez les trois principales îles situées au sud-est des Etats-Unis. *C.*, *H.*, *J.*
11. Quelle presqu'île est située au sud-est du Canada ? *N.-E.* (*N. S.*)
12. Quelles sont les deux presqu'îles qui entourent une partie du golfe du Mexique ? *F.*, *Y.*—Celle qui est située au N.-O. du Mexique ? *V.-C.*
13. Quelle presqu'île est située à l'O. du Canada ? *A.*
14. Montrez le Groënland. (*Greenland*) (70).
15. Quel est le cap situé au S.-O. de la Nouvelle-Ecosse ? *S.*
16. Quel cap est situé au sud de la Basse-Californie ? *S.-L.*—A l'O. des Etats-Unis ? *M.*
17. Quelles montagnes sont situées dans l'ouest du Canada ? *R.*
18. Quelle chaîne de montagnes occupe l'E. des Etats-Unis ? *A.*
19. Quel golfe se trouve à l'E. du Canada ? *S.-L.*
20. Quelle mer trouve-t-on au sud-est du golfe du Mexique ? *A.* (*C.*)
21. Quel golfe est situé à l'O. du Mexique ? *C.*
22. Montrez le détroit d'Hudson.—(62).
23. Quel détroit unit la mer de Baffin à l'Océan ? *D.*
24. Quels lacs se trouvent entre les Etats-Unis et le Canada ? *S.*, *H.*, *E.*, *O.*
25. Montrez le grand lac des Ours (*Great Bear*);—le lac des Esclaves (*G. Slave*);—le lac Winnipeg.
26. Quel fleuve coule vers le nord et se décharge dans l'océan Arctique ? *M.*
27. Quel est le fleuve qui, coulant vers l'est, se jette dans l'Atlantique ? *S.-L.*
28. Quel est le fleuve qui, traversant les Etats-Unis, se jette dans le golfe du Mexique ? *M.*
29. Quel est le principal affluent du Mississipi ? *M.*
30. Quelles eaux traverserait-on pour aller de Québec à New-York ? *F. S.-L.*, *g. S.-L.*, *o. A.* — De New-York à la Nouv.-Orléans ? *O. A.*, *g. M.*, *f. M.*

PUISSANCE DU CANADA.—(Carte No. 3.)

1 Par quoi la Puissance du Canada est-elle bornée au Nord ?
2 Par quoi est-elle bornée à l'Est ? *G-S-L*
3 Par quoi est-elle bornée au Sud ? *E-U.*—A l'Ouest ? *O. P.*
4. De combien de Provinces la Puissance est-elle composée ?
5. Quelles sont les Provinces contenues sur cette carte ? *Oo.*, *Qc.*, *N-B.*, *N-S*, *P-E-I.*, *Nd.*
6. Laquelle de ces Provinces ne fait pas partie de la Puissance ? *Nd.*—Laquelle est la plus à l'Est ? *NS*
7. —La plus au Sud ? *Oo*—La plus au Nord ? *Qc.*
8. Quelle est la capitale d'Ontario ? *To*—De Québec ? *Qc*
9. Quelle est la capitale du Nouveau-Brunswick ? *Fn.*
10. —La cap. de la Nouvelle-Ecosse ? *Hx.*—De l'Ile du Prince-Edouard ? *Ch.*—Montrez le Golfe St-Laurent. (48–60)
11 Quelle île est située au Nord du Golfe St-Laurent ? *Ai*
12. Quelle est celle qui est située à l'Est ? *Nd.*
13. Quelles sont les deux qui sont au Sud ? *P-E-I.*, *C-B*
14. Quel groupe d'îles se trouve au milieu ? *Mn.*
15. Quel autre groupe se trouve daus la Canal Canadien, au N de l'Ile Anticosti ? *Mn.*—Montrez le Lac Huron
16. Quelle grande île est située dans ce Lac ? *Mn.*
17. Montrez le Fleuve St-Laurent.—La Baie des Chaleurs.
18. Quelle presqu'île est formée par le St-Laurent et la Baie des Chaleurs ? (*Gaspé*).
19. Quelle presqu'île est située au Sud du Golfe St-Laurent ? *N-S.*
20. Montrez la péninsule formée d'une partie de la Province d'Ontario (44–80).
21. Montrez l'Isthme de Chignecto. (*Entre le N-B. et la N-E.*)
22. Montrez et nommez les caps situés dans le Golfe St-Laurent. *We.*, *Ry.*, *S-L.*, *Gé.*
23. Quels sont les trois principaux caps de la Nouvelle-Ecosse ? *C-B.*, *Co.*, *Se.*
24. Quelles sont les deux principales baies formées par le Golfe St-Laurent à l'Ouest ? *Cr.*, *Mi.*
25. Quelle baie est située entre le N-B. et la N-Ecosse ? *Fu.*
26 Quelle baie est formée par le Lac Huron, dans la Puissance ? *Gn*
27. Quel détroit sépare l'Ile du Prince-Edouard du Nouveau-Brunswick et de la Nouvelle-Ecosse ? *Nd.*
28 Quel détroit sépare l'Ile du Cap-Breton de la N-Ecosse ? *Co.*
29 Par quel détroit Terreneuve se trouve-t-elle séparée du Canada ? *B-I.*
30 Quelle grande rivière se jette dans le St-Laurent au-dessus du 48e degré de latitude ? *Sy.*
31. Quel grand lac est formé par le Saguenay ? *S-J.*
32 Quelles sont les principales rivières qui se jettent dans le St-Laurent à l'E. du Saguenay ? *Pf.*, *Be.*, *R-O.*, *Mn.*, *Pt.*, *S-M.*
33. Montrez la Rivière St-Maurice.
34 Quelle rivière sépare la Province d'Ontario de celle de Québec ? *Oa.*
35 Quels sont les deux principaux lacs situés aux sources de l'Outaouais ? *Gd.*, *Tg.*
36 Quels sont les grands lacs qui forment une partie des limites de la Province d'Ontario ? *Sr.*, *Hn.*, *Eé.*, *Oo.*
37. Montrez dans le Nord de la Province d'Ontario, le Lac Tamagamingue.
38 Par quel fleuve est arrosée une partie du Nouveau-Brunswick ? *S-J.*
39. Quelles sont les deux Provinces qui ne sont pas contenues dans cette carte ? *Ma.*, *Ca.* (Voyez la carte de l'Am. Sept).
40. Montrez la Province de Manitoba. (59–97).
41. Quels lacs sont situés au N. de cette Province ? *Ma. et Wg.*
42. Par quelle rivière est-elle arrosée ? *Rd. et Assiniboine.*
43. Montrez la Province de Colombie. (55–125).
44. Par quelles montagnes est-elle bornée à l'Est ? *Ry.* (*M. Rocheuses*).—Par quel océan est-elle bornée à l'Ouest ? *Pc.*
45. Par quel fleuve est-elle arrosée ? *Fr.*
46. Quelle île est située au Sud-Est de cette Province ? *Vr.*
47. Quelle est la cap. de la Colombie ? *Va.*—De Manitoba ? *Wg*
48. Montrez le Territoire du Nord Ouest.

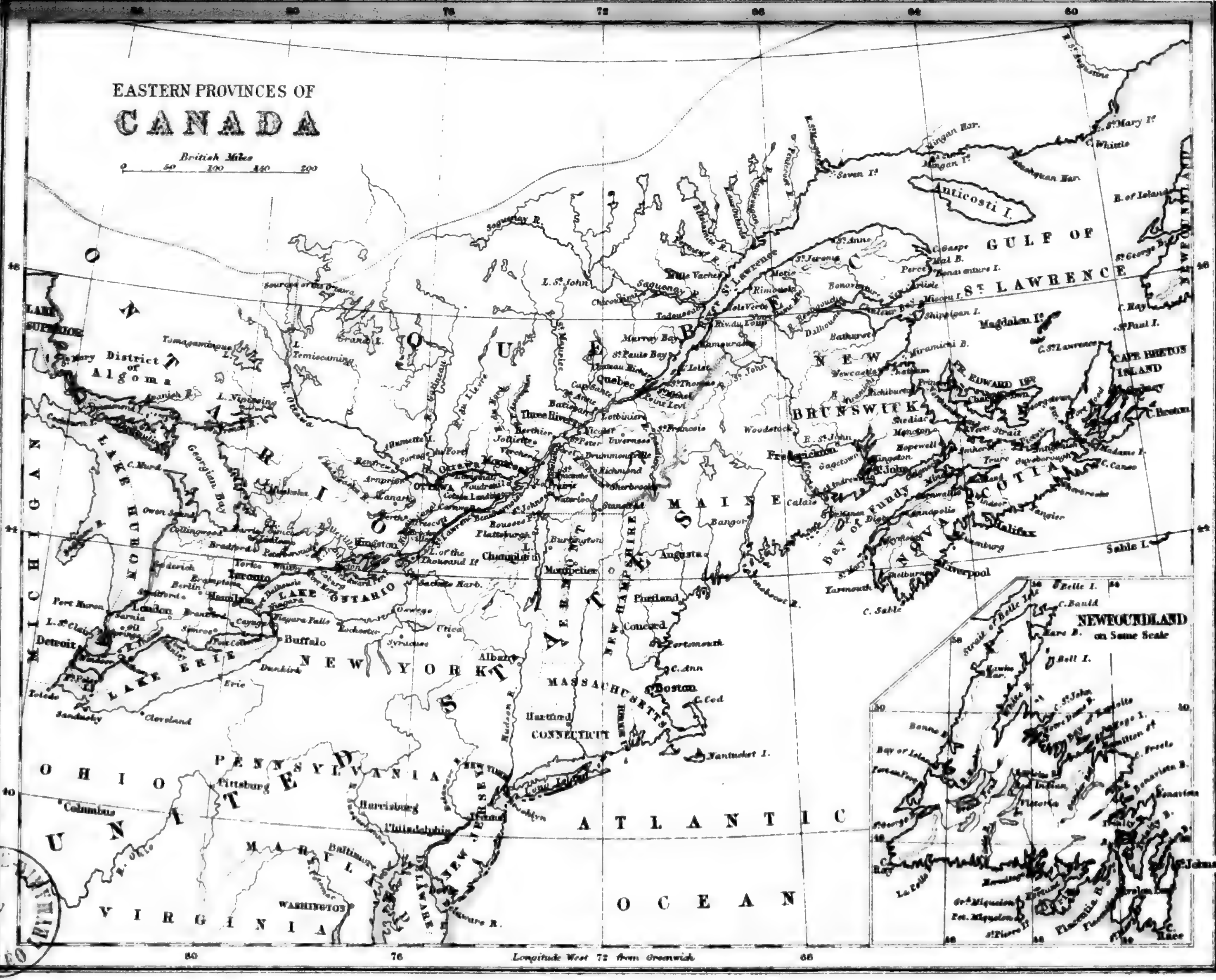
EASTERN PROVINCES OF
CANADA
British Miles
0 50 100 150 200
ONTARIO
QUEBEC
NEW BRUNSWICK
NOVA SCOTIA
P. EDWARD ID.
CAPE BRETON ISLAND
NEWFOUNDLAND
GULF OF ST LAWRENCE
Anticosti I.
Magdalen Is.
District of Algoma
LAKE SUPERIOR
LAKE HURON
Georgian Bay
LAKE ONTARIO
LAKE ERIE
MICHIGAN
UNITED STATES
MAINE
VERMONT
NEW HAMPSHIRE
MASSACHUSETTS
CONNECTICUT
NEW YORK
PENNSYLVANIA
NEW JERSEY
DELAWARE
MARYLAND
VIRGINIA
OHIO
ATLANTIC OCEAN
Bay of Fundy
Quebec
Montreal
Ottawa
Kingston
Toronto
Hamilton
London
Three Rivers
Fredericton
St. John
Halifax
Boston
Portland
Albany
Buffalo
Detroit
Cleveland
Columbus
Pittsburg
Harrisburg
Philadelphia
Baltimore
WASHINGTON
NEWFOUNDLAND on Same Scale
St. Johns
Sable I.
C. Sable
Longitude West 72 from Greenwich
80
76
72
68
64
60
48
44
40

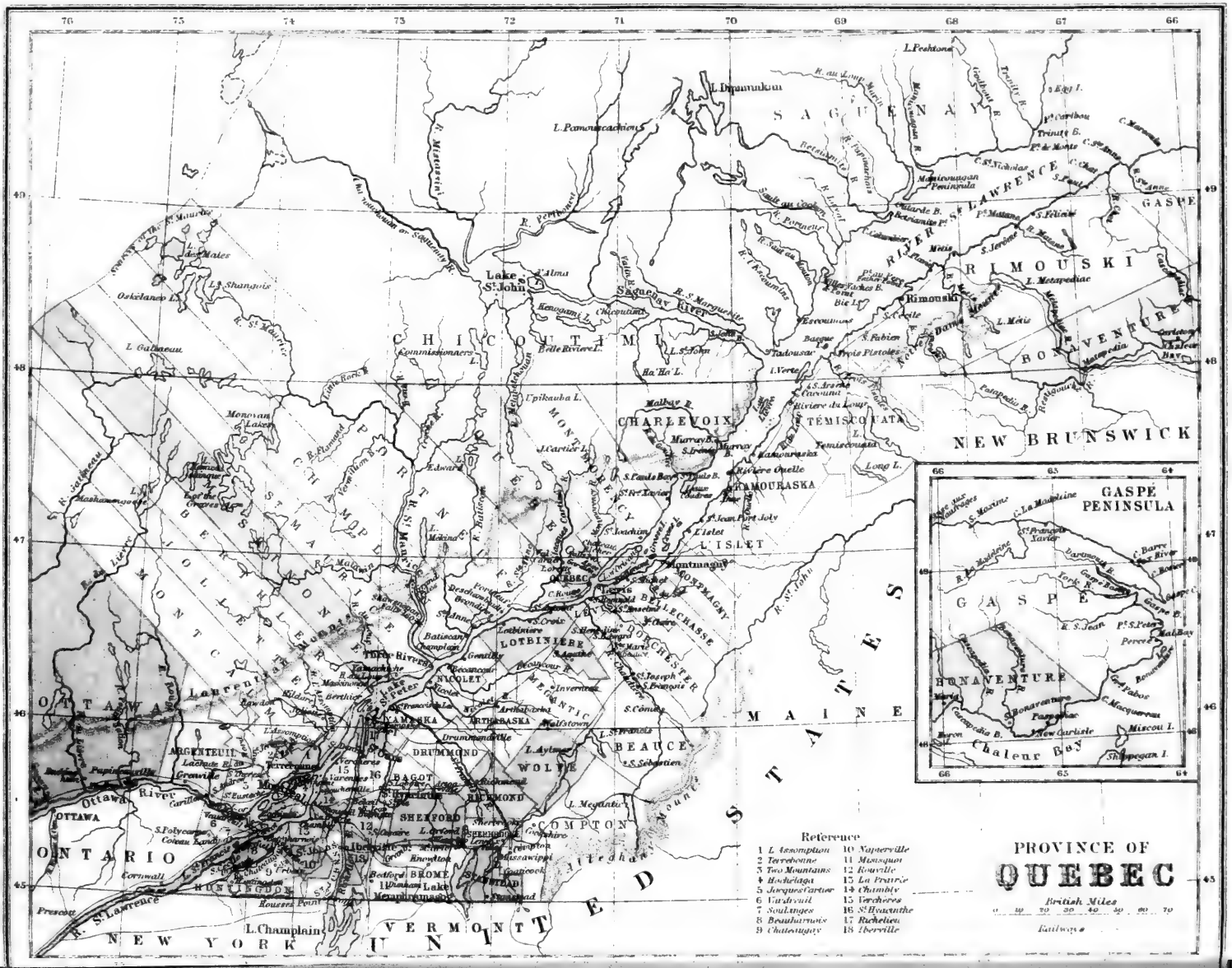
PROVINCE OF
QUEBEC
British Miles
Railways
Reference
1 L. Assomption
2 Terrebonne
3 Two Mountains
4 Hochelaga
5 Jacques Cartier
6 Vaudreuil
7 Soulanges
8 Beauharnois
9 Chateauguay
10 Napierville
11 Missisquoi
12 Rouville
13 La Prairie
14 Chambly
15 Verchères
16 St Hyacinthe
17 Richelieu
18 Iberville
SAGUENAY
GASPE
RIMOUSKI
BONAVENTURE
NEW BRUNSWICK
CHICOUTIMI
CHARLEVOIX
TÉMISCOUATA
CHAMOURASKA
L'ISLET
MONTMAGNY
LEVIS
DORCHESTER
LOTBINIERE
NICOLET
ARTHABASKA
DRUMMOND
BAGOT
RICHMOND
BEAUCE
WOLFE
SHEFFORD
COMPTON
BROME
ARGENTEUIL
OTTAWA
HUNTINGDON
MAINE
UNITED STATES
VERMONT
NEW YORK
ONTARIO
QUEBEC
GASPE PENINSULA
GASPE
BONAVENTURE
Chaleur Bay
L. Champlain
Ottawa River
St Lawrence
Lake St John
Saguenay River
Rimouski
Montmagny
Levis
Quebec

RESUME.

Iles.—Anticosti, Orléans, Montréal, Jésus, *Grosse île, aux Coudres, au Lièvre, Verte, Bic.*

Presqu'île.—*De Gaspé.*

Caps.—*Gaspé, des Rosiers, de la Madeleine, Chat, St-Nicolas, pointe au Père.*

Montagnes.—Laurentides, Notre-Dame, Alléghanys, monts Royal et Belœil.

Rivières.—St-Laurent, *Betsiamites,* Saguenay, St-Maurice, Outaouais, *du Lièvre,* Chaudière, St-François, Richelieu.

Lacs.—Saint-Jean, Saint-Pierre, Saint-Louis, Saint-François, *Memphrémagog, Témiscouata.*

Comtés.—(Voir p. 86.)

Villes.—Montréal, Québec, St-Henri (à côté de Montréal), Hull, Sherbrooke, Ste-Cunégonde (faubourg de Montréal), Trois-Rivières, Lévis, St-Hyacinthe, Sorel, *Valleyfield, St-Jean, Fraserville, Lachine, St-Jérôme, Longueuil, Nicolet, Chicoutimi.*

Chemins de fer.—Pacifique-Canadien, Grand-Tronc, Intercolonial, Québec-Central, Québec-Lac-Saint-Jean.

EXERCICES.

1. Quelle grande rivière traverse la Province du sud-ouest au nord-est? *S.-L.*
2. En combien de comtés la province de Québec est-elle divisée?
3. Montrez la rivière Richelieu. (73 *l.*)—Montrez les comtés qui touchent cette rivière sur la rive gauche. *R., V., C., S.-J.*
4. Quels sont les comtés baignés par la rive droite du Richelieu? *M., I., R., S.-H., R.*
5. Montrez la rivière Saint-François. (72 *l.*)
6. Montrez la rivière Chaudière. (71)—Quels sont les comtés arrosés par cette rivière? *C., B., D., L.*
7. Montrez les comtés situés sur le Saint-Laurent entre ceux de Yamaska et Lévis. *N., L.*
8. Nommez les comtés formant la rive droite du St-Laurent, depuis la Chaudière jusqu'à l'embouchure du Fleuve. *L., B., M., L'I., K., T., R., M., G.*
9. Montrez les rivières Saguenay et St-Maurice. — Quels comtés sont compris entre ces deux rivières? *C., P., Q., M., C., C. L.-S.-J.*
10. Montrez la rivière Outaouais.
11. Quels comtés trouve-t-on sur le St-Laurent, de Joliette à l'embouchure de l'Outaouais? *L'A. T., D.-M. (T. M.)*
12. Quels sont ceux qui sont compris entre le St-Laurent et l'Outaouais? *V., S.*
13. Montrez les îles de Montréal et de Jésus.
14. Quelle est la capitale de la province de Québec? *Q.*
15. Montrez les villes de Montréal, Trois-Rivières et Sorel.
16. Montrez le comté dans lequel est situé notre école.—Quel est le chef-lieu de ce comté?
17. Quels comtés sont au nord?—à l'est?—au sud de celui où nous sommes? .....—Par quelle rivière celui-ci est-il arrosé?
18. Montrez l'île d'Orléans.—Quelles sont les principales îles situées dans le Saint-Laurent au-dessous de l'île d'Orléans? *G., C., L., V., B.*
19. Nommez les principaux caps de la Gaspésie. *G., R., M., C.*
20. Quelle pointe remarquable se trouve sur la côte de Rimouski? *P.*
21. Montrez le lac St-Jean.
22. Quel lac forme le St-Laurent au-dessous de Sorel? *S.-P.*
23. Montrez le lac Memphrémagog.—Le lac Témiscouata.
24. Montrez les Laurentides.—Les monts Notre-Dame.
25. Par quelles voies peut-on aller de Montréal à Québec?—Quelles villes rencontre-t-on? 1° Par *S.-L.: S., T.-R.;* 2° par *P.-C.: T.;* 3° par *G.-T.* et *S.-L.: S.-H., L.*
26. Par quelle voie va-t-on de Québec à Sherbrooke? Par quelle ville passe-t-on? *S.-L., Q.-C.; L.*
27. Par quelle voie peut-on aller de Montréal à Valleyfield? *G.-T., S.-L.*

RESUME.

Iles.—*St-Joseph, Manitoulin, Pointe-Pelée, Mille-Isles (Wolfe, Howe, etc.).*
Presqu'île.—*Prince-Edouard.*
Rivières.—*Française* (French), *Severn, Sainte-Claire,* Thames, Grande, *Trent,* Saint-Laurent, Outaouais, *Rideau, Petite-Nation, Madawaska, Bonne-Chère, Petawawa.*
Cataracte.—Niagara.
Baies.—*Georgienne, Quinté.*
Lacs. - Supérieur, Huron, *Sainte-Claire,* Erié, Ontario, *des Mille-Isles, Saint-François, Nipissingue, Muskoka, Simcoe.*
Comtés. - (Voir p. 91.)
Villes.—Toronto, Hamilton, Ottawa, London, Kingston, *Brantford, Guelph, Saint-Thomas, Windsor, Belleville, Peterborough, Cornwall, Prescott, Brockville.*
Principaux chemins de fer. - Pacifique-Canadien, Grand-Tronc.

EXERCICES.

1. Quelle contrée borne cette province à l'est ? *Q.*
2. Quelle rivière sépare cette province de celle de Québec ? *O.*
3. Quelle rivière la sépare de l'état de New-York ? *S.-L.*
4. Quels lacs sont situés au sud ? *O., E.*
5. Quelle rivière réunit les lacs Ontario et Erié ? *N.*
6. Quelle chute remarquable forme cette rivière ? *N.*
7. Par quel lac cette province est-elle bornée à l'ouest ? *H.*
8. Quelle rivière unit ce lac au lac Sainte-Claire ? *S.-C.*
9. Quelle grande baie est située à l'est du lac Huron ? *G.*
10. Quelle est la plus grande île de ce lac ? *M.*
11. Montrez la rivière Française (*French*).
12. Quel lac cette rivière unit-elle au lac Huron ? *N.*
13. Quel lac est situé au sud-est de la baie Georgienne ? *S.*
14. Montrez le canal Rideau.
15. Quelles villes ce canal fait-il communiquer entre elles ? *O., K.*
16. Nommez les comtés situés sur le Saint-Laurent. *G., S., D., G., L.*
17. Nommez ceux qui sont situés sur la rivière Outaouais ? *P., R., C., R.*
18. Montrez la ville de Toronto.—Dans quel comté est-elle située ? *Y.*
19. Quel comté forme l'extrémité sud-ouest d'Ontario ? *E.*
20. Quels sont les comtés situés sur le lac Huron ? *L., H., B., G., S.*
21. Montrez le district d'Algoma.—Celui de Nipissing.
22. Montrez le district de Parry-Sound.—Celui de Muskoka.
23. Montrez le lac Simcoe.
24. Quelle rivière unit ce lac au lac Huron ? *S.*
25. Quelle grande rivière se jette dans le lac Ste-Claire ? *T.*
26. Quelle rivière coulant du nord au sud, se jette dans le lac Erié ? *G.*
27. Montrez la baie de Quinté. (44).
28. Quelle rivière débouche dans cette baie ? *T.*
29. Quelle presqu'île est formée par la baie de Quinté ? *P.-E.*
30. Quel lac est situé entre les districts de Nipissing et de Parry-Sound ? *N.*
31. Quelles sont les rivières de la province d'Ontario qui se jettent dans l'Outaouais ? *P.-N., Ma., B.-C., Pa.*
32. Montrez le lac des Mille-Isles (*Thousand*) (76 *l.*).
33. Nommez les principales îles de ce lac. *W., H.*
34. Quelle est la capitale d'Ontario ? *T.*
35. Montrez les villes suivantes et dites-en la population : Hamilton, London, Kingston, Ste-Catherine. (*Voyez, pour la population, à la fin du volume.*)
36. Quelles sont les principales villes que l'on rencontre en allant de Toronto à Montréal par le Grand-Tronc ? *B., K., B., P., C.,*
37. Quelles sont les principales villes d'Ontario situées sur le Saint-Laurent ? *C., P., B.*
38. Lesquelles sont situées sur le lac Ontario ? *S.-C., H., T., K.*

37. District d'Algoma.—Celui de Nipissing. 38. Lesquelles sont situées sur le lac Ontario ? S. C. H. T. K.

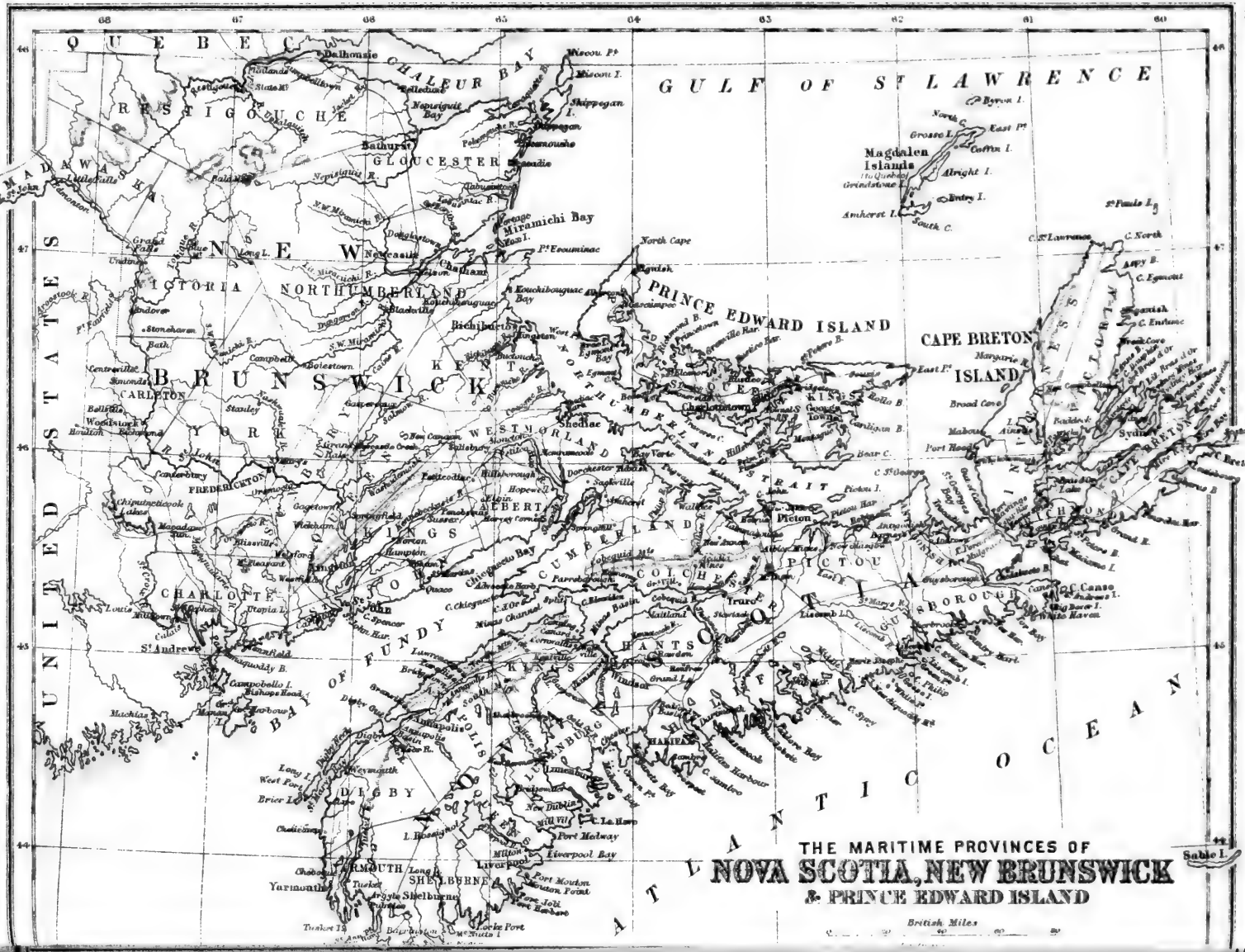
THE MARITIME PROVINCES OF
NOVA SCOTIA, NEW BRUNSWICK
& PRINCE EDWARD ISLAND
British Miles
QUEBEC
GULF OF ST LAWRENCE
CHALEUR BAY
RESTIGOUCHE
GLOUCESTER
MADAWASKA
NEW BRUNSWICK
VICTORIA
NORTHUMBERLAND
KENT
CARLETON
YORK
WESTMORLAND
ALBERT
KINGS
CHARLOTTE
ST JOHN
CUMBERLAND
COLCHESTER
PICTOU
HANTS
KINGS
HALIFAX
GUYSBOROUGH
NOVA SCOTIA
DIGBY
YARMOUTH
SHELBURNE
LUNENBURG
ANNAPOLIS
BAY OF FUNDY
UNITED STATES
ATLANTIC OCEAN
PRINCE EDWARD ISLAND
CAPE BRETON ISLAND
Magdalen Islands
Miramichi Bay
Chatham
Newcastle
Richibucto
Shediac
Charlottetown
Pictou
Truro
Windsor
Annapolis
Liverpool
Yarmouth
Shelburne
Sydney
Sable I.

RESUME.

Iles.—Du Prince-Edouard, du Cap-Breton.
Presqu'île.—Nouvelle-Ecosse.
Isthme. – Chignectou.
Caps.—*Nord, Nord, Breton, Sable.*
Montagnes.—*Cobequids.*
Golfes et Baies.—Saint-Laurent, *des Chaleurs, Miramichi, Hillsborough, Saint-Georges, Chedabouctou, Sainte-Marie,* Fundy, *bassin des Mines* (Minas), *Chignectou, Passamaquoddy.*
Détroits.—Northumberland, *Canseau, des Mines.*
Rivières.—*Restigouche, Miramichi,* St-Jean, *Ste-Croix.*
Lacs.—*Bras-d'Or, Rossignol.*
Comtés.—(Voir pp. 95 et 96.)
Villes.—Frédéricton, St-Jean, Moncton, Chatham, Halifax, Dartmouth, Yarmouth, Charlottetown.

EXERCICES.

1. Quelle baie se trouve entre le Nouveau-Brunswick et la Nouvelle-Ecosse ? *F.*
2. Quel isthme unit ces deux provinces ? *C.*
3. Par quel océan la Nouvelle-Ecosse est-elle bornée au sud ? *A.*
4. Quel détroit sépare l'île du Prince-Edouard de ces deux provinces ? *N.*
5. Quelle grande île est située au nord-est de la Nouvelle-Ecosse ? *C.-B.*
6. En combien de comtés le Nouv.-Brunswick se divise-t-il ? (15)
7. Quels sont les deux comtés les plus au nord ? *R., G.*
8. —Les deux les plus à l'est ? *G., W.*
9. —Les deux plus au sud ? *C., S.-J.*
10. Montrez le fleuve Saint-Jean.—Quelles sont les deux principales villes qui sont situées sur ce fleuve ? *S.-J., F.*
11. Quelle est la capitale du Nouveau-Brunswick ? *F.*
12. Dans quel comté se trouve cette ville ? *Y.*
13. Quelles sont les deux principales baies situées au nord-est ? *C., M.*
14. Quelle rivière se décharge dans la baie des Chaleurs ? *R.*
15. Quelle rivière arrose le comté de Northumberland ? *M.*
16. Dans quelle direction est située la Nouvelle-Ecosse à l'égard du Nouveau-Brunswick ?
17. En combien de comtés la Nouv.-Ecosse est-elle divisée ? (18)
18. Quelle grande île fait partie de cette province ? *C.-B.*
19. Combien l'île du Cap-Breton forme-t-elle de comtés ? (4)
20. Quelle est le comté de la péninsule le plus au nord ? *C.*
21. —Les trois comtés les plus à l'est ? *P., A., G.,*
22. —Les trois les plus à l'ouest ? *D., Y., S.*
23. Quels sont les deux comtés situés sur la baie de Fundy ? *A., K.*
24. Montrez le bassin des Mines (*Minas Basin*).
25. Quels sont les deux comtés qui entourent en partie le bassin des Mines ? *C., H.*
26. Quelle est la capitale de la Nouvelle-Ecosse ? *H.*
27. Par quelles eaux pourrait-on aller de Charlottetown à Frédericton ? *N., C., A., F., S.-J.*
28. Quelles montagnes trouve-t-on au nord du bassin des Mines ? *C.*
29. Quel détroit sépare l'île du Cap-Breton de la Péninsule ? *C.*
30. Quel est le principal lac du Cap-Breton ? *B.-d'O.*
31. Quel est le principal lac de la Nouvelle-Ecosse ? *R.*
32. Montrez le bassin d'Annapolis.
33. Montrez la baie Sainte-Marie.—(44)—Le havre d'Halifax.
34. Quels sont les trois comtés de l'Ile-du-Prince-Edouard ? *P., Q., K.*—Quelle est sa capitale ? *C.*
35. Quelles sont les principales villes du Nouveau-Brunswick ? *S.-J., M., F.*,—de la Nouvelle-Ecosse ? *H., D., Y.*

Montrez les lacs suivants :

	Lat.	Long.
Albany	52	94
Basswood	48	91
Bear (de l'Ours)	50	95
Bourbon (Cedar)	53	100
Cat Fish	52	92
Cat Lake (du Chat)	51	91
Cedar (Bourbon)	53	100
Clear Water (Eau claire)	49	91
Cross Lake (Traverse)	54	98
Cross	49	95
Deer (à la Biche)	49	93
Eagle (de l'Aigle)	51	94
Eagle	49	93
Ebb and Flow	51	98
Family	52	95
Favourable	53	94
Fisher (Pêcheur)	52	90
God's (de Dieu)	54	94
Goose (à l'Oie)	54	101
Goose	51	92
Hawk (Faucon)	49	95
Herb	54	99
Holy Lake (Lac Saint)	54	96
Inland (Intérieur)	53	94
Jack	53	96
Koagassikok	48	91
Lac St. Joseph	51	90
Lac des Bois (of Wood)	49	94
Manitoba	50	98
Manitou	49	92
Minnitakie	51	91
Merry Lake	54	94
Poquath Lake	50	93
Pigeon	52	96
Pine Lake (du Pin)	49	91
Prince of Wales	51	94
Rainy (de la Pluie)	48	93
St Martin	51	98
Shoal Lake (plat)	49	95
Shoal	50	97
Swan	52	100
Sturgeon	54	101
Trout (Truite)	53	91
Wapicopa	52	89
Water Hen	52	99
White Fish (Poisson Blanc)	49	89
White Water (Eau Blanche)	49	100
Winnipagous	52	100
Winnipeg (Eau Sale)	50	96

Montrez les Rivières suivantes :

	Lat.	Long.
Assiniboine	49	98
Beren's (aux Tourtres)	52	96
Black River (noire)	50	96
Black Water	53	96
Blood River (sang)	.....	.....
Broken Head	50	96
English	50	94
Fisher	51	97
Great Beaver (grand Castor)	53	97
Little Saskatchewan (Dauphin)	52	98
L'oiseau	50	95
Pigeon	52	95
Rat	49	96
Red river (riv. Rouge)	49	97
Roseau	49	97
Seine	48	91
Wabigoon	49	92
Water Hen	51	99
White Mouth	49	95
Winnipeg	50	95

Montrez les Montagnes suivantes :

	Lat.	Long.
Dry Dance	49	98
Pembina	49	98
Height of Land	51	92
Riding (Dauphin)	50	100
Turtle (Tortue)	49	100

Montrez les places suivantes:

	Lat.	Long.
Alexander, Fort	50	96
Albany House (Maison de)	52	94
Arnaud	49	97
Big black Island	51	96
Big Island	49	96
Egg Island	52	97
Burnside	50	98
Dufferin	49	97
Dufrost	49	97
Emerson	49	97
Garry Fort	50	97
Gimly	49	96
Gonor	50	96
Indian Village	50	93
Norway house	53	98
Niverville	49	96
Otterburn	49	97
Palestine	50	98
Penza	49	97
Pembina	49	97
Portage Laprairie	49	98
St Boniface	49	97
St Joseph	48	97
St Laurent	50	97
Selkirk	50	96
St Norbert	49	96
Winnipeg, Capitale	49	97

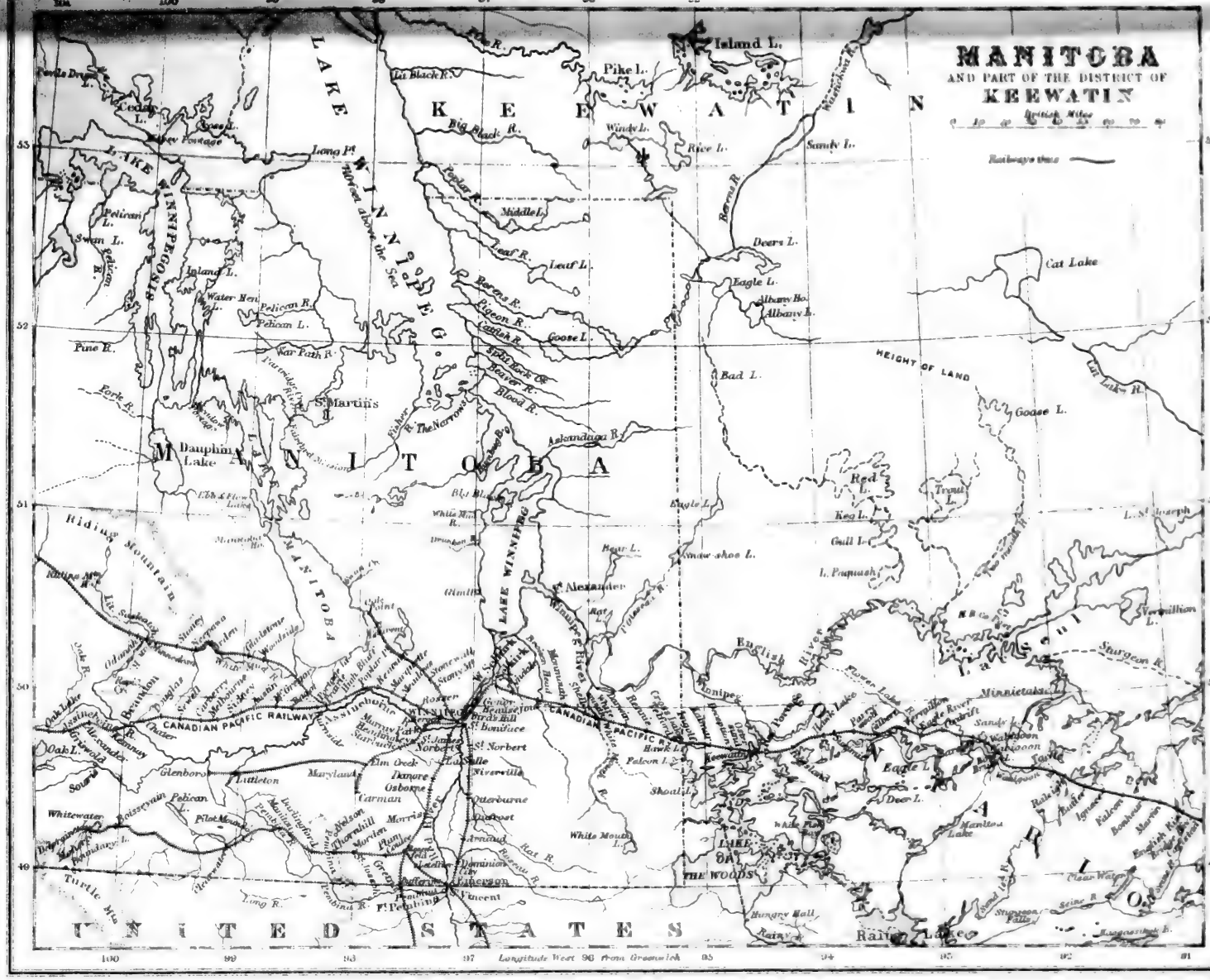
MANITOBA
AND PART OF THE DISTRICT OF
KEEWATIN
British Miles
Railways thus
LAKE WINNIPEG
Horses above the Sea
LAKE WINNIPEGOSIS
KEEWATIN
MANITOBA
UNITED STATES
Island L.
Pike L.
Big Black R.
Lit Black R.
Cedar L.
Long Pt
Pelican L.
Swan L.
Inland L.
Water Hen L.
Pelican R.
Pine R.
Fork R.
Dauphin Lake
St Martin's
War Path R.
Fisher R.
The Narrows
Poplar R.
Middle L.
Leaf R.
Leaf L.
Berens R.
Pigeon R.
Catfish R.
Goose L.
Split Rock Ck
Beaver R.
Blood R.
Asiniboine R.
Rice L.
Windy L.
Sandy L.
Deers L.
Eagle L.
Albany Ho.
Albany L.
Bad L.
Cat Lake
HEIGHT OF LAND
Goose L.
Red L.
Trout L.
Keg L.
Gull L.
L. Paquash
Eagle L.
Snow shoe L.
Bear L.
St Alexander
Winnipeg River
Riding Mountain
Rapid City
Minnedosa
Neepawa
Portage la Prairie
Brandon
Carberry
Melbourne
Douglas
Sewell
Stonewall
Selkirk
Winnipeg
Rosser
St James
St Boniface
St Norbert
Elm Creek
Dacre
Osborne
Carman
Morris
Emerson
Pembina
Ft Pembina
Vincent
Oak Lake
Oak L.
Glenboro
Littleton
Maryland
Souris
Whitewater
Boissevain
Pelican L.
Pilot Mound
Turtle Mtn
Long R.
Pembina R.
Rat R.
Roseau R.
Dominion City
Arnaud
Otterburne
Niverville
St Norbert
Hawk L.
Falcon L.
Shoal L.
White Mouth L.
Keewatin
Winnipeg
Eagle L.
Deer L.
Manitou Lake
LAKE OF THE WOODS
Rainy Lake
Hungry Hall
Rainy R.
Clear Water
Sturgeon Falls
Seine R.
Sturgeon R.
Vermillion L.
Minnietaki L.
Sandy L.
Wabigoon
Eagle L.
English River
Winnipeg River
Lac Seul
L. St Joseph
Two Rivers R.
Lit Lake R.
CANADIAN PACIFIC RAILWAY
Longitude West 96 from Greenwich
100
99
98
97
96
95
94
93
92
91
53
52
51
50
49

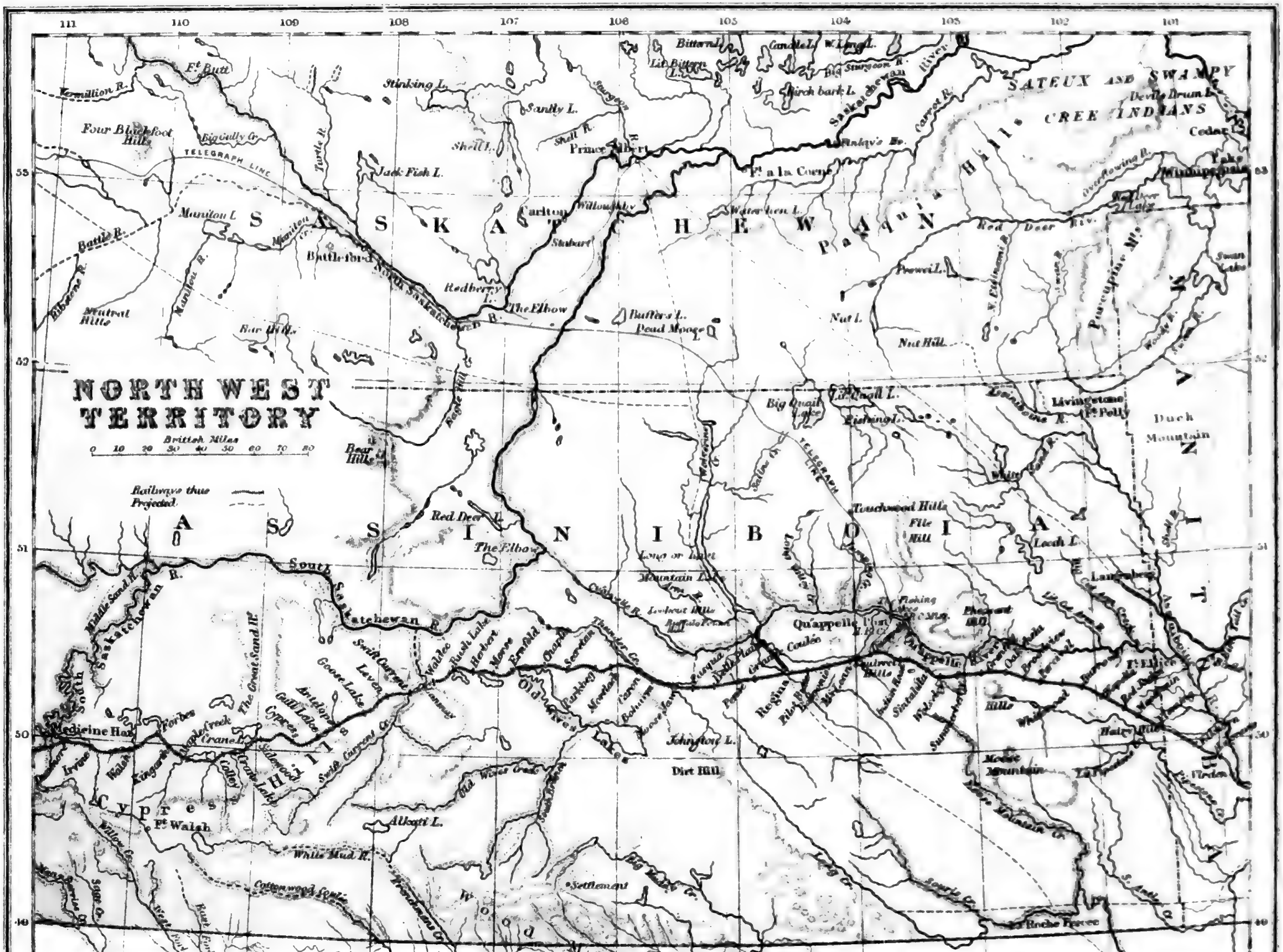

EXERCICES SUR LE NORD-OUEST.

Montrez les Lacs suivants :

	Lat.	Long.
Athabaska (Filet de foin)	59	110
Cedar (Bourbon)	53	100
Cranberry	54	101
Chaplin	50	106
Etoimani	52	102
Goose (A l'Oie)	53	102
Jack first	53	108
Johnson	50	105
Leech (Sangsue)	51	102
Long et last Mount	51	105
Manitou	52	109
Old Woman	50	106
Quill	51	104
Red Deer (Biche rouge)	53	101
Shoal Lake (Lac plat)	53	102
Swan (Cygne)	53	107
Stinking (Puant)	53	107
Iroquois	53	106

Montrez les Rivières suivantes :

	Lat.	Long.
Battle (Bataille)	52	110
Big Cat Arm	50	101
Qu'appelle	50	104
Red Deer	52	101
Red Deer	50	110
Saskatchewan Nord	52	108
Saskatchewan Sud	51	108
Sand (Sable)	51	102
Shell (Coquille)	51	101
Souris	49	104
Thunder (Tonnerre)	50	106
White Sand	51	102

Montrez les Montagnes suivantes :

	Lat.	Long.
Basquia	53	102
Buffalo Pounds	50	105
Cactus	49	104
Cyprès (3800)	49	109
Duck (Canard)	51	101
Ear (Oreille)	52	108
File	51	103
Eye Brow (Sourcil)	50	106
Four Blackfoot (4 pieds noirs)	53	110
Hairy (Chevelu)	50	101
Last (Le dernier)	51	104
Lookout	50	105
Moose	50	102
Neutral	52	110
Nut (Noix)	52	103
Squirrel (Ecureuil)	50	103
Thickwood (Bois épais)	51	104
Willow (Saule)	53	110
Weed (Mauv. herbe)	50	102
Wolf (Loup)	50	102

Montrez les places suivantes :

	Lat.	Long.
Battleford, Capitale	52	108
Carleton, Fort	52	106
Cumberland, Fort	53	102
Ellice, Fort	50	101
Fort à la Corne	53	104
Forks (Lafourche)	53	105
La Roche Percée	49	102
Pelly, Fort	51	102
Qu'appelle Post	50	103
St Laurent (Cot. Mis.)	52	105
Settlement	49	106
Fishing Lake (Mis. Cat.)	51	103

Le *Nord-Ouest*, dit Mgr. Taché, peut se diviser en trois sections, savoir : *désert*, la *prairie* et la *forêt*.

1o. Le *désert* est compris à peu près entre le 110e et le 113e degré de longitude et s'étend au Nord jusque vers le 52e de latitude. C'est généralement un sol aride où il ne croit qu'un peu d'herbe clair-semée et haute à peine de six pouces, mais très nutritive et dont les animaux sont très-friands.

2o. La *prairie* s'appuie sur le désert dont il vient d'être fait mention et a au N., pour limites les régions des forêts. Vue à la saison des fleurs, la prairie est vraiment belle, étant sur un fond de verdure toute émaillée de couleurs diverses ; c'est comme un riche tapis dont les nuances variées semblent disposées par des mains d'artistes. Il est difficile d'imaginer quelque chose de plus beau, de plus gracieux que certains points accidentés des prairies ; mais par contre, la température n'est pas fort agréable, ni fort convenable à la culture.

Voici la distribution ordinaire des saisons et leur caractère le plus saillant :

Printemps.—Du 15 avril au 31 mai. Vent froid et désagréable, fortes gelées pendant la nuit.

Eté.—Juin, juillet, août. Chaud, peu de pluie, vent violent, nuits froides vers la fin d'août.

Automne.—Septembre et octobre. Saison très-agréable, mais nuits généralement très froides et chaleur souvent intense pendant le jour. Pas ou presque point de pluie ; ce qui explique les incendies désastreux de cette époque dans les prairies.

Hiver.—De la fin d'octobre à la mi avril. Peu de neige, froid piquant, vif, constant et très-sec : pendant des mois entiers le thermomètre en moyenne descend à 30 degrés centigrades sous zéro ; des mois d'été donnent aussi en moyenne 30 degrés au-dessus de zéro, à l'ombre en plein midi.

RESUME.

Bornes.—Canada, lac Supérieur, lac Huron, lac Erié, lac Ontario, océan Atlantique, golfe du Mexique, Mexique, océan Pacifique.

Presqu'île.—Floride.

Caps.—Race, Cod, Hatteras, Sable, Mendocino.

Montagnes.—Alléghanys, *Sierra Nevada*, Cascades, monts Rocheux.

Rivières.—Mississipi, Rouge, Arkansas, Ohio, Missouri, *Nebraska*, Rio Grande, *Colorado*, *Colombie*, *Hudson*.

Lacs.—Supérieur, Michigan, Huron, Erié, Ontario, *Champlain*, *grand lac Salé*.

Etats.—(Voir p. 100.)

Villes.—Washington, New-York, Chicago, Philadelphie, Brooklyn, Saint-Louis, Boston, Baltimore, San-Francisco, *Cincinnati*, *Cleveland*, *Buffalo*, Nouvelle-Orléans, *Pittsburgh*, *Détroit*, *Milwaukee*.

Trois des principaux chemins de fer.—*Northern-Pacific ; Central-Pacific, Southern-Pacific.*

EXERCICES.

1. Quel pays est situé au N. des Etats-Unis ? *C.*
2. Par quoi les Etats-Unis sont-ils bornés à l'est ? *A.*
3. —Au sud ? *M., g. M.*—A l'ouest ? *P.*
4. Montrez le lac Champlain et la rivière Hudson. (40-70).
5. Quels sont les états situés à l'est de ce lac et de cette rivière ? *M., N.-H., V., M., C., R.-I.*—(*Ils forment ce qu'on appelle la Nouvelle-Angleterre.*)
6. Quels sont les autres états bornés par l'Atlantique ? *N.-Y., N.-J., D., M., V., C. s., C. m., G., F.*
7. Quels sont ceux qui sont bornés par le golfe du Mexique ? *F., A., M., L., T.*
8. Nommez les états baignés par le Pacifique ? *C., O., W.*
9. Montrez le Mississipi et le Missouri.
10. De quel état Boston est-il la capitale ? *M.*
11. Dans quel état se trouve Brooklyn ? *N.-Y.*
12. Quel chemin de fer va de Chicago à San-Francisco ? *C.-P.*
13. Quel autre grand chemin de fer aboutit à San-Francisco ? *S.-P.*
14. Quels sont les lacs situés entre le Canada et les Etats-Unis ? *S., H., E., O.*
15. Quelles grandes villes des Etats-Unis sont situées sur le lac Erié ? *B., C.*
16. Quelle est la capitale de l'état de New-York ? *A.*—De la Pensylvanie ? *H.*
17. —Du Maine ? *A.*—Du New-Hampshire ? *C.*
18. De quel état Annapolis est-elle la capitale ? *M.*
19. —Richmond ? *V.*—Raleigh ? *C. s.* (*N. C.*)—Columbia ? *C. m.* (*S. C.*)
20. Quelle presqu'île est située au sud-est des Etats-Unis ? *F.*
21. Quel cap est situé à l'est du Massachusetts ? *C.*
22. Quel cap se trouve au sud de la Floride ? *S.*
23. Quelle chaîne de montagnes longe l'océan Pacifique ? *C.*
24. Quelle chaîne se trouve à l'est des Cascades ? *S. N.*
25. Quelle autre chaîne est encore plus à l'est ? *R.*
26. Quelle chaîne se trouve dans l'est des Etats-Unis ? *A.*
27. Quel grand lac est situé dans l'Utah ? *C. l. S.* (*G. S. L.*)
28. Quel grand golfe trouve-t-on au sud ? *M.*
29. Montrez le principal affluent de la rive gauche du Mississipi ? *O.*
30. —Les deux principaux de la rive droite, autres que le Missouri ? *A., R.*
31. Quelles sont les deux plus grandes villes sises sur le Mississipi ? *N.-O., S.-L.*
32. Quelle rivière fait une partie des limites entre les Etats-Unis et le Mexique ? *R. G.*
33. Quelle autre grande rivière se décharge dans le golfe de Californie ? *C.*
34. Par quelle rivière l'état de Washington est-il arrosé ? *C.*
35. Quelle grande ville est sise au sud du lac Michigan ? *C.*
36. Dans quelle direction New-York est-il par rapport à St-Louis ?
37. A Montréal ?—A la Nouvelle-Orléans ?
38. A San-Francisco ?—A Chicago ?

18. De quel état Annapolis est-elle la capitale ? M.

38. A San-Francisco ? — A Chicago ?

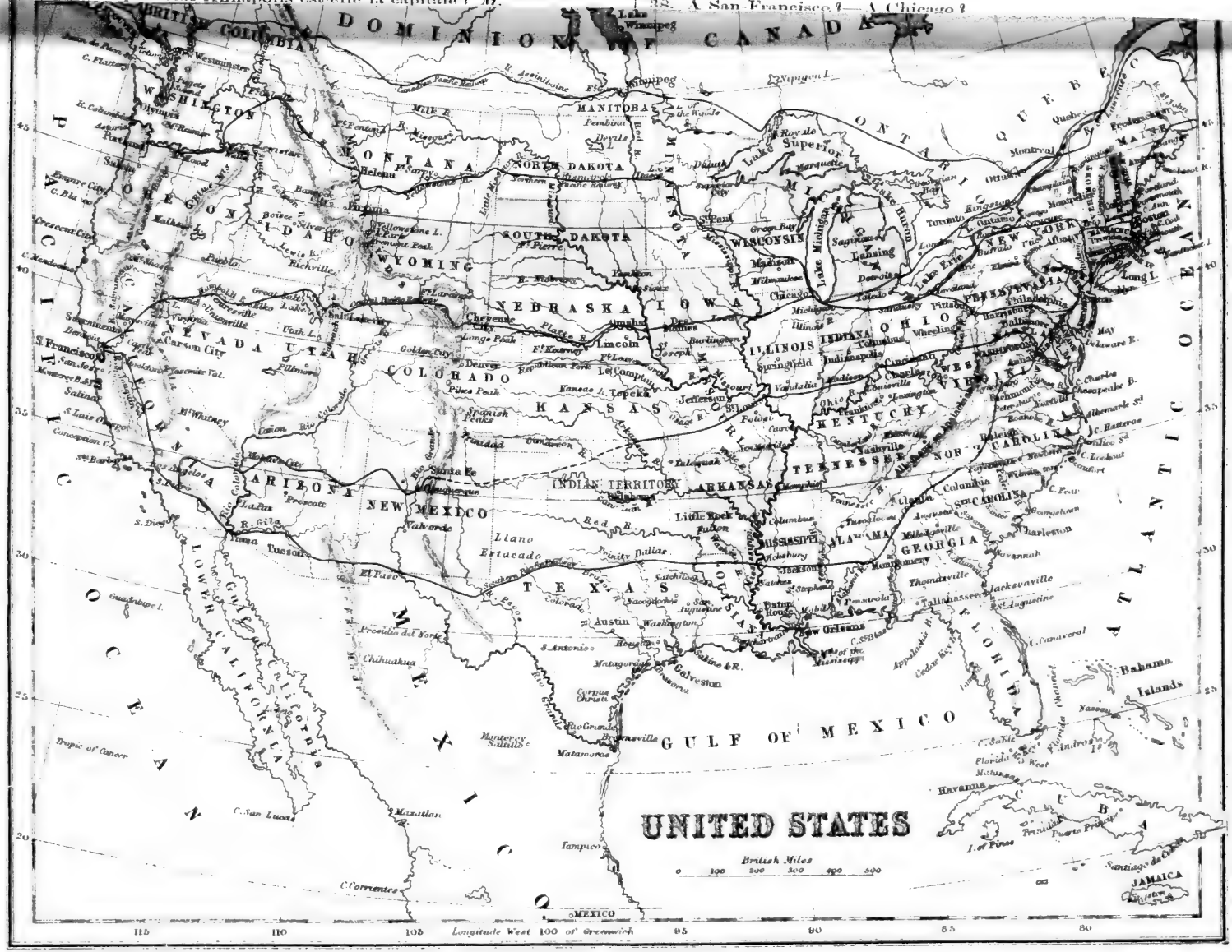

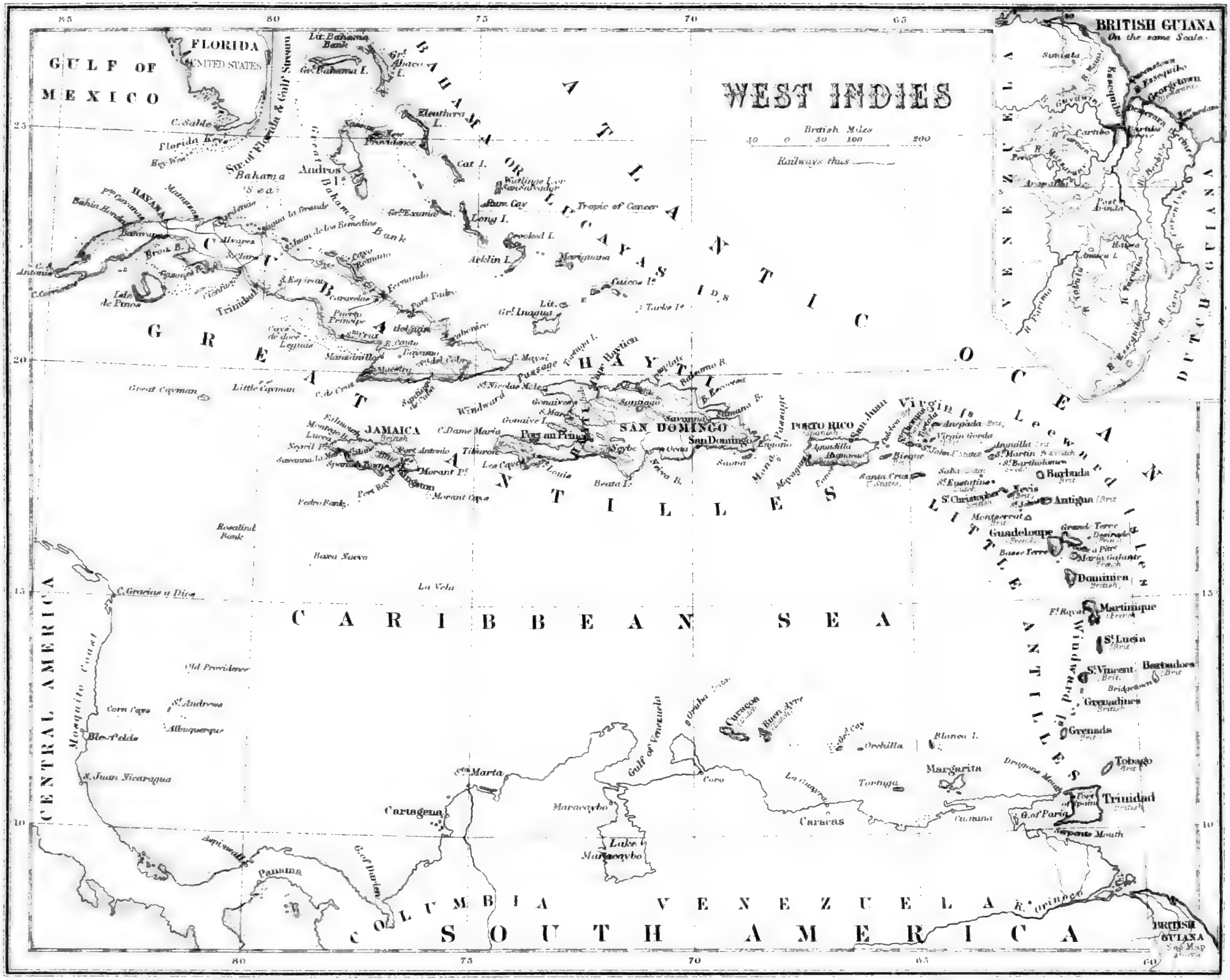
WEST INDIES
British Miles
Railways thus
BRITISH GUIANA
On the same Scale
GULF OF MEXICO
FLORIDA
UNITED STATES
C. Sable
Florida Keys
Str. of Florida & Gulf Stream
Bahama Sea
Great Bahama Bank
Andros Is.
Eleuthera I.
Cat I.
Watlings I. or San Salvador
Rum Cay
Long I.
Crooked I.
Acklin I.
Mariguana
Caicos Is.
Turks Is.
Gr. Inagua
BAHAMA OR LUCAYAS IDS.
Tropic of Cancer
ATLANTIC OCEAN
HAVANA
Matanzas
Trinidad
Isle de Pinos
Holguin
Manzanillo
C. Maysi
Windward Passage
GREAT ANTILLES
Great Cayman
Little Cayman
JAMAICA
British
Kingston
Morant Pt.
Pedro Bank
HAYTI
Port au Prince
SAN DOMINGO
San Domingo
Santiago
Samana B.
Mona Passage
PORTO RICO
Spanish
Virgin Is.
Anegada
Virgin Gorda
Santa Cruz
Anguilla
St. Martin
St. Bartholomew
Barbuda
St. Eustatius
St. Christopher
Nevis
Antigua
Montserrat
Guadeloupe
French
Grande Terre
Basse Terre
Marie Galante
Dominica
Martinique
St. Lucia
St. Vincent
Barbadoes
Bridgetown
Grenadines
Grenada
Tobago
Trinidad
G. of Paria
Serpents Mouth
Dragons Mouth
Leeward Isles
Windward Is.
LITTLE ANTILLES
CARIBBEAN SEA
Rosalind Bank
Baxo Nuevo
La Vela
Old Providence
St. Andrews
Albuquerque
Corn Caye
Blewfields
S. Juan Nicaragua
Mosquito Coast
C. Gracias a Dios
CENTRAL AMERICA
Aspinwall
Panama
G. of Darien
Cartagena
Sta. Marta
COLUMBIA
Maracaybo
Lake Maracaybo
Gulf of Venezuela
Coro
Curaçoa
Buen Ayre
Orchilla
Blanca I.
Tortuga
Margarita
La Guayra
Caracas
Cumana
VENEZUELA
R. Orinoco
SOUTH AMERICA
DUTCH GUIANA
VENEZUELA
Essequibo
Georgetown
Demerara
Berbice
R. Essequibo

SOUTH AMERICA.
CARIBBEAN SEA
WEST INDIA Is
CENTRAL AMERICA
VENEZUELA
COLOMBIA
ECUADOR
BRAZIL
BOLIVIA
PARAGUAY
URUGUAY
ARGENTINE REPUBLIC
PATAGONIA
Pampas
Equator
Tropic of Capricorn
PACIFIC OCEAN
SOUTH ATLANTIC OCEAN
Bogota
Quito
Lima
Sucre
Asuncion
Paraná
Montevideo
Buenos Ayres
Rio de la Plata
Valparaiso
Santiago
Maipo
Chiloe I.
Falkland Islands (Br.)
Cape Horn
Bahia
Pernambuco (Recife)
Maranhao
Para (Belem)
Trinidad (Br.)
Paramaribo
Cayenne
Bahia Blanca
Port S. Julian
Port Desire
Port S. Jose
Valdes Pen.
Cape Corrientes
Port Caldera
Copiapo
Santiago
Talcahuano
Arauco
Valdivia
Chonos Arch.
Taytao Pen.
Wellington
Madre de Dios I.
Hanover
Adelaide I.
Desolation Land
Strait of Magellan
Stanley
Aurora I.
S. Georgia I. (Br.)
Sarsenburg
Tropic of Capricorn
British Miles

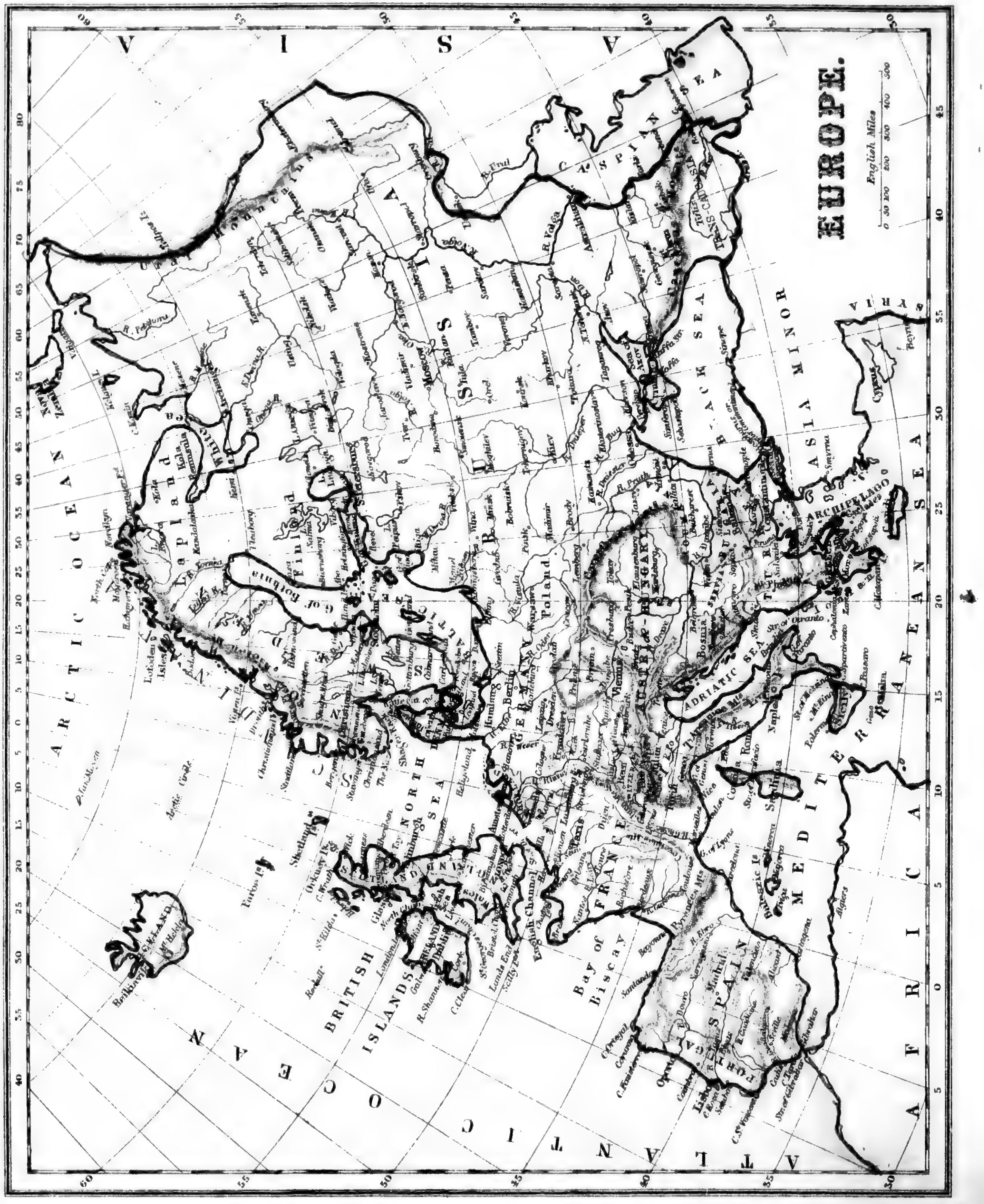
EUROPE.
English Miles
ARCTIC OCEAN
ATLANTIC OCEAN
ASIA
ASIA MINOR
AFRICA
SYRIA
MEDITERRANEAN SEA
BLACK SEA
CASPIAN SEA
ADRIATIC SEA
ARCHIPELAGO
NORTH SEA
BRITISH ISLANDS
Bay of Biscay
English Channel
G. of Bothnia
FRANCE
SPAIN
GERMANY
Poland
Finland
Lapland
ICELAND
Shetland Is.
Faroe Is.
Cyprus
Arctic Circle

RESUME.

Groupes. — Bahama ou Lucayes, Grandes Antilles, Petites Antilles (îles *du Vent*[1] et îles *Sous-le-Vent*).

Océan et parties de mer. — Atlantique, mer des Antilles ou des Caraïbes, *de Yucatan, de la Floride, du Vent, Mona, le Gulf-Stream.*

Divisions politiques. — RÉPUBLIQUES d'Haïti, cap. Port-au-Prince, et de Saint-Domingue, cap. Saint-Domingue ;

ANTILLES ESPAGNOLES : Cuba, cap. la Havane ; — Porto-Rico, cap. San-Juan ;

ANTILLES ANGLAISES : la Jamaïque, cap. Kingston ;—les Bahama (entre autres *San-Salvador*), la plupart des Petites Antilles (entre autres la Barbade, cap. *Bridgetown*) ;—la Trinité, cap. *Port-d'Espagne.*

ANTILLES FRANÇAISES : la Martinique, v. pr. *Saint-Pierre ;* la Guadeloupe, v. pr., *Pointe-à-Pitre.*

EXERCICES.

1. Quel archipel se trouve entre les deux Amériques ? *A.*
2. En combien de groupes divise-t-on les Antilles ? (3)
3. Quel est le groupe le plus au nord ? *B.* ou *L.*
4. Dans quelle île aborda Colomb à son premier voyage en Amérique ? *S.-S.*
5. Quel canal sépare les îles Lucayes ou Bahama de la Floride ? *F.*
6. Quel courant océanique remarquable se rencontre dans la même région ? *G.-S.*
7. Montrez les Grandes Antilles.
8. Quelles sont les quatre principales îles de ce groupe ? *C., J., H., P.-R.*
9. Quelle est la plus grande île des Antilles ? *C.*
10. Quelle est la capitale de Cuba ? *H.*
11. Quelle grande île est située au sud-est de Cuba ? *H.*
12. Par quel détroit ces deux îles sont-elles séparées ? *V.* (*W*).
13. Quelles sont les deux divisions de cette île ? *H., S.-D.*
14. Quelle est la capitale d'Haïti ? *P.-au-P.*
15. Quelle est la capitale de Saint-Domingue ? *S.-D.*
16. Quelle grande île est située au sud de Cuba ? *J.*
17. Quelle est sa capitale ? *K.*
18. Quelle île est située à l'est d'Haïti ? *P.-R.*
19. Montrez les Petites Antilles.
20. Comment se divisent généralement les Petites Antilles ? *D. V., S.-l.-V.*
21. Quelles sont les principales îles des Antilles qui appartiennent à la France ? *G., M.*
22. Quelles sont les principales îles qui appartiennent à l'Angleterre ? *J., B., P. A.* (*B.*), *T.*
23. Quelle mer est située entre les Antilles et le continent ? *A.*
24. Quel océan est au nord-est ? *A.*
25. Quel détroit sépare Haïti de Porto-Rico ? *M.*
26. Quelles contrées sont situées au sud de la mer des Caraïbes ? *C., V.*
27. Quelle contrée est située au sud-ouest ? *A. C.* (*C. A.*)
28. Dans quelle direction est Cuba par rapport à Saint-Domingue ? — A la Jamaïque ?— A Porto-Rico ?— Aux îles Bahama ?—Aux Petites Antilles ?—A la Trinité ?
29. Dans quelle direction l'île de Cuba est-elle à l'égard de la Jamaïque ? — Saint-Domingue, à l'égard de Cuba ? — La Jamaïque, à l'égard de Saint-Domingue ?—Porto-Rico, de la Jamaïque ?
30. Quelle île est traversée par le 20e degré de latitude ? *C.*
31. —Par le 70e de longitude ?

---

1 Les *Géographes* appellent îles *du Vent* la chaîne des Petites Antilles qui s'étend de Porto-Rico au golfe de Paria, et îles *Sous-le-Vent* celles qui sont situées le long de la côte septentrionale de l'Amérique du Sud, à l'ouest du golfe de Paria. Les Anglais divisent celles des îles *du Vent* qui leur appartiennent en deux groupes qu'ils appellent *Leeward Isles* (îles Sous-le-Vent) et *Windward Isles* (îles du Vent).

AMÉRIQUE MÉRIDIONALE.

RESUME.

Bornes.—Mer des Antilles, océan Atlantique, océan Pacifique.

Iles.—*De la Trinité*, Joannes ou Marajo, Falkland, Terre-de-Feu, archipel patagonien, *Juan-Fernandez, Galapagos.*

Isthme.—Panama.

Caps.—Gallinas, St-Roch, Horn, Blanco.

Montagnes.—Andes, Brésiliennes (chaîne principale, la *Serra Espinhaço*), Parime, Chimborazo, Cotopaxi, *Aconcagua.*

Parties de mer.—Darien, Maracaïbo, *Tous-les-Saints*, St-Georges, Magellan, de Guayaquil, de Panama.

Cours d'eau.—Orénoque, Amazone, *Para, Tocantins*, Madeira, Tapajos, Xingu, Rio Negro, *San-Francisco*, Rio de la Plata, Parana, *Paraguay.*

Lacs.—*Maracaïbo*, Titicaca.

Divisions.

CONTRÉES.	Population.	Superficie m. c.	Pop rel	Capitales.
Colombie.....	4,000,000	400,000	10	Bogota.
Vénézuéla....	2,300,000	500,000	4½	Caracas.
Guyanes.....	400,000	180,000	2	Georgetown, Paramaribo, Cayenne.
Brésil.....	14,000,000	3,200,000	4½	Rio-de-Janeiro.
Equateur.....	1,200,000	200,000	6	Quito.
Pérou.....	3,000,000	450,000	7	Lima.
Bolivie.....	2,400,000	450,000	5	La Paz.
Chili.....	2,800,000	280,000	10	Santiago.
Argentine....	4,400,000	1,100,000	4	Buénos-Ayres.
Paraguay.....	500,000	100,000	5	Asuncion.
Uruguay.....	700,000	70,000	10	Montévidéo.
Totaux.....	35,700,000	6,930,000		

EXERCICES.

1. Par quelle mer l'Amérique méridionale est-elle bornée au nord? *C.*
2. Par quel océan est-elle bornée à l'est? *A.*
3. Quel océan est situé à l'ouest? *P.*
4. Quels sont les deux états les plus au nord? *C., V.*
5. Montrez l'Amérique centrale (10° *n.*).
6. Quel isthme unit les deux Amériques? *P.*
7. Quelle est la capitale de la Colombie? *B.*
8. Nommez la capitale du Vénézuéla? *C.*
9. Quel golfe se trouve au nord-est de l'isthme de Panama? *D.*
10. Quel est celui qui est au sud du même isthme? *P.*
11. Quelle grande rivière traverse le Vénézuéla de l'ouest à l'est? *O.*
12. Quelle île est située au nord-est du Vénézuéla? *T.*
13. Quel golfe se trouve au nord-ouest du Vénézuéla? *M.*
14. Montrez le lac Maracaïbo. (10)
15. Montrez l'Equateur.—Le Brésil.—Les Guyanes.—Le Pérou.
16. Quelle est la capitale de l'Equateur? *Q.*
17. —Celle du Brésil? *R.-J.*
18. Quelles montagnes sont situées entre le Vénézuéla et le Brésil? *P.*
19. Quelle chaîne est située dans l'E. du Brésil? *E.*
20. Quelles sont les deux contrées situées à l'ouest du Brésil? *P., B.*
21. Quelle est la capitale du Pérou? *L.*—De la Bolivie? *L. P.*
22. Quel grand fleuve traverse le Brésil de l'ouest à l'est? *A.*
23. Quel affluent de l'Amazone arrose la Bolivie par plusieurs branches? *M.*
24. Quels sont les deux principaux affluents de l'Amazone situés au-dessous de la Madeira? *T., X.*
25. Lequel unit l'Orénoque à l'Amazone? *N.*
26. Montrez l'île Marajo.—La rivière Para.
27. Quelle rivière se jette dans la rivière Para? *T.*
28. Quels sont les états situés au sud de la Bolivie et du Brésil? *A., C., P., U.*
29. Montrez la rivière Rio de la Plata.
30. Quel est le principal tributaire du Rio de la Plata? *P.*
31. Quelles montagnes traversent le Pérou? *A.*
32. Montrez le pic Aconcagua, le plus élevé de l'Amérique. (32)
33. Quelle est la capitale de la Plata? *B.-A.*
34. —Du Paraguay? *A.*—De l'Uruguay? *M.*
35. Quelle contrée se trouve le plus au sud de l'Amérique? *P.*
36. Montrez la Terre-de-Feu (*Tierra del Fuego*).
37. Quel détroit sépare cette île de la Patagonie? *M.*
38. Quel groupe d'îles est situé à l'est du détroit de Magellan? *F.*
39. Quel cap est au S. de l'Amérique méridionale? *H.*

EUROPE.

RESUME.

Bornes.—Océan Glacial arctique, Asie, mer Caspienne, Caucase, mer Noire, Méditerranée, Atlantique.

Iles.—Nouvelle-Zemble, archipel Danois, îles Britanniques, Baléares, Corse, Sardaigne, Sicile, *Malte, Ioniennes, Candie.*

Presqu'îles.—Suède et Norvège, Danemark, Grèce, Italie, Espagne et Portugal.

Isthmes.—Pérékop, Corinthe.

Caps.—Nord, Matapan, Finisterre, la Hogue, Land's-End.

Montagnes.—Dovrefield, Ourals, Caucase, *Carpathes*, Alpes, Pyrénées, Vésuve, Etna.

Océans et Mers.—Océan Glacial arctique, *mer Blanche*, mer Caspienne, l'Archipel ou mer Egée, mer Noire, Méditerranée, Adriatique, Atlantique, la Manche, mer du Nord, Baltique.

Golfes.—De Tarante, du Lion, de Gascogne ou de Biscaye, *de Riga*, de Finlande, de Bothnie.

Détroits.—Bosphore, Dardanelles, Phare de Messine, de Gibraltar, Pas de Calais, Saint-Georges, du Nord.

Fleuves.—Oural, Volga, Don, Dniéper, Danube, Tibre, Pô, Rhône, Tage, Garonne, Loire, Seine, Tamise, Rhin.

Lacs.—Onéga, Ladoga, de Genève, de Constance.

Divisions.

ÉTATS.	Population.	Superficie m. c.	Pop. rel.	Capitales.
Angleterre	29,000,000	58,000	500	Londres.
Ecosse	4,000,000	30,000	133	Edimbourg.
Irlande	5,000,000	32,500	154	Dublin.
Danemark	2,200,000	15,000	147	Copenhague.
Suède	4,900,000	171,000	29	Stockholm.
Norvège	2,100,000	124,500	17	Christiania.
Russie	100,000,000	2,100,000	47	Saint-Pétersbourg.
France	39,000,000	204,000	191	Paris.
Belgique	6,200,000	11,400	544	Bruxelles.
Hollande	4,500,000	12,700	354	La Haye.
Allemagne	50,000,000	209,000	243	Berlin.
Autriche-Hongrie	42,000,000	240,000	175	Vienne.
Suisse	3,000,000	16,000	188	Berne.
Espagne	18,000,000	195,000	92	Madrid.
Portugal	4,700,000	34,200	138	Lisbonne.
Italie	30,000,000	111,000	270	Rome.
Monténégro	300,000	3,500	86	Cettigné.
Serbie	2,100,000	19,000	110	Belgrade.
Roumanie	5,500,000	48,000	114	Bukharest.
Bulgarie	3,000,000	37,800	79	Sofia.
Turquie	5,000,000	65,000	77	Constantinople.
Grèce	2,200,000	25,000	88	Athènes.
Totaux	362,700,000	3,762,600		

EXERCICES.

1. Quel océan est situé au nord de l'Europe ? *A.*
2. Quelles mers sont situées au sud-est ? *C., N.* (*B.*)
3. Quelle grande mer sépare l'Europe de l'Afrique ? *M.*
4. Quelles mers la Méditerranée forme-t-elle ? *A., A.*
5. Par quel océan l'Europe est-elle bornée à l'ouest ? *A.*
6. Montrez la mer Blanche. (*White Sea*) (40° *l.*)
7. Quelles sont les trois contrées les plus au nord ? *N., S., R.*
8. Quelle mer est située entre la Suède et la Russie ? *B.*
9. Montrez les îles Britanniques (*British Islands*). (55° *l.*)
10. Quels sont les trois états, outre les Iles-Britanniques, qui sont les plus à l'ouest ? *F., P., E.* (*S.*)
11. Quelle est la capitale de la Russie ? *S.-P.*
12. —De la Suède ? *S.*—De la Norvège ? *C.*—De l'Angleterre ? *L.*
13. Quelle est la plus grande contrée de l'Europe ? *R.*
14. Quelle contrée se trouve entre la France et la Russie ? *A.* (*G.*)
15. Quel petit état est situé au nord de l'Allemagne ? *D.*
16. Montrez la Nouvelle-Zemble. (55 *l.*)
17. Montrez les principales îles de la Méditerranée. *C., S., S., C.*
18. Quelle presqu'île est située au sud de la Turquie ? *G.*
19. Quelles montagnes séparent l'Europe de l'Asie ? *O.* (*U.*)
20. Lesquelles se trouvent entre la mer Noire et la Caspienne ? *C.*
21. Quel est le plus grand fleuve de l'Europe ? *V.*
22. Quelle est sa longueur ? (*Voyez la mappemonde.*)
23. Nommez les trois plus grandes rivières qui débouchent dans la mer Noire ? *D., D., D.*
24. Nommez les deux plus grands lacs de la Russie. *L., O.*

ILES BRITANNIQUES.

RESUME.

Iles.—La Grande-Bretagne, l'Irlande, les *Hébrides*, les *Shetland*.
Presqu'iles.—*De Cornouailles, de Galles*, d'Ecosse.
Caps.—*Foreland*, Land's-End, *Clear, Malin*.
Montagnes.—*Grampians*, Cheviots.
Océan et Mers.—Atlantique, mer du Nord, la Manche, mer d'Irlande.
Golfes et Estuaires.—*Moray, du Forth, Wash*, de la Tamise, *de Bristol, de la Clyde, Donegal*.
Détroits.—Pas de Calais, Saint-Georges, du Nord.
Fleuves.—*Forth*, Tamise, Severn, *Mersey, Clyde, Shannon*.
Divisions.—Angleterre (comprenant le pays de *Galles*), Ecosse, Irlande (divisée en provinces nommées *Ulster, Leinster, Munster, Connaught*).
Villes.—ANGLETERRE : Londres, Liverpool, Manchester, Birmingham, Leeds, Sheffield.
ECOSSE : Edimbourg, Glasgow.
IRLANDE : Dublin, Belfast, Cork.

EXERCICES.

1. Nommez les contrées renfermées dans les îles Britanniques. *E., I., E.* (*S.*)
2. Montrez l'Angleterre (*England*). — Montrez l'Ecosse (*Scotland*).
3. Montrez l'Irlande.—Montrez le pays de Galles (*Wales*).
4. Dans quelle partie de la Grande-Bretagne se trouve le pays de Galles ?
5. Par quel océan les îles Britanniques sont-elles bornées à l'ouest ? *A.*
6. Par quelle mer sont-elles bornées à l'est ? *N.*
7. Quelle mer est située entre l'Angleterre et l'Irlande ? *I.*
8. Quelle mer est au sud de l'Angleterre ? *M.* (*E.C.*)
9. Quelles îles sont situées au nord-ouest de l'Ecosse ? *H.*
10. Montrez les îles Shetland.
11. Quel détroit se trouve entre l'Irlande et l'Angleterre ? *S.-G.*
12. Quel golfe est situé au sud du pays de Galles ? *B.*
13. Par quel détroit la France est-elle séparée de l'Angleterre ? *P. de C.* (*D.*)
14. Quel détroit se trouve entre l'Irlande et l'Ecosse ? *N.*
15. Quel cap se trouve au sud-ouest de l'Angleterre ? *L.-E.*
16. Quel cap se trouve au nord de l'Irlande ? *M.*
17. Quelles montagnes séparent l'Ecosse de l'Angleterre ? *C.*
18. Montrez les principaux golfes ou estuaires (*Firths*) de l'Ecosse. *M., F.*
19. Montrez les principaux golfes ou estuaires de l'Angleterre. *W., T., B.*
20. Montrez le principal golfe situé à l'ouest de l'Irlande ? *D.*
21. Sur quelle rivière est située Liverpool ? *M.*
22. Montrez la Tamise. (*Thames*) (0° *l*).
23. Quelle est la capitale de l'Angleterre ? *L.*
24. Sur quelle rivière la ville de Londres est-elle située ? *T.*
25. Quelle est la capitale de l'Ecosse ? *E.*
26. Près de quel golfe cette capitale est-elle située ? *F.*
27. Quelle est la capitale de l'Irlande ? *D.*
28. De quel côté de l'Irlande la ville de Dublin est-elle située ?
29. Quelle est la principale rivière de l'Irlande ? *S.*
30. Dans quel océan cette rivière coule-t-elle ? *A.*
31. Quelles sont les quatre grandes provinces de l'Irlande ? *U., L., M., C.*
32. Montrez l'Ulster.—Le Leinster.
33. Montrez le Munster.—Le Connaught.
34. Montrez, en Angleterre, Liverpool, (3° *l.*), Birmingham (2° *l.*).
35. Quelle est l'orientation de Manchester par rapport à Liverpool ?
36. Sur quelle rivière la ville de Glasgow est-elle située ? *C.*
37. Dans quelle partie de l'Irlande se trouve Cork, (52°) ?—Belfast, (6° *l.*) ?
38. Dans quelle direction Londres est-il à l'égard de la mer d'Irlande ?
39. —Edimbourg ?—Dublin ?—Liverpool ?
40. Dans quelle direction la ville de Liverpool se trouve-t-elle, par rapport à Londres ?
41. Quelle est la situation de l'Angleterre à l'égard de la mer d'Irlande ?

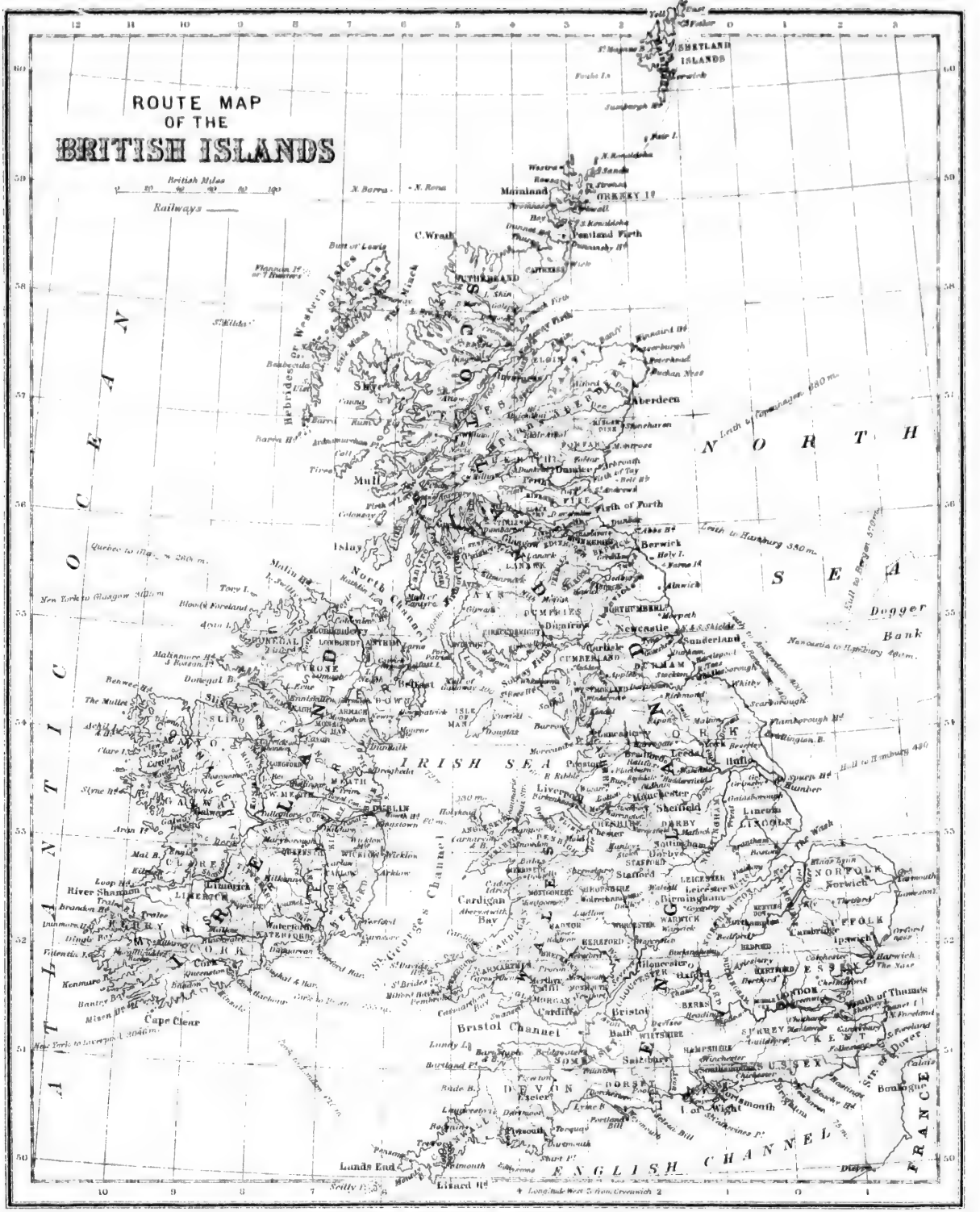
ROUTE MAP
OF THE
BRITISH ISLANDS
British Miles
Railways
SHETLAND ISLANDS
ORKNEY Is
Mainland
Pentland Firth
C. Wrath
Hebrides or Western Isles
Shye
Mull
Islay
Aberdeen
Firth of Forth
Berwick
Newcastle
Sunderland
Carlisle
Dogger Bank
NORTH SEA
ATLANTIC OCEAN
IRISH SEA
Belfast
Dublin
Liverpool
Manchester
Sheffield
Lincoln
Birmingham
Cardigan Bay
Bristol Channel
Bristol
Cardiff
Cape Clear
Lands End
Lizard Hd
ENGLISH CHANNEL
FRANCE
Boulogne
Cambridge
Norwich
Ipswich
Harwich
Cork
Limerick
Waterford
Kilkenny
Wicklow
Arklow
Dunmore
Tralee
Kenmare
Bantry Bay
Mizen Hd
Loop Hd
River Shannon
Donegal B.
Benwee Hd
The Mullet
Malin Hd
Tory I.
Blood Foreland
Malin Hd
Donegal B.
Slyne Hd
Arran Is
Mal B.
Kenmare
Dingle Bay
Valentia I.
Dunmore Hd
Brandon Hd
Tralee
Kenmare
Bantry Bay
Mizen Hd
Cork
Queenstown
Cape Clear
Lundy I.
Bardsey Pt
Bude B.
Lyme B.
Portland Bill
Dartmouth
Lizard Hd
Scilly Is
Longitude West from Greenwich

IRELAND.
British Miles
Railways
North Channel
IRISH SEA
St. Georges Channel
ATLANTIC OCEAN
LONDONDERRY
TYRONE
DOWN
ARMAGH
MONAGHAN
CAVAN
LEITRIM
SLIGO
MAYO
CONNAUGHT
ROSCOMMON
LONGFORD
WESTMEATH
MEATH
GALWAY
KINGS COUNTY
QUEENS COUNTY
LEINSTER
WICKLOW
CARLOW
KILDARE
LIMERICK
TIPPERARY
MUNSTER
WATERFORD
WEXFORD
CORK
Dublin Bay
Galway Bay
Dingle Bay
Kenmare R.
Bantry Bay
Mizen Hd.
Cape Clear
Valentia I.
Aran I.
Mal. Bay
Donegal Bay
Sligo Bay
Belfast
Dublin
Cork
Limerick
Waterford
Wexford
Wicklow
Kilkenny
Athlone
Tullamore
Mullingar
Navan
Drogheda
Kilrush
Killarney
Tralee
Dingle
Ballina
Sligo
Galway
Clonmel
Carrick
Ballymena
Coleraine
Londonderry
Enniskillen
Monaghan
Cavan
Longford
Roscommon
Castlebar
Ennis
Nenagh
Thurles
Maryborough
Naas
Arran

1. Comment l'Irlande est-elle bornée au Nord?
2. Comment est-elle bornée au Sud?
3. —A l'Est?—A l'Ouest?
4. Combien y a-t-il de provinces en Irlande? 4.
5. Nommez ces provinces. *Ur., Mr., Lr., Ct.*
6. Combien y a-t-il de comtés en Irlande? 32.
7. Nommez les comtés situés dans l'Ulster. *Dl., Ly., Am., Te., Dn., Ah., Mn., Fh., Cn.*
8. Nommez ceux de Leinster. *Ld., W. Mh., E. Mh., Lh., Dn., Ke., Ks., Qs., Ww., Wd., Cw., Ky.*
9. Nommez ceux qui sont situés dans le Munster. *Ty., Wd., Ck., Ky., Lk., Ce.*
10. Quels sont ceux de Connaught? *Gy., Rm., Mo., So., Lm.*
11. Quelle est l'île située dans le Canal du Nord (*North Channel*)? *Rn.*
12. Nommez les îles situées à l'embouchure de la baie de Galway. *S. J. of An.*
13. Quelle île trouve-t-on à l'Ouest du comté de Mayo? *Al.*
14. Quel cap est situé au Sud de Cork? *Cr.*
15. Quel cap se trouve au S-O. de Clare? *Lp.*
16. Quel cap est situé sur la côte de Wicklow? *Ww.*
17. Dans quel comté se trouve les monts Mourne? *Dn.*
18. Où se trouvent les Monts Slieve Bloom? *K's.*, and *Q's.*
19. Quelles rivières prennent leurs sources dans ces montagnes? *Sr., Ne., Bw.*
20. Quel lac (*Lough*) est situé entre les comtés Down et Louth? *Cd.*
21. Montrez la baie de Dublin.—Celle de Bantry.
22. Dans quel comté se trouvent les baies Dingle et Tralie? *Ky.*
23. Quelle baie trouve-t-on entre les comtés Clare et Galway? *Gy.*
24. Montrez les baies Clew et Killah.
25. Dans quel comté se trouve la baie Sligo? *So.*—Donegal? *Dl.*
26. Quel est le lac (*Lough*) situé entre les comtés Autrim et Tyron? *Nh.*
27. Nommez quatre des principaux lacs de l'Irlande. *F., Nh., Sd., Ee.*
28. Nommez les principales baies situées dans l'Ulster. *Dl., Sy., Fe., Bt., Dm.*
29. —Celles qui se trouvent dans Leinster. *Dk., Dn.*
30. Montrez celles qui sont situées dans Munster. *Ck., By., Ke., De., De., Bn.*
31. —Celles qui se trouvent dans Connaught. *Gy., Cw., Bd., Ka., So.*
32. Montrez la rivière Shannon.
33. Nommez les principaux lacs formés par le Shannon. *Re., Bf., Ga.*
34. Quelles sont les trois principales rivières situées dans le Nord? *Ee., Fe., Bn.*
35. —Les trois principales situées dans le Sud? *Bw., Sr., Br.*
36. Dans quelle mer le Shannon se jette-t-il? *Ac.*
37. Quelle est la capital de l'Irlande? *Dn.*
38. Sur quelle rivière Dublin est-il situé? *Ly.*
39. Quelle est la seconde ville de l'Irlande? *Ck.*
40. Sur quelle rivière Cork est-il situé? *Le.*
41. Quelles sont les comtés baignés par l'Atlantic, entre l'embouchure du Shannon et la baie Donegal? *Ce., Gy., Mo., So., Lm.*
42. Quels sont les trois comtés les plus au Nord? *Dl., Ly., Am.*
43. —Les trois les plus au Sud? *Ky., Ck., Wd.*
44. Nommez les comtés traversés par le 54e degré de latitude. *Mo., So., Lm., Cn., Mn., Lh.*
45. Nommez ceux qui le sont par le 53e degré de latitude. *Ce., Gy., Ty., Qs., Ke., Ww.*
46. Par quels comtés le comté Galway est-il borné? *Mo., Rn., Ks., Ty., Ce.*
47. Nommez les comtés qui bordent la mer d'Irlande (*Irish Sea*) entre les comtés Antrim et Wexford. *Dn., Lh., Mh., Dn., Ww.*
48. Quels sont les comtés baignés par le canal Saint Georges? *Wd., Wd., Ck.*
49. Quels comtés la baie Galway sépare-t-elle? *Ce., Gy.*
50. Quelle rivière sépare les Comtés Kilkenny et Waterford? *Sr.*
51. Quelle rivière arrose le comté Wexford? *Sy.*
52. Quelle comté est arrosé par la rivière Blackwater? *Ck.*

RESUME.

Ile.—Corse.
Caps.—*Gris-Nez*, de la Hogue.
Montagnes.—*Vosges, du Jura*, Alpes (monts *Blanc* et *Cenis*), *Cevennes*, Pyrénées.
Océan et Mers.—Méditerranée, Atlantique, la Manche, du Nord.
Golfes.—Du Lion, de Gascogne ou de Biscaye.
Détroit.—Pas de Calais.
Fleuves.—Rhône, Gironde (Garonne), Loire, Seine.
Divisions.—La France se divisait autrefois en 35 *provinces*, elle se divise maintenant en 86 *départements*.
Villes.—Paris, Lyon, Marseille, Bordeaux, *Lille*, *Toulouse*, *Nantes*, le Havre, Rouen, *Tours*.

EXERCICES.

1. Comment la France est-elle bornée au nord? *M.* (*E.-C.*), *P. C.* (*S. D.*), *B.*
2. Comment est-elle bornée au sud? *P.*, *M.*
3. Par quoi est-elle bornée à l'est? *A.*, *S.*, *I.*
4. Par quoi est-elle bornée à l'ouest? *G.*, *A.*
5. Qu'est-ce qui sépare la France de l'Angleterre? *M.*, *P. C.*, (*E. C.*, *S. D.*)
6. Combien y a-t-il de départements? 86.
7. Quelle grande île, formant un département, est située dans la Méditerranée? *C.*
8. Montrez et suivez le cours de la Seine.
9. Quelles grandes villes sont situées sur la Seine? *P.*, *R.*
10. Quel fleuve coulant du N. au S., se décharge dans la Méditerranée? *R.*
11. Quelle grande ville est située sur le Rhône? *L.*
12. Quelles grandes rivières ont leurs embouchures dans le golfe de Gascogne? *G.*, *L.*
13. Comment s'appelle la Gironde dans la partie supérieure de son cours? *G.*
14. Quelles sont les deux principales villes situées sur la Loire? *N.*, *T.*
15. Quelle chaîne de montagnes se trouve entre la France et l'Espagne? *P.*
16. Quelles chaînes de montagnes sont situées à l'est de la France? *V.*, *J.*, *A.*
17. Quel détroit sépare la France de l'Angleterre? *P. C.* (*D.*)
18. Sur quelle rivière Tours est-il situé? *L.*
19. Quelle est la capitale de la France? *P.*
20. Sur quelle rivière Paris est-il situé? *S.*
21. Quelle chaîne de montagnes se trouve dans le sud de la France? *C.*
22. Montrez les monts du Jura.—Les Vosges.
23. Montrez le mont Cenis, dans les Alpes.
24. Montrez la Savoie.
25. Quels monts remarquables se trouvent dans la Savoie? *B.*, *C.*
26. Quel pays est séparé de la France par les montagnes du Jura? *S.*
27. Quel grand port français de commerce est situé sur la Méditerranée? *M.*
28. Quelle ville remarquable est située sur la Garonne? *B.*
29. Quelle ville se trouve à l'embouchure de la Seine? *H.*
30. Quel golfe est situé au sud de la France? *L.*
31. Dans quelle partie de la France est la Bretagne? (Brittany.)
32. Où se trouve la Normandie?
33. Quelle est l'orientation du Maine par rapport à la Normandie?
34. Quelle est l'orientation de l'Anjou par rapport à la Bretagne?
35. Dans quelle province se trouvait Paris? *I.-de-F.*
36. Dans quel département se trouve maintenant cette ville? *S.*
37. Quelle province se trouvait à l'est de l'Ile-de-France? *C.*
38. Où se trouvent le Languedoc et la Provence?
39. Quels départements touchent aux Pyrénées? *B.-P.*, *H.-P.*, *A.*, *P.-O.*

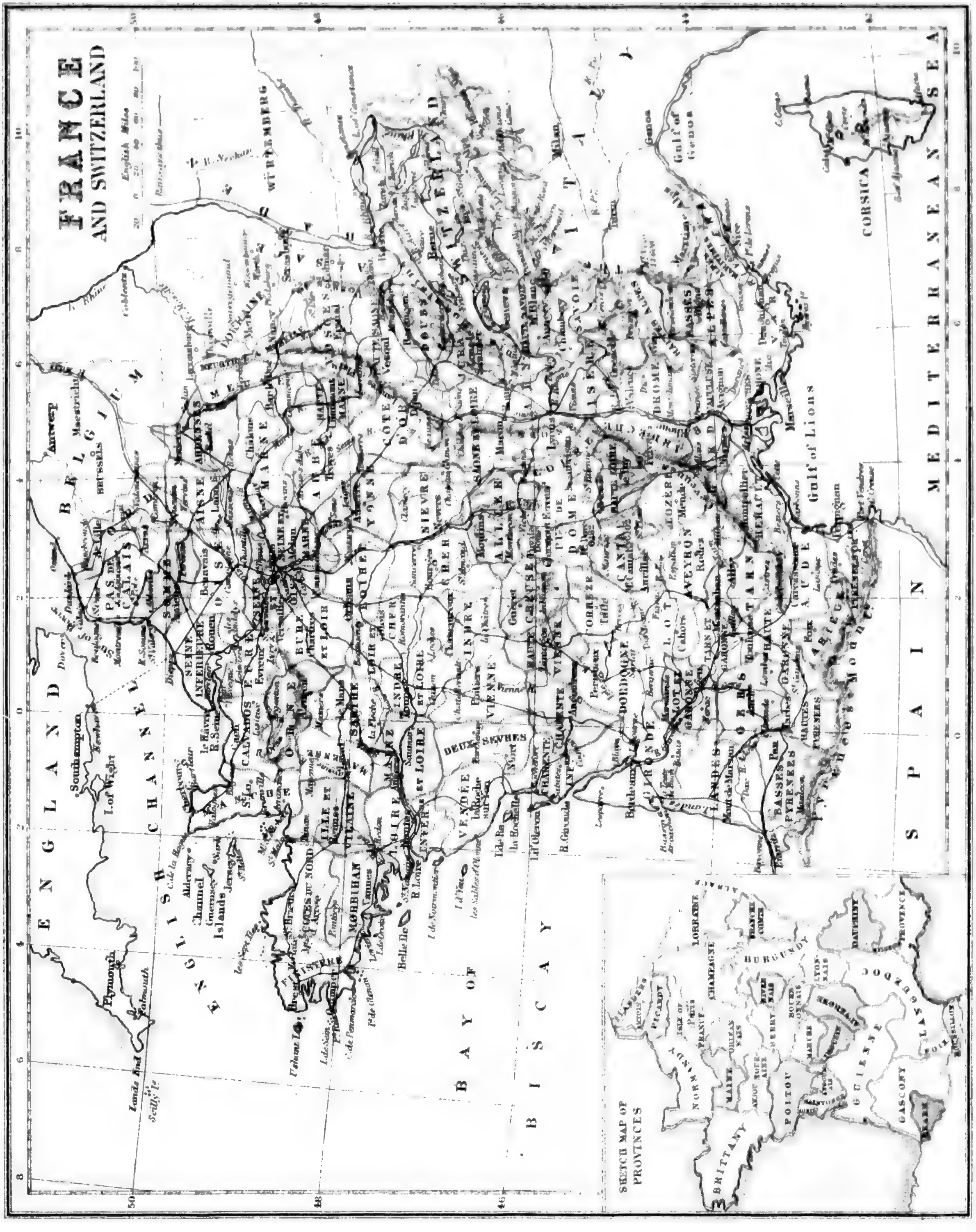
FRANCE
AND SWITZERLAND
English Miles
ENGLAND
BELGIUM
ENGLISH CHANNEL
BAY OF BISCAY
MEDITERRANEAN SEA
SPAIN
ITALY
WÜRTEMBERG
SWITZERLAND
CORSICA
Gulf of Lions
Gulf of Genoa
Southampton
Plymouth
Falmouth
Lands End
Scilly Is.
I. of Wight
Dover
Antwerp
Maestricht
BRUSSELS
Channel Islands
Alderney
Guernsey
Jersey
Belle Ile
Milan
Genoa
Paris
Lyons
Marseille
Bordeaux
SKETCH MAP OF
PROVINCES
BRITTANY
NORMANDY
PICARDY
CHAMPAGNE
LORRAINE
BURGUNDY
POITOU
GUIENNE
GASCONY
LANGUEDOC
PROVENCE
DAUPHINY

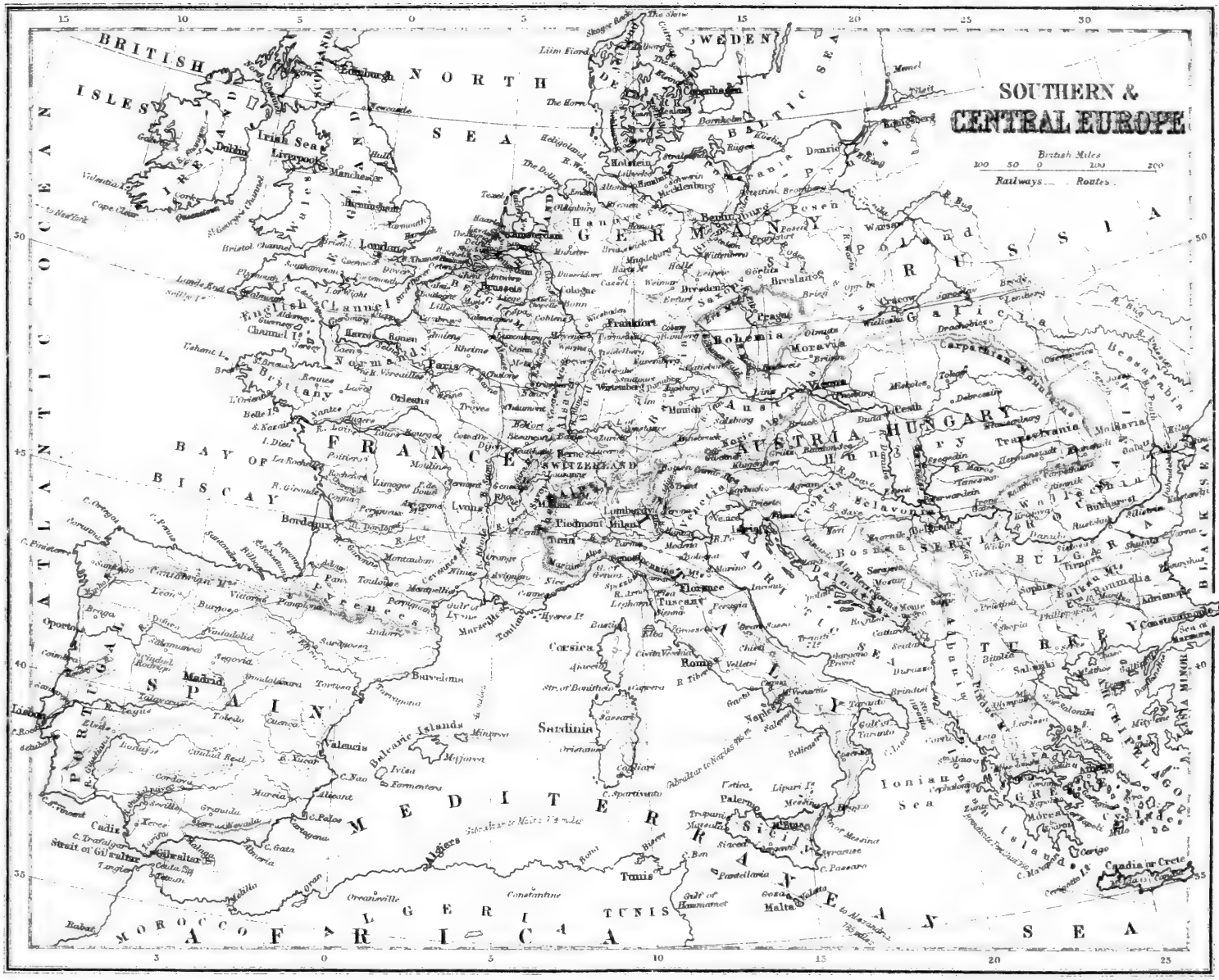
SOUTHERN &
CENTRAL EUROPE
British Miles
100 50 0 100 200
Railways Routes
BRITISH ISLES
NORTH SEA
SWEDEN
GERMANY
RUSSIA
Poland
Galicia
Bohemia
Moravia
AUSTRIA
HUNGARY
Transylvania
Wallachia
Moldavia
SERBIA
BULGARIA
TURKEY
GREECE
Crete
FRANCE
SWITZERLAND
Piedmont
Lombardy
Tuscany
Corsica
Sardinia
Sicily
Malta
Tunis
TUNIS
ALGERIA
MOROCCO
AFRICA
SPAIN
PORTUGAL
Balearic Islands
Pyrenees
Alps
Carpathian Mountains
BAY OF BISCAY
ATLANTIC OCEAN
MEDITERRANEAN SEA
BLACK SEA
Ionian Sea
Adriatic Sea
Baltic Sea
Irish Sea
English Channel
Strait of Gibraltar
Gibraltar
Cadiz
Lisbon
Madrid
Valencia
Barcelona
Marseilles
Bordeaux
Paris
Orleans
Brussels
Antwerp
Amsterdam
Hague
London
Dublin
Edinburgh
Liverpool
Manchester
Birmingham
Cologne
Frankfort
Hamburg
Berlin
Dresden
Breslau
Prague
Vienna
Budapest
Munich
Milan
Turin
Genoa
Florence
Rome
Naples
Palermo
Messina
Syracuse
Algiers
Constantinople
Salonica
Athens
Sofia
Belgrade
Copenhagen
Christiania
Stockholm
Riga
Warsaw
Cracow
Lemberg
Odessa
Kiev
Moscow
Petersburg
Kazan
Tiflis
Erzerum
Smyrna
Candia or Crete

RESUME.

Bornes.—Mer du Nord, mer Baltique, Russie, mer Noire, Méditerranée, Atlantique.

Iles.—Archipel Danois, Britanniques, Baléares (*Majorque, Minorque*), Corse, Sardaigne, Sicile, *Malte, Ioniennes, Candie.*

Presqu'îles.—Danemark, Grèce, Italie, Espagne et Portugal.

Isthmes.—Pérékop, Corinthe.

Caps.—Matapan, Finisterre, la Hogue, Land's-End.

Montagnes.—*Carpathes,* Alpes, *Apennins,* Pyrénées, Vésuve, Etna.

Océan et Mers. — L'Archipel ou mer Egée, mer Noire, Méditerranée, Adriatique, Atlantique, la Manche, mer du Nord, Baltique.

Golfes.—De Tarante, du Lion, de Gascogne ou de Biscaye.

Détroits.—Bosphore, Dardanelles, Phare de Messine, de *Bonifacio,* de Gibraltar, Pas de Calais, Saint-Georges, du Nord.

Fleuves.—Danube, Tibre, Pô, Rhône, Tage, Garonne, Loire, Seine, Tamise, Rhin, *Elbe.*

Lacs.—De Genève, de Constance.

Divisions.—1° Grande-Bretagne et Irlande ; capitale, *Londres ;*—2° Danemark ; cap., *Copenhague ;*—3° France ; cap., *Paris ;*— 4° Belgique ; cap., *Bruxelles ;*—5° Hollande ; cap., *la Haye ;*—6° Allemagne ; cap., *Berlin ;*—7° Autriche-Hongrie ; cap., *Vienne ;*—8° Suisse ; cap., *Berne ;*—9° Portugal ; cap., *Lisbonne ;*—10° Espagne ; cap., *Madrid ;* —11° Italie ; cap., *Rome ;*— 12° Monténégro ; cap., *Cettinié ;*—13° Serbie ; cap., *Belgrade ;*—14° Roumanie ; cap., *Bukharest ;*—15° Bulgarie ; cap., *Sofia ;*—16° Turquie ; cap., *Constantinople ;*—17° Grèce ; cap., *Athènes.*

EXERCICES.

1. Par quelles mers l'Europe centrale est-elle bornée au nord ? *N., B.*
2. Quelle mer est située au sud-est ? ***A.***
3. Quelles mers se trouvent au sud ? *M., A.*
4. Par quel océan est-elle bornée à l'ouest ? ***A.***
5. Quelle est la capitale du Danemark ? *C.*—De l'empire d'Allemagne ? *B.*—De la Prusse ? *B.*
6. Quelle est la capitale de l'Autriche-Hongrie ? *V.*—De la Turquie ? *C.*
7. Quelle contrée est au sud de la Turquie ? *G.*
8. Quelle est la capitale de l'Espagne ? *M.*—Du Portugal ? *L.* —De l'Italie ? *R.*
9. Montrez la France.—L'Angleterre.
10. Quelle est la principale ville de la Suisse ? *B.*
11. —La capitale de la Belgique ? *B.*—De la Hollande ? *H.*
12. Montrez l'île de Candie (35).—La Sicile.—La Sardaigne.
13. Quelle île de la Méditerranée appartient à la France ? *C.*
14. Quel groupe d'îles, situé dans la Méditerranée, appartient à l'Espagne ? *B.*
15. Nommez les deux principales îles de ce groupe ? *M., M.*
16. Montrez la presqu'île hispanique. (*L'Espagne et le Portugal.*)
17. Quelle presqu'île est située dans le N. de l'Europe centrale ? *D.*
18. Quelle presqu'île est située au sud-est de la France ? *I.*
19. Montrez les Alpes (46-7).—Les Apennins (8 *l*).
20. Montrez les monts Carpathes (48).
21. Quel golfe est situé au nord de l'Espagne ? *G.*
22. Quelle mer se trouve entre la France et l'Angleterre ? *M.*(*E.C.*)
23. Quel détroit unit la Manche à la mer du Nord ? *P. C.* (*D.*)
24. Quel détroit sépare la Sicile de l'Italie ? *M.*
25. Quel détroit sépare l'île de Corse de la Sardaigne ? *B.*
26. Quel est celui qui unit la Méditerranée à l'Atlantique ? *G.*
27. Quelle grande rivière arrose l'est de l'Europe centrale ? *D.*
28. Dans quelle mer se jette le Danube ? *N.* (*B.*)
29. Quelles sont les deux grandes rivières qui, arrosant l'Allemagne, se jettent dans la mer du Nord ? *R., E.*
30. Nommez les quatre principales rivières qui arrosent la France ? *S., L., G., R.*
31. Quelle est l'orientation de l'Espagne à l'égard de la France ?
32. —Celle de la France à l'égard de l'Italie ?—Celle de l'Italie à l'égard de l'Autriche-Hongrie ?

ASIE.

RESUME.

Bornes.—Océans Glacial arctique, Pacifique, Indien ; mers Rouge, Méditerranée ; Europe.
Iles.—Du Japon (*Yesso*, Nippon, *Sikok*, Kiou-Siou), Formose, Haïnan, Ceylan.
Presqu'îles. – *Kamchatka*, Corée, Malacca, Décan, Arabie, Asie Mineure.
Isthme.—Suez.
Caps.—Nord-Est, Oriental, *Cambodge*, Romania, Comorin.
Montagnes.—Oural, Altaï, *Jablonoï*, Himalaya (Everest), Caucase, *Taurus*, *Ararat*.
Mers et Golfes.—Océan Glacial, Pacifique, Behring, Okhotsk, du Japon Jaune, de Chine, de Siam, de Bengale, Persique, d'Arabie, Indien, Rouge, Méditerranée, Noire, Caspienne.
Détroits.—De Behring, *de Corée*, de Malacca, de Bab-el-Mandeb, Dardanelles, Bosphore.
Fleuves.—Obi, *Iénisséi*, Léna, *Amour*, Hoang-Ho (fleuve Jaune), Yang-tse-Kiang (fleuve Bleu), *Mékong*, Gange, Indus, *Euphrate*.

Lacs.—*Aral* (mer ou lac), *Baïkal*.

Divisions.

ÉTATS.	Population.	Superficie m. c.	Pop. rel.	Capitales.
Turquie d'Asie	17,000,000	700,000	24	Smyrne (port princ.).
Arabie	6,000,000	1,000,000	6	Mascate (ville princ.).
Perse	8,000,000	600,000	13	Téhéran.
Indes anglaises	285,000,000	1,500,000	187	Calcutta.
Indo-Chine française	17,000,000	105,000	162	Saïgon, Hué.
Siam	6,000,000	270,000	22	Bangkok.
Chine	400,000,000	4,400,000	88	Pékin.
Japon	40,000,000	150,000	267	Tokio.
Sibérie	10,000,000	6,000,000	2	Irkoutsk (ville princ.)
Autres états	21,000,000	1,300,000	16	
Totaux	810,000,000	16,025,000		

EXERCICES.

1. Par quoi l'Asie est-elle bornée au nord ? *O. G.*
2. —A l'est ? *O. P.*—Au sud ? *O. I.*—A l'ouest ? *M. R.*, *M.*, *E.*
3. Quelle est la contrée la plus au nord de l'Asie ? *S.*
4. —La plus au sud ? *H.*—La plus à l'ouest ? *T.*
5. Montrez les états suivants et nommez leurs capitales : la Chine. *P.*—Le royaume d'Annam. *H.*—Le Japon. *T.*
6. Montrez l'Hindoustan et nommez sa capitale. *C.*
7. Quel groupe d'îles est situé à l'est de la Chine ? *J.*
8. Quelles sont les principales îles de ce groupe ? *Y.*, *N.*, *S.*, *K.*
9. Quelle île est située au sud de l'Hindoustan ? *C.*
10. Montrez la presqu'île de Kamtchatka.
11. —Celle de Corée.—Celle de Malacca.—Celle du Décan.
12. Montrez la mer Rouge.—Le golfe Persique.—La mer Noire.
13. Quelle grande presqu'île est formée par la mer Rouge, la mer Arabique et le golfe Persique ? *A.*
14. Quel isthme unit l'Asie à l'Afrique ? *S.*
15. Quels sont les deux caps situés au sud à peu près sous la même latitude ? *C.*, *C.*
16. Quel cap trouve-t-on au S. de la presqu'île de Malacca ? *R.*
17. Quelles montagnes séparent la Sibérie de la Chine ? *A.*, *J.* (*Y.*)
18. Montrez les monts Hymalayas.—Le mont Everest.
19. Quelle est son altitude ? (*Voyez sur la mappemonde.*)
20. Quels monts séparent l'Europe de l'Asie ? *C.*, *O.*
21. Montrez, dans l'Asie Mineure, les monts Taurus et Ararat.
22. Quelle est l'altitude de ces monts ? (*Voyez la mappemonde.*)
23. Montrez la mer de Behring (60).—Celle d'Okhotsk.
24. Quelle mer est située entre la Chine et le Japon ? *J.*
25. Celle qui se trouve au sud de la Corée ? *J.* (*Y.*)
26. Quelle mer trouve-t-on entre l'Arabie et l'Hindoustan ? *A.*
27. Montrez la mer Caspienne.—Le lac Aral.
28. Où se trouve le détroit de Malacca ?
29. Quel est le détroit situé à l'entrée de la mer Rouge ? *B.-M.*
30. Quelles sont les trois grandes rivières de la Sibérie qui se jettent dans l'océan Arctique ? *O.*, *I.*, *L.*
31. Quel grand lac trouve-t-on aux sources de l'Iénisséi ? *B.*
32. Quel est le plus grand fleuve de la Chine ? *Y.-K.* (*F. Bleu*).
33. Quel est le second ? *H.-H.* (*F. Jaune*).
34. Quel grand fleuve coule dans l'ouest de l'Hindoustan ? *I.*
35. Quel fleuve remarquable se jette dans le golfe Persique ? *E.*
36. Qu'est-ce qui sépare l'Asie de l'Europe ? *O.*, *O.* (*U.*, *U.*)

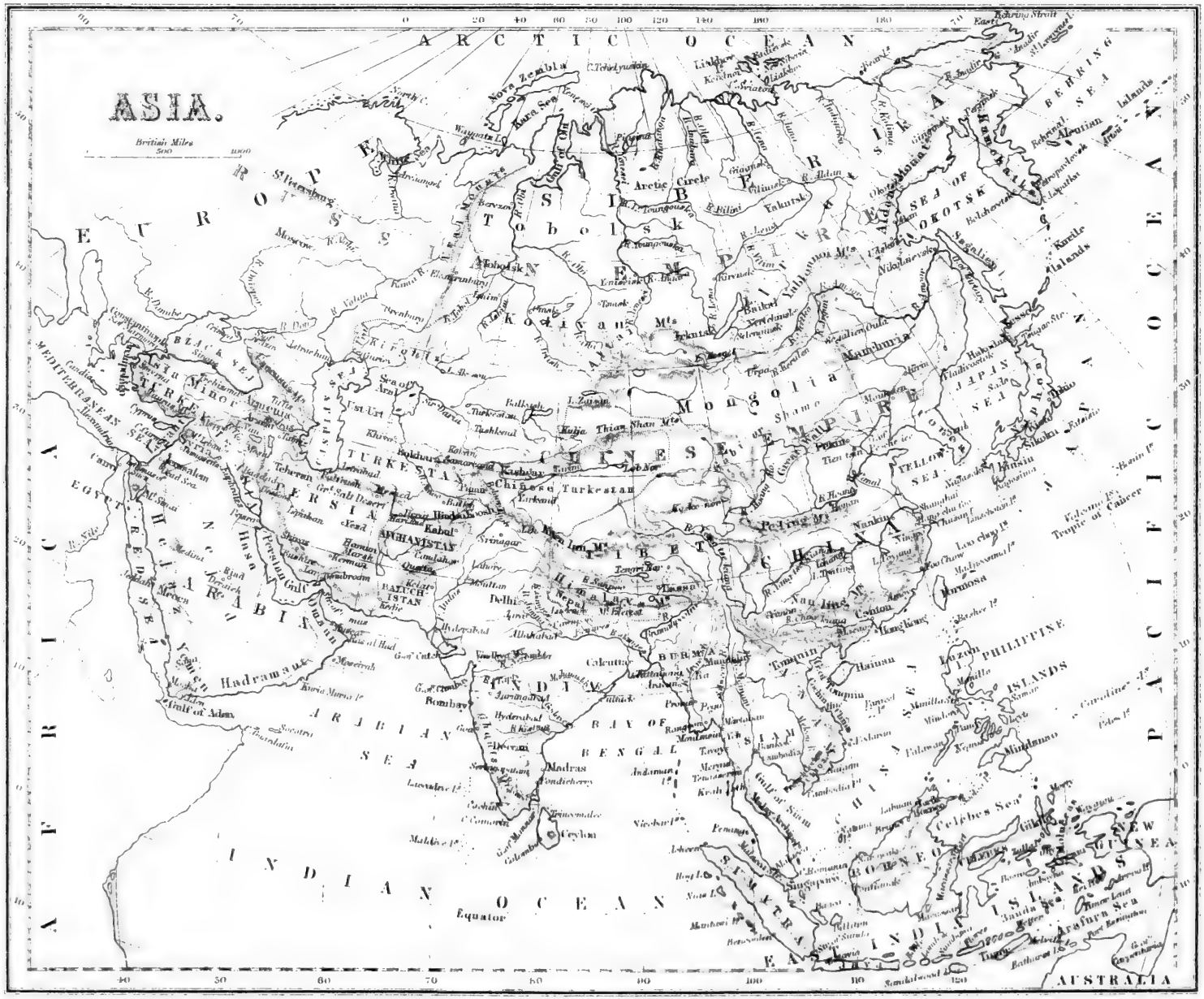
ASIA.
British Miles
500
1000
ARCTIC OCEAN
Nova Zembla
Kara Sea
Waigatz I.
Gulf of Ob
Arctic Circle
Tobolsk
Yakutsk
Aldan
Okotsk
Sea of Okotsk
Behring Strait
Behring Sea
Aleutian Islands
Kurile Islands
Sakhalin
Mongolia
Manchuria
Kokonor
Kashgar
Chinese Turkestan
Kabul
Afghanistan
Tibet
Himalaya Mts
Delhi
Calcutta
Bombay
Madras
Ceylon
Hyderabad
Bay of Bengal
Arabian Sea
Indian Ocean
Equator
Persian Gulf
Hadramaut
Gulf of Aden
Mecca
Medina
Cairo
Nile
Mediterranean Sea
Black Sea
Caspian Sea
Aral Sea
Teheran
Bagdad
Tiflis
Constantinople
Smyrna
Cyprus
Crete
Rhodes
Sea of Marmora
Danube
Volga
Moscow
St. Petersburg
Kiev
Odessa
Astrakhan
Kirghis
Tashkend
Bokhara
Samarcand
Khiva
Yarkand
Kashgar
Lake Lop Nor
Peking
Nankin
Canton
Macao
Hong Kong
Shanghai
Yellow Sea
Japan Sea
Sea of Japan
Yeddo
Nagasaki
Formosa
Hainan
Tonkin
Siam
Burmah
Rangoon
Mandalay
Bhamo
Ava
Calcutta
Gulf of Siam
Malacca
Singapore
Sumatra
Borneo
Celebes
Celebes Sea
Philippine Islands
Luzon
Mindanao
Manilla
Sulu Islands
Arafura Sea
New Guinea
Timor
Java
Batavia
Bangkok
Cambodia
Tropic of Cancer
Equator
AUSTRALIA

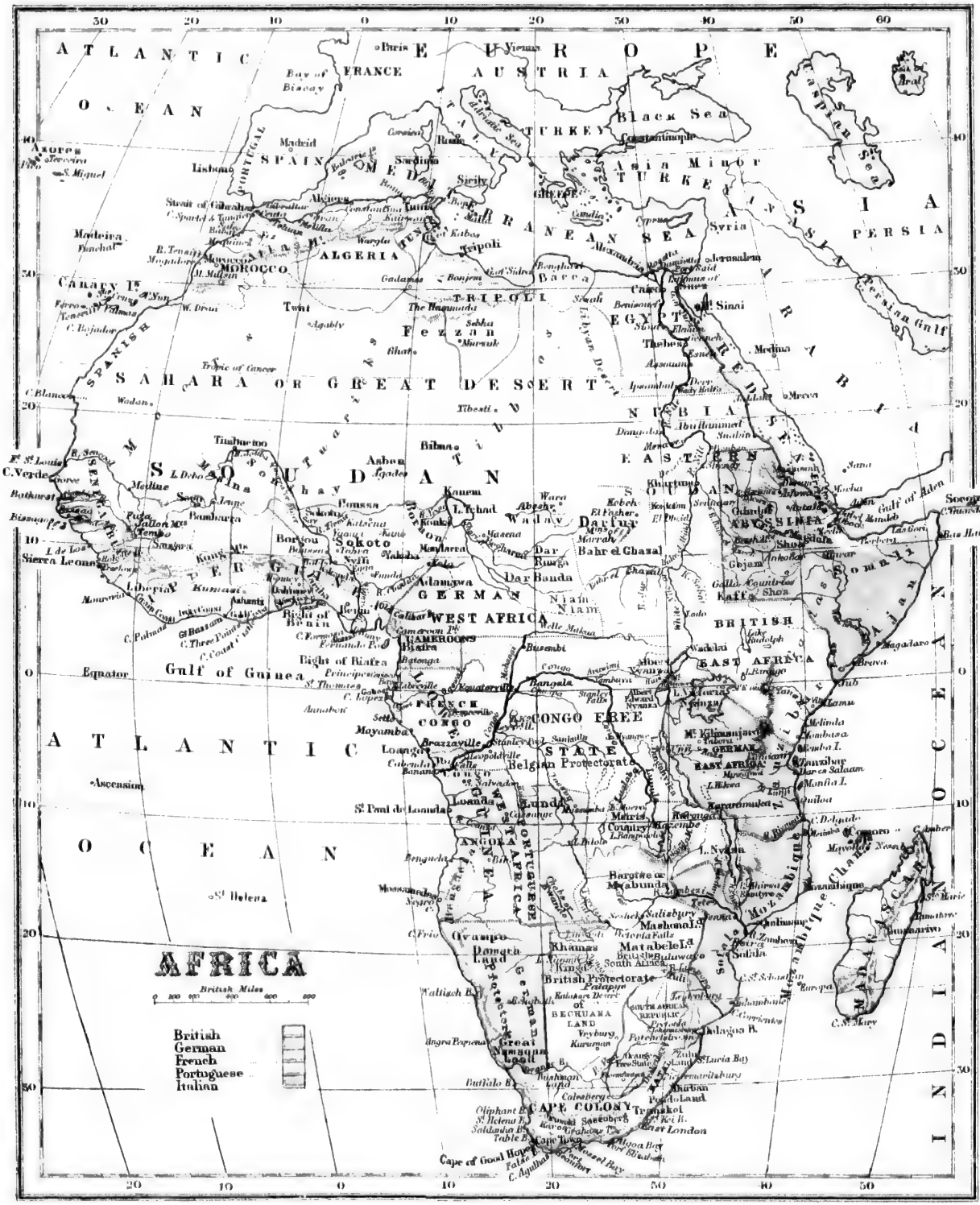
AFRICA
British Miles
British
German
French
Portuguese
Italian
ATLANTIC OCEAN
EUROPE
FRANCE
AUSTRIA
TURKEY
Black Sea
Asia Minor
ASIA
PERSIA
Persian Gulf
Caspian Sea
Aral
Madrid
SPAIN
Lisbon
Madeira
Canary Is.
MOROCCO
ALGERIA
TRIPOLI
Fezzan
EGYPT
Cairo
Sinai
Jerusalem
Mecca
Medina
Red Sea
SAHARA OR GREAT DESERT
NUBIA
EASTERN SOUDAN
ABYSSINIA
Socotra
Gulf of Aden
Somali
Sierra Leone
Liberia
Ashanti
Bight of Benin
Bight of Biafra
Gulf of Guinea
Equator
GERMAN WEST AFRICA
CAMEROONS
FRENCH CONGO
CONGO FREE STATE
Belgian Protectorate
BRITISH EAST AFRICA
GERMAN EAST AFRICA
Kilimanjaro
Zanzibar
Mozambique
Madagascar
Ascension
St. Helena
Cape of Good Hope
CAPE COLONY
Natal
Transvaal
Orange Free State
Matabeleland
Mashonaland
Rhodesia
Nyassa
Lake Chad
Sahara
Nile
Niger
Congo
Zambezi
Orange R.
Cape Town
Pretoria
Bloemfontein
Kimberley
Durban
Port Elizabeth
East London
Table B.
Walfish B.
Angra Pequena
Great Namaqualand
British Protectorate of BECHUANA LAND
SOUTH AFRICA REPUBLIC
Zulu Land
Tembu Land
Pondo Land
Transkei
Kaffraria
Cape of Good Hope
C. Agulhas
Mozambique Channel
INDIAN OCEAN

RESUME.

Bornes.—Méditerranée, mer Rouge, océan Indien, Atlantique.
Iles.—Madagascar, de la Réunion, Maurice, du Cap-Vert, Canaries, Madère.
Isthme.—De Suez.
Caps.—Blanc, *Bon*, Guardafui, Bonne-Espérance, Vert.
Montagnes.—Atlas, Kongs, de l'Abyssinie, Neigeuses.
Désert.—Sahara.
Mers et Golfes.—Méditerranée, de *Gabès* (Kabes), de la Sidre, Rouge, d'Aden, de Guinée.
Détroits.—Gibraltar, Bab-el-Mandeb, canal de Mozambique.
Fleuves.—Nil, Sénégal, Gambie, Niger, Congo, Orange, Zambèze.
Canal.—De Suez.
Lacs.—Tchad, Albert, Victoria, Tanganika, Nyassa.

Divisions.

CONTRÉES.	Population.	Superficie m. c.	Pop rel.	Capitales.
Maroc	7,500,000	300,000	25	Fez.
Algérie	3,800,000	250,000	15	Alger.
Tunisie	1,500,000	45,000	33	Tunis.

Divisions *(suite)*.

CONTRÉES.	Population.	Superficie m. c.	Pop rel.	Capitales.
Tripoli	1,000,000	390,000	26	Tripoli.
Egypte	7,000,000	400,000	17	Le Caire.
Abyssinie	5,000,000	200,000	25	Gondar.
Zanguebar angl	1,000,000	154,500	4	Zanzibar (ville pr.)
Zanguebar allem.	5,000,000	463,500	11	
Mozambique port.	3,000,000	309,000	10	Mozambique.
Madagascar	4,000,000	231,700	17	Tananarive.
Transvaal	800,000	115,000	7	Pretoria.
Orange	150,000	45,000	3	Bloemfontein.
Natal	500,000	21,000	24	Piétermaritzbourg.
Le Cap	1,700,000	225,000	7	Le Cap.
Congo français	4,000,000	309,000	13	
Sahara indép.	4,000,000	2,041,000	2	Kartoum (ville pr.)
Soudan indép.	40,000,000	3,862,000	10	
Congo indép.	20,000,000	772,500	26	Boma.
Autres contrées	30,000,000	2,000,000	15	
Totaux	139,950,000	12,134,200		

EXERCICES.

1. Quelle mer est au nord de l'Afrique ? *M.*
2. —Au N.-E. ? *R.*—Quel océan est à l'E. ? *I.*
3. Quel océan est situé à l'ouest ? *A.*
4. Nommez les états situés sur la Méditerranée. *M.*, *A.*, *T.*, *T.*, *E.*
5. Quelles sont leurs capitales ? *F.*, *A.*, *T.*, *T.*, *C.*
6. Quels sont les états bornés par la mer Rouge (*Red Sea*) ? *E.*, *A.*
7. Quelles sont les capitales de ces Etats ? *C.*, *G.*
8. Montrez la colonie du Cap et nommez sa capitale. *C.-T.*
9. Quelle est la capitale de la colonie de Natal ? *P.*
10. Montrez la Guinée méridionale. (*Lower G.*) (10*s*)
11. Montrez la Guinée septentrionale.
12. Montrez la Sénégambie.—Le Sahara.
13. Quelle grande île est située au sud-est de l'Afrique ? *M.*
14. Quel canal sépare cette île de la terre ferme ? *M.*
15. Quel groupe d'îles est situé au nord-ouest ? *C.*
16. Quel isthme est situé entre la mer Rouge et la Méditerranée ? *S.*
17. Quel canal unit la mer Rouge à la Méditerranée ? *S.*
18. Quels sont les quatre caps situés aux quatre points cardinaux de l'Afrique ? *B.*, *G.*, *B.-E.*, *V.*
19. Montrez la Barbarie. (31-0.)
20. Quelle chaîne de montagnes traverse cette contrée ? *A.*
21. Quelles montagnes trouve-t-on au nord de la Guinée septentrionale ? *K.*
22. Quel golfe est situé au sud-est de la mer Rouge ? *A.*
23. Quel détroit unit ce golfe à la mer Rouge ? *B.-M.*
24. Quels golfes, formés par la Méditerranée, sont situés dans la Barbarie ? *G.*, *S.*
25. Montrez le golfe de Guinée. (0)
26. Quel détroit sépare l'Europe de l'Afrique ? *G.*
27. Montrez, dans le Soudan, le lac Tchad.
28. Montrez la plus grande rivière de l'Afrique ? *N.*
29. Quels sont les deux lacs qui sont vers sa source ? *A.*, *V.*
30. Montrez la rivière Zambèze. (15 *s.*)
31. Quel lac alimente cette rivière ? *N.*
32. Quelle grande rivière traverse la Guinée septentrionale après avoir arrosé le Soudan ? *N.*
33. Montrez la république du Transvaal (23).
34. Quelle rivière borne la colonie du Cap au nord ? *O.*
35. Dans quelles eaux le fleuve Niger débouche-t-il ? *G. G.*

RESUME.

Bornes.—Amérique, pôle austral, océan Indien, Asie.
Divisions physiques.—Malaisie, Australasie, Polynésie.
Iles.—Sumatra, Java, Bornéo, Celèbés, Moluques, Philippines, Nouvelle-Guinée, Nouvelles-Hébrides, Nouvelle-Calédonie, Nouvelle-Zélande, Tasmanie, Mariannes ou des Larons, Carolines, Fidji, Kermadec, des Amis, de Cook, Taïti, de la Société, des Navigateurs, Marquises, Hawaiiennes ou Sandwich.
Montagnes.—Bleues, *Mauna-Loa.*
Mer.—*De Corail.*
Golfe.—De Carpentarie.
Détroits.—De la Sonde, de Torrès, de Bass.
Fleuve et Lac.—*Murray, Torrens.*

Divisions.

CONTRÉES.	Populat.	Superficie m. c.	Pop. rel.	Capitales.
Possessions hollandaises.....	28,000,000	700,000	40	Batavia.
" espagnoles.....	9,000,000	77,000	117	Manille.

Divisions (*suite*).

CONTRÉES.	Populat.	Superficie m. c.	Pop. rel.	Capitales.
Victoria				Melbourne.
Nouvelles-Galles du Sud..				Sydney.
Queensland.....				Brisbane.
Australie méridionale....	4,200,000	3,200,000	1	Adélaïde.
Australie occidentale				Perth.
Tasmanie				Hobart-Town.
Nouvelle-Zélande.....				Wellington.
Possessions françaises	90,000	11,000	8	
" allemandes	500,000	115,000	4	
" portugaises	125,000	5,800	21	
Etat d'Hawaii.....	85,000	6,500	13	Honolulu.
Totaux.	42,000,000	4,115,300		
Australie.....	3,000,000	3,000,000		
Bornéo.....	2,000,000	300,000		
Nouvelle-Guinée	400,000	270,000		

EXERCICES.

1. Quelle est la plus grande île de l'Océanie ? *B.*
2. Quelle province occupe le nord-est de l'Australie ? *Q.*
3. Quelle province se trouve au sud du Queensland ? *N.-G. S.* (*N. S. W.*)
4. Quelle province occupe l'ouest de l'Australie ? *A. o.* (*W. A.*)
5. Quelle grande ville se trouve dans la colonie de Victoria ? *M.*
6. Quelle est la principale rivière du continent australien ? *M.*
7. Quel est le principal golfe ? *C.*
8. Quelle île est située au sud-est ? *T.*
9. Par quel détroit cette île est-elle séparée de la terre ferme ? *B.*
10. Quelles grandes îles se trouvent au sud-est du continent ? *N.-Z.*
11. Quel groupe d'îles se trouve entre les îles Celèbés et la Nouvelle-Guinée ? *M.*
12. Quel groupe trouve-t-on au nord des Celèbés ? *P.*
13. Montrez les îles Carolines. (150° *l.*)
14. Quel groupe est situé au nord des îles Carolines.
15. Montrez les îles Sandwich.
16. Où sont situées les îles Fidji ?
17. Quel détroit sépare la Nouvelle-Guinée de l'Australie ? *T.*
18. Quelle mer est située au nord-est de l'Australie ? *C.*
19. Dans quelle direction se trouve l'Australie par rapport à la Nouvelle-Zélande ? — Les Moluques par rapport à l'Australie ?
20. Quelle est la longueur de l'Australie mesurée sur le tropique du Capricorne ?
21. Dans quelles îles se trouvent les villes d'Honolulu et de Manille ? *H.*, *P.*
22. Quelles sont les principales villes qui sont situées sur la côte méridionale de l'Australie ? *M.*, *A.*
23. Dans quels états sont les villes de Sydney et de Brisbane ? *N.-G. S.*, *Q.*
24. Dans quelle île se trouve Hobart-Town ? *T.*
25. Dans quelle île se trouve Batavia ? *J.*

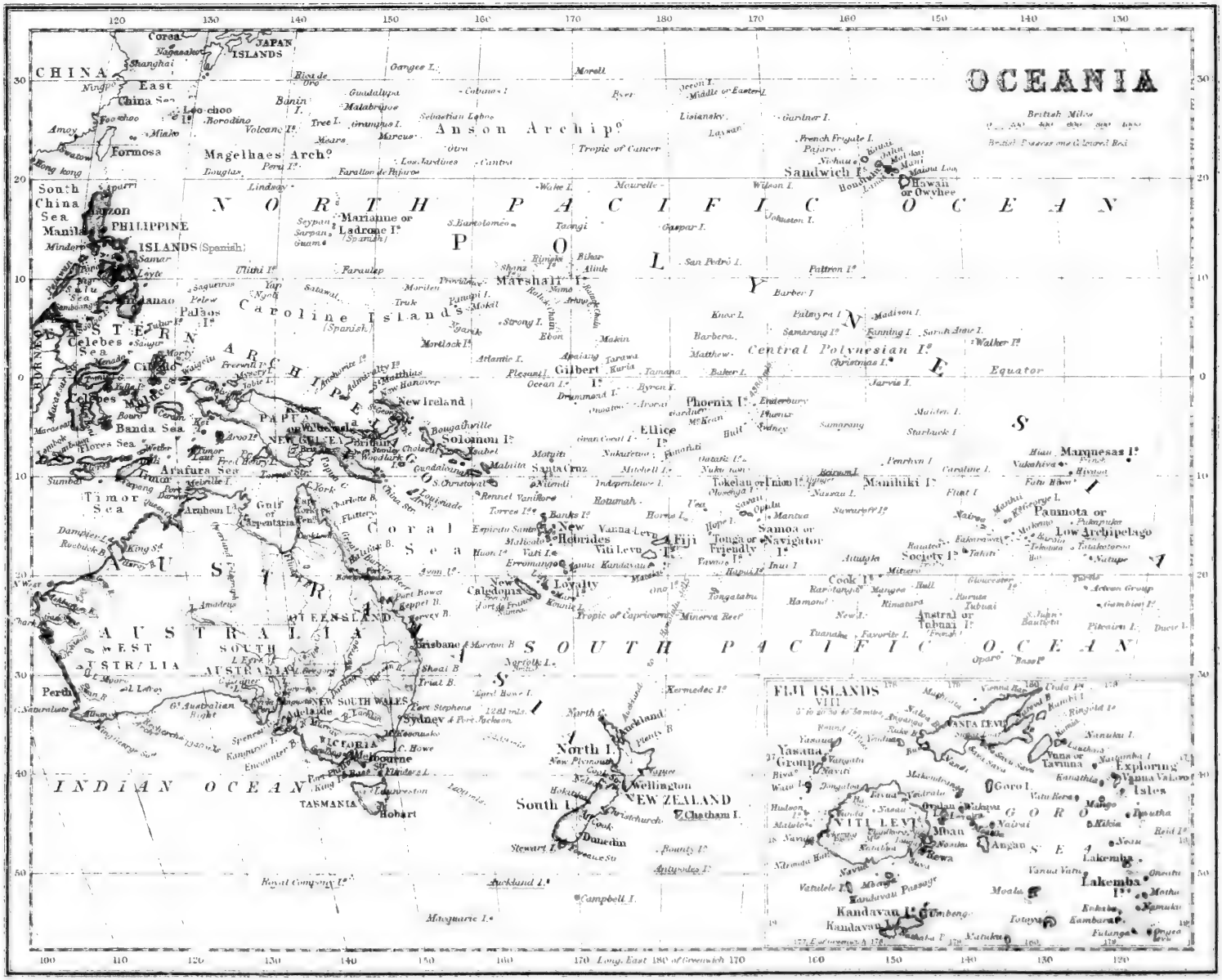
OCEANIA
CHINA
East China Sea
Corea
JAPAN ISLANDS
Formosa
Magelhaes Arch.o
Anson Archip.o
Tropic of Cancer
Sandwich I.s
Hawaii or Owyhee
NORTH PACIFIC OCEAN
South China Sea
Luzon
Manila
PHILIPPINE ISLANDS (Spanish)
Mindanao
Palaos I.s
Marianne or Ladrone I.s
Caroline Islands (Spanish)
Marshall I.s
Gilbert I.s
Central Polynesian I.s
Equator
Celebes Sea
Celebes
Banda Sea
Flores Sea
Arafura Sea
Timor Sea
Gulf of Carpentaria
Coral Sea
New Ireland
Solomon I.s
Santa Cruz
New Hebrides
Fiji I.s
Tonga or Friendly I.s
Samoa or Navigator I.s
Tokelau or Union I.s
Manihiki I.s
Marquesas I.s
Paumota or Low Archipelago
Society I.s
Cook I.s
Austral or Tubuai I.s
Loyalty I.s
New Caledonia
Tropic of Capricorn
SOUTH PACIFIC OCEAN
AUSTRALIA
WEST AUSTRALIA
SOUTH AUSTRALIA
QUEENSLAND
NEW SOUTH WALES
Brisbane
Sydney
Adelaide
Melbourne
VICTORIA
TASMANIA
Hobart
Perth
INDIAN OCEAN
North I.
South I.
Auckland
Wellington
NEW ZEALAND
Chatham I.
Dunedin
FIJI ISLANDS
VITI LEVU
VANUA LEVU
Yasana Group
Vanua or Tavuna
Exploring Isles
Goro I.
GORO SEA
Lakemba I.s
Kandavau I.s
Long. East of Greenwich

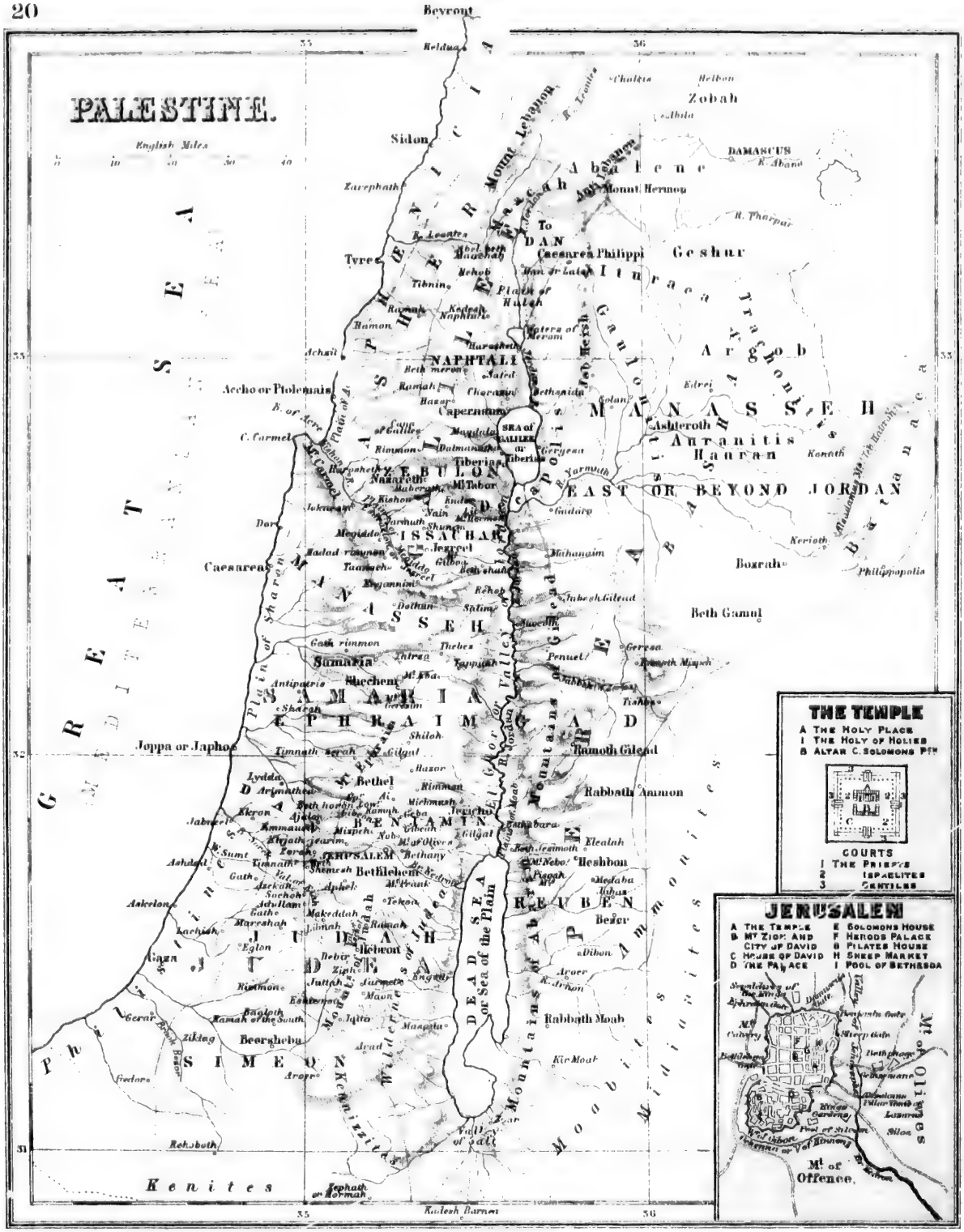
PALESTINE.
English Miles
0 10 20 30 40
GREAT SEA
MEDITERRANEAN
PHŒNICIA
ASHER
ZEBULON
NAPHTALI
ISSACHAR
MANASSEH
SAMARIA
EPHRAIM
GAD
BENJAMIN
JERUSALEM
JUDAH
JUDEA
SIMEON
REUBEN
PERAEA
BASHAN
Beyrout
Sidon
Tyre
Accho or Ptolemais
Caesarea
Joppa or Japho
Zobah
DAMASCUS
Abalene
Mount Hermon
Caesarea Philippi
Geshur
Ituraea
Argob
Trachonitis
Gaulonitis
Ashteroth
Auranitis
Hauran
EAST OR BEYOND JORDAN
Batanaea
Bozrah
Philippopolis
Beth Gamul
Ramoth Gilead
Rabbath Ammon
Heshbon
Bezer
Rabbath Moab
Kir Moab
Beersheba
Gaza
Ashkelon
Lachish
Rehoboth
Kenites
Kadesh Barnea
Zephath or Hormah
Mount Lebanon
Plain of Hulah
Plain of Sharon
Plain of Acre
Plain of Jezreel
Plain of Jordan
Mountains of Gilead
Mountains of Abarim
Mountains of Judah
Wilderness of Judea
Kennizzites
Moabites
Midianites
Ammonites
Philistines
DEAD SEA or Sea of the Plain
Valley of Salt
Valley of Jordan
Sea of Galilee
Tiberias
Capernaum
Nazareth
Mt Tabor
Jezreel
Samaria
Shechem
Bethel
Jericho
Bethlehem
Hebron
Beth Jesimoth
Mt Nebo
Pisgah
Mt Gerizim
Mt Ebal
Mt Gilgal
Mt Gilboa
Mt Carmel
Mt Hermon
Mt Tabor
Mt Gilead
Mt Ephraim
Mt Olives
Mt of Offence
THE TEMPLE
A THE HOLY PLACE
I THE HOLY OF HOLIES
B ALTAR C. SOLOMONS PTH
COURTS
1 THE PRIESTS
2 ISRAELITES
3 GENTILES
JERUSALEM
A THE TEMPLE
B MT ZION AND CITY OF DAVID
C HOUSE OF DAVID
D THE PALACE
E SOLOMONS HOUSE
F HERODS PALACE
G PILATES HOUSE
H SHEEP MARKET
I POOL OF BETHESDA
Mt of Olives
Mt of Offence

RESUME.

1. **Situation.** – La *Terre-Sainte* ou *Palestine* est située au centre de l'ancien continent, dans l'Asie occidentale et sur les bords de la Méditerranée.

2. **Bornes.** – La Terre-Sainte est bornée au N., par la Phénicie et la Syrie ; à l'E., par le désert de Syrie ; au S., par le désert d'Arabie ; à l'O., par la mer Méditerranée.

3. **Montagnes.**—On remarque au S. les monts de *Juda*, auxquels se rattachent le mont *Calvaire* et le mont des *Oliviers*, près de Jérusalem ; au N., le mont *Carmel*, le mont *Thabor*, etc. ; à l'E., les monts de *Galaad* et le mont *Nébo*.

4. **Eaux intérieures.**—Le *Jourdain*, fleuve qui coule dans une vallée profonde, forme le lac de Génésareth ou mer de *Galilée*, puis se jette dans le lac salé et amer appelé lac Asphaltite ou *mer Morte*.

5. **Divisions.**—Au temps de Notre-Seigneur, on divisait la Palestine en quatre provinces :

I. La **Judée**, au S.-O., comprenant les tribus de *Siméon*, de *Juda*, de *Benjamin*, de *Dan* et le pays des *Philistins* ;

II. La **Samarie**, au centre, comprenant les tribus d'*Ephraïm* et de *Manassé occidentale* ;

III. La **Galilée**, au N.-O., formée des tribus d'*Issachar*, de *Zabulon*, d'*Aser* et de *Nephtali* ;

IV. La **Pérée**, à l'est du Jourdain, formée des tribus de *Manassé orientale*, de *Gad* et de *Ruben*.

6. **Villes.** - Les villes ou localités les plus célèbres de la Palestine, sont :

I. Dans la Judée, *Jérusalem*, la ville la plus intéressante du monde par ses souvenirs ; *Bethléem*, *Hébron*, *Jéricho*, *Rama*, *Béthel*, *Emmaüs*, *Jaffa* et *Gaza*, reliée à Jérusalem par un chemin de fer.

II. Dans la Samarie, *Samarie*, *Sichem*, *Silo*, *Salem*, *Bethulie*, *Césarée* ;

III. Dans la Galilée, *Nazareth*, *Naïm*, *Cana*, *Tibériade*, *Capharnaüm*, *Saint-Jean-d'Acre* ;

A la Galilée se rattache la *Phénicie*, renfermant les villes de *Sour*, autrefois *Tyr*, et *Saïda*, autrefois *Sidon*.

IV. Dans la Pérée, la ville ruinée de *Bethsaïde*.

7. **Population.** – La Palestine compte à peine 250,000 habitants, parmi lesquels il y a peu de Juifs et encore moins de chrétiens catholiques. La plupart sont des Turcs mahométans ou des Grecs schismatiques.

8. **Gouvernement.** – Ce pays dépend de l'*empire turc*, et est administré, au nom du sultan de Constantinople, par un *pacha* ou gouverneur résidant à Jérusalem.

EXERCICES.

1. Par quelle mer la Palestine est-elle bornée à l'ouest ? *M.*
2. En combien de provinces était-elle divisée au temps de N.-S. ?
3. Quelle province occupait le nord-ouest de la Palestine ? *G.*
4. Quelle province occupait la partie du milieu ? *S.*
5. Quelle est celle qui était située au sud-ouest ? *J.*
6. Quelle rivière traverse la Palestine du nord au sud ? *J.*
7. Dans quelle mer se jette cette rivière ? *M.* (*D.S.*)
8. Quelle province est située à l'est du Jourdain ? *P.*
9. Quelles sont les tribus renfermées dans la Galilée ? *A.*, *N.*, *Z.*, *I.*
10. Quel lac est situé entre les territoires des tribus de Zabulon et de Manassé ? *G.*
11. Quelles sont les tribus qui formaient la Samarie ? *M.*, *E.*
12. Quelle tribu était située à l'est du Jourdain, vis-à-vis de la Samarie ? *G.*
13. Nommez les tribus que comprenait la Judée. *D.*, *B.*, *J.*, *S.*
14. Quelle tribu est située à l'E. de la mer Morte ? *R.*
15. Quelle nation habitait le sud-ouest de la Palestine ? *P.*
16. Quelle est la capitale de la Palestine ? *J.*
17. Montrez le mont Carmel. (33 *l.*)
18. Quel autre mont est situé à peu près à la même latitude que le mont Carmel ? *T.*
19. Montrez les monts de Juda.
20. Quelles montagnes sont situées à l'est du Jourdain ? *G.*
21. Montrez la montagne sur laquelle mourut Moïse. *N.* (31-35).
22. Montrez le mont des Oliviers.
23. Quelles villes remarquables étaient situées sur la côte de la Phénicie ? *S.*, *T.*
24. Montrez Nazareth. — Tibériade. — Samarie. — Sichem.—Béthel.
25. Montrez Jéricho.—Bethléem.—Hébron.
26. Montrez, sur la Méditerranée, Césarée. — Jaffa. —Gaza.
27. Montrez Capharnaüm.
28. Montrez la rivière où S. Jean-Baptiste baptisait. *J.*
29. Quelle tribu est en partie à l'est et en partie à l'ouest du Jourdain ? *M.*
30. Quelle est l'orientation du pays des Philistins à l'égard de la Judée ?

TABLEAU I.—COMTES DE LA PROVINCE DE QUEBEC.

Nos.	Comtés et Chefs-Lieux.		Nos.	Comtés et Chefs-Lieux.		Nos.	Comtés et Chefs-Lieux.	
1	Pontiac	*Bryson*	22	Berthier	*Berthier*	43	Mégantic	*Inverness*
2	Outaouais	*Hull*	23	Maskinongé	*Louiseville*	44	Arthabaska	*St-Christophe*
3	Argenteuil	*Lachute*	24	St-Maurice	*Yamachiche*	45	Lotbinière	*Lotbinière*
4	Deux-Montagnes	*Ste-Scholastique*	25	Champlain	*Ste-Geneviève*	46	Lévis	*Lévis*
5	Vaudreuil	*Vaudreuil*	26	Nicolet	*Bécancourt*	47	Dorchester	*Ste-Hénédine*
6	Soulanges	*Côteau-Landing*	27	Yamaska	*St-François-du-Lac*	48	Bellechasse	*St-Michel*
7	Huntingdon	*Huntingdon*	28	Richelieu	*Sorel*	49	Montmagny	*Montmagny*
8	Beauharnois	*Beauharnois*	29	St-Hyacinthe	*St-Hyacinthe*	50	Portneuf	*Cap-Santé*
9	Châteauguay	*Ste-Martine*	30	Bagot	*St-Liboire*	51	Québec	*Charlesbourg*
10	Napierville	*Napierville*	31	Rouville	*Marieville*	52	Montmorency	*Château-Richer*
11	Saint-Jean	*Saint-Jean*	32	Iberville	*Iberville*	53	Charlevoix	*Baie-St-Paul*
12	Laprairie	*Laprairie*	33	Missisquoi	*Bedford*	54	L'Islet	*St-Jean-Port-Joly*
13	Chambly	*Longueuil*	34	Brome	*Knowlton*	55	Kamouraska	*St-Louis de Kam'ka*
14	Verchères	*Verchères*	35	Stanstead	*Stanstead*	56	Témiscouata	*Ile-Verte*
15	Hochelaga	*Longue-Pointe*	36	Shefford	*Waterloo*	57	Chicoutimi	*Chicoutimi*
16	Laval	*Sainte-Rose*	37	Sherbrooke	*Sherbrooke*	58	Lac-Saint Jean	*Roberval*
17	Jacques-Cartier	*Pointe-Claire*	38	Richmond	*Richmond*	59	Saguenay	*Tadoussac*
18	L'Assomption	*L'Assomption*	39	Drummond	*Drummondville*	60	Matane	*St-Jerôme de M.*
19	Terrebonne	*St-Jérôme*	40	Wolfe	*Dudswell*	61	Rimouski	*Rimouski*
20	Montcalm	*Ste-Julienne*	41	Compton	*Cookshire*	62	Gaspé	*Percé*
21	Joliette	*Joliette*	42	Beauce	*St-Joseph*	63	Bonaventure	*New-Carlisle*

NOTE.—Règle générale, dans la province de Québec, le *comte* est à la fois une *circonscription électorale* pour la députation à la législature provinciale, et une *municipalité* formée par la confédération des villes, villages, paroisses et cantons qui se trouvent sur son territoire. Cependant : 1° certaines villes sont détachées, pour les fins municipales et quelques-unes même pour les fins électorales, des comtés dans le territoire desquels elles se trouvent enclavées ; 2° deux comtés, tout en formant deux municipalités distinctes, peuvent être réunis pour ne former qu'une circonscription électorale.

La délimitation des comtés est du ressort de la législature provinciale.

La délimitation des circonscriptions électorales pour la députation à la *Chambre des Communes*, appartient au gouvernement fédéral. Ces circonscriptions correspondent plus ou moins aux comtés.

TABLEAU II.—VILLES, VILLAGES, PAROISSES, ETC., DE LA PROVINCE DE QUEBEC.

Villes, Paroisses, etc. (c)	d	Population.	Villes, Paroisses, etc.	d	Population.	Villes, Paroisses, etc.	d	Population.
A			*Aylmer*	2	1945	*Bedford*	33	1571
Acton Vale	30	1381	Aylwin	2	835	Beebe Plains	35	411
Adstock	42	682	**B**			Belœil	14	1805
Aldfield	1	666	*Bagotville*	57	1476	*Berthier*	49	1152
Ahmerst	2	388	Baie-du-Febvre	27	2055	**Berthier**	22	1827
Anse du Cap	62	1497	Baie-Saint-Paul	53	3760	Berthier	22	1537
Armagh	48	1549	Barford	35	1634	*Bienville*	46	840
Arthabaska	44	1034	Barnston	35	2694	Bigelow	2	655
Arundel	3	743	Basin	62	839	Bolton	34	3274
Ascot	37	3935	**Beauharnois**	8	1590	Bonne-Espérance	59	351
Auckland	41	677	Beaumont	48	811	*Boucherville*	13	995
Aumond	2	515	Beauport	51	4644	Boucherville (Ste-Famille)	13	821
Aylene	1	268	Bécancourt	26	2017	Bouchette	2	990

(a) La population est celle du recensement de 1891.

(c) Les cités sont en lettres majuscules, les villes, en caractère **gras**, les villages en *italique*, et les paroisses et townships, en romain.

(d) Les chiffres de ces colonnes indiquent les nos des comtés dans lesquels les localités correspondantes sont situées.

Villes, Paroisses, etc.	d	Population.
Bourg Louis	50	756
Bouthiller	2	331
Bowmen	2	634
Bristol, (St-Edouard)	1	2275
Brôme	34	3775
Brompton, (St-Praxède)	38	1766
Bryson	1	1944
Buckingham	2	2239
Buckingham	2	2186
Buckland Est	48	1199
Bury	41	1621
C		
Cabano	56	330
Cacouna, (St-Georges)	56	899
Cacouna	56	620
Calumet, (Ste-Anne)	1	1310
Cameron	2	513
Canrobert	31	311
Cap de la Madeleine	25	1289
Cap Chat	62	1237
Cap Rosier	62	785
Cap Santé	50	1185
Cap St-Ignace	49	3539
Carillon	3	255
Carleton, (St-Joseph)	63	1078
Causapscal	61	155
Cèdres	6	256
Chambly, (St-Joseph)	13	958
Chambly	13	879
Chambly Canton	13	846
Chapeau	1	250
Château-Richer	52	1587
Chatham	3	3371
Charlesbourg	51	2328
Chesham	41	621
Chénier	44	1500
Cherbourg	61	739
Chertsey, (St-Théodore)	20	1169
Chester Nord	44	640
Chichester	1	711
Chicoutimi	57	2277
Chicoutimi, (St-F.-X.)	57	2070
Chlorydormes	62	647
Clarendon	1	2638
Clifton	41	1840
Cleveland	38	1249
Clyde, etc	2	736
Coaticook	35	3086
Como	5	400
Compton	41	2409
Contrecœur	14	1760
Côte-des-Neiges	15	391
Côte St-Antoine	15	3076
Côte St-Paul	15	1317
Côte Visitation	15	816
Côteau Landing	6	507
Côteau St-Louis	15	2972
Côteau Station	6	390
Coucelle	22	304
Cowansville	33	639
D		
Dalibaire	61	425
Danville, (Ste-Anne)	38	884
Denholm	2	334
Deschambault	50	2401
Dixville	35	514
Ditchfield	42	848
Ditton	41	827
Dorset	42	346
Douglas	62	1468
Drummondville	39	1955
Dudswell	38	2143
Duhamel, etc	1	677
Dundee, (Ste-Agnès)	7	1535
Dunham, (Ste-Croix)	33	2793
Durham, Sud	39	1494
Durham	39	543
E		
Eardly	2	1530
Eaton	41	3078
Eboulements	53	2608
Ecureuils	50	528
Egan	2	1220
Elgin	54	570
Elgin	7	915
Ely	36	2747
Emberton	41	422
Escoumains	59	667
Etang du Nord	62	1952
F		
Farnham, (St-Romuald)	33	1520
Farnham, Ouest	33	2822
Farnham, Est	34	2045
Fort Coulonge	1	323
Fox, etc	62	1422
Franklin	7	1133
Fraserville	56	4175
Frelighsburg	33	263
G		
Garthby et d'Israëli	38	1793
Gaspé	62	1460
Gatineau	2	1520
Gentilly	26	2486
Godmanchester	7	1673
Gore	3	533
Granby, (S.-C. de M.)	36	2795
Granby	36	1710
Grande Rivière	62	2348
Grande Vallée	62	575
Grantham	39	911
Grenville	3	2685
Grondines	50	1431
Grosse Ile, etc	62	398
H		
Halifax, Nord	43	1513
Halifax, Sud	43	2235
Ham	38	2124
Hamden	41	1066
Hamilton	63	2328
Harrington	3	720
Hartwell	2	1204
Harvey	57	189
Harwick	39	853
Hatley	35	2579
Havelock	7	1035
Havre Aubert	62	601
Havre des Maisons	62	1152
Hemmingford	7	2033
Hereford, Paquetteville	41	1814
Hinchinbrooke	7	2209
Hinks	2	522
Hochelaga	15	8540
Hope	63	2114
Howard	3	448
Hull	2	4325
Hull	2	11264
Hunterstown	23	727
Huntingdon	7	1177
I		
Iberville	32	1710
Ile Anticosti	59	253
Ile aux Coudres	53	907
Ile aux Grues	49	586
Ile Bizard	17	715
Ile de la Madeleine	62	4942
Ile des Allumettes	1	1618
Ile du Pads	22	1356
Ile Perrot	5	859
Ile Verte	56	2415
Inverness	43	1700
Ireland	43	2152
J		
Joliette	21	3372
K		
Kamouraska	55	600
Kensington	2	281
Kingsey Falls	39	924
Kingsey, Est	39	1536
L		
Labelle	2	35
Lac Mégantic	41	1173
L'Acadie	11	1568
Lachenaie	18	608
Lachine, (Sts Anges)	17	1058
Lachine	17	3761
Lachute	3	1751
Lacolle	11	2528
Lambton	42	1780
L'Ange-Gardien	2	1354
L'Ange-Gardien	31	1874
L'Ange-Gardien	52	1137
Lanoraie	22	1715
L'Anse au Griffon, (St-Jh.)	62	1030
L'Anse St-Jean	57	761

Villes, Paroisses, etc.	d	Population
Laprairie	12	1246
Laprairie	12	1574
La Présentation	29	1285
La Rochelle	26	382
L'Assomption	18	1275
L'Assomption	18	1256
Laterrière	57	1006
Laurentides	18	930
Lauzon	46	3551
Lavaltrie	39	1252
L'Avenir	39	1252
La Visitation	25	1523
Leeds	43	2450
Lennoxville	37	962
L'Epiphanie	18	1450
Leslie, etc	1	928
Lévis	46	7301
Lingwick	41	1022
L'Islet	54	2414
Lotbinière	45	1854
Lochaber, etc	2	1857
Longue-Pointe	15	2445
Longueuil, (St-Antoine)	13	1194
Longueuil	13	2757
Lorette	51	2444
Louiseville	23	1740
Low	2	1255
M		
Macnider	61	1881
Magog	35	2869
Magog, (St-Patrick)	35	2100
Maisonneuve	15	1226
Malbaie	62	1827
Malbaie	53	3239
Manicouagan	59	128
Maniwaki, (N.-D.)	2	966
Mann	63	808
Mansfield, etc	1	1057
Marchand	2	414
Maria	63	2433
Marieville	31	1266
Marsden, etc	41	1117
Masham	2	2099
Maskinongé	23	2021
Mastigoche	23	563
Matane	61	2025
Mécantina	59	341
Melbourne, etc	38	2756
Métapédia	63	1273
Mile End, (St. Louis)	15	3537
Mille Isles	3	519
Mille Vaches	59	1105
Milton, (Ste-Cécile)	36	1496
Moisie	59	269
Mont-Carmel	55	1075
Mont-Carmel	25	2042
Mont-Joli	60	742
Mont-Louis	62	896
Montebello	2	754
Montmagny	49	1697
Montminy	49	1436
MONTRÉAL	15	216650
Morin	3	471
Mulgrave, etc	2	632
N		
Napierville	10	860
Natashquan	59	365
Neigette	60	247
Nelson	43	410
New-Carlisle	63	991
New-Glasgow	19	204
New-Port	41	1121
New-Port	62	1481
New-Richmond	63	2050
Nicolet	26	2518
Nicolet	26	1824
Notre-Dame de Bon Secours	2	792
N.-D. de Bon Secours	31	569
N.-D. de Grâces	15	2305
N.-D. de la Victoire	46	1496
N.-D. de Stanbridge	33	1245
N.-D. de St-Hyacinthe	29	2799
N.-D. des Anges	33	376
N.-D. des Anges	50	606
N.-D. des Neiges, Ouest	15	933
N.-D. des Sept Douleurs	56	291
N.-D. d'Hébertville	57	2396
N.-D. du Lac	56	1393
N.-D. du Lac St-Jean	58	1040
N.-D. du Mont Carmel	25	2042
N.-D. du Portage	56	477
N.-D. du S.-C	60	668
Normandin, etc	58	587
Northfield	2	431
Nouvelle	63	2150
O		
Oka	4	1466
Onslow	1	1935
Orford	37	1097
Outremont	15	408
P		
Pabos	62	1348
Paspébiac	63	1749
Patton, etc	49	582
Percé	62	1800
Petite Rivière	53	886
Philipsburg	33	230
Pierreville, etc	27	1297
Plessisville	43	1323
Pointe-au-Pic	53	420
Pointe-aux-Trembles	15	876
Pointe-aux-Trembles	50	1240
Pointe-aux-Esquimaux	59	1751
Pointe-Claire	17	1337
Pointe-du-Lac	24	1366
Pointe-des-Monts	59	498
Pointe-Fortune	5	322
Ponsonby	2	301
Portage-du-Fort, etc	1	741
Port-Daniel	1	1977
Portland	62	1836
Portneuf	50	1855
Potton	34	2253
Preston, etc	2	249
Princeville	44	837
Q		
QUÉBEC	51	63090
Quyon	1	668
R		
Racine, etc	58	535
Rawdon, (St-Patrick)	20	1186
Répentigny	18	693
Réserve Indienne	57	434
Restigouche	63	579
Richmond	38	2056
Richelieu	31	530
Rigaud	5	672
Rigaud	5	1554
Rimouski	60	1329
Rimouski	60	1220
Ripon	2	1557
River Beaudette	6	238
Rivière-à-Pierre	50	603
Rivière-du-Loup	23	2099
Rivière-du-Loup	56	788
Rivière Ouelle	55	1972
Roberval	58	783
Romieux	61	236
Roxton	36	1765
Roxton Falls	36	908
S		
Sacré-Cœur	42	1586
St-Adolphe	25	352
St-Adrien	38	507
St-Albert	39	737
Sts-Anges	42	993
St-Agapit	45	1001
St-Aimé	28	2481
St-Alban	50	2090
St-Alexandre	55	1741
St-Alexandre	32	2101
St-Alexis	20	1231
St-Alexis	57	1689
St-Alexis	23	1194
St-Alphonse	21	1128
St-Alphonse	57	1476
St-Ambroise de Lorette	51	3869
St-Ambroise	21	1706
St-Anaclet	60	942
St-André	30	2064
St-André	55	1398
St-André	3	1702
St-André-Avelin	2	2548
St-Anicet	7	2093
St-Anselme	47	2002
St-Antoine	14	1473
St-Antoine-Abbé	9	585
St-Antoine de Tilly	45	1450

Villes, Paroisses, etc.	d	Population.
St-Antonin	56	1079
St-Appolinaire	45	1740
St-Armand, Ouest	33	999
St-Armand, Est	33	1049
St-Arsène	56	1213
St-Athanase	32	1028
St-Aubert, etc.	54	1573
St-Augustin	50	1413
St-Augustin	4	1328
St-Barnabé	24	2014
St-Barnabé	29	1005
St-Barthélemy	22	2527
St-Basile	50	1912
St-Basile-le-Grand	13	683
St-Benoit	4	1385
St-Benoit Labre	42	772
St-Benoit Labre	59	803
St-Bernard	47	1582
St Bonaventure	39	1209
St-Bruno	13	721
St-Bruno	57	564
St-Calixte	20	1002
St-Camille	38	939
St-Canut	4	639
St-Casimir	50	2927
St-Célestin	26	1532
St-Césaire	31	1623
St-Césaire	31	1021
St-Charles	29	989
St-Charles	48	2076
St-Charles de Caplan	63	1305
St-Charles Borromée	21	840
St-Charles, etc	57	423
St-Christophe	39	1079
St-Clément	56	1408
St-Clément de Beauharnois	8	1771
St-Clet	6	965
St-Colomban	4	395
St-Côme de Linière	42	1279
St-Côme	21	850
St-Constant	12	1572
St-Cuthbert	22	3179
St-Cyprien	10	1703
St-Cyriac	57	435
St-Cyrille, etc	54	1289
St-Damase	29	1718
St-Damase	59	863
St-Damase	54	624
St-Damien	48	820
St-Damien	22	1163
St-David	27	2312
St-David	46	629
St-Denis	55	909
St-Denis	29	2250
St-Didace	23	1954
St-Dominique	30	1897
St-Dominique	57	1477
St-Donat, etc	20	351
St-Donat	59	760
St-Dunstan	51	216
St-Edouard	10	1290

Villes, Paroisses, etc.	d	Population.
St-Edouard	45	1359
St-Edouard de Frampton	47	1653
St-Eleuthère	55	611
St-Elie	24	835
St-Eloi	56	913
St-Elphége	27	712
St-Elzéar	42	1247
St-Emile, etc	20	375
St-Ephrem de Tring	42	2386
St-Ephrem d'Upton	30	2153
St-Epiphane de Viger	56	1158
St-Esprit	20	1419
St-Etienne	8	982
St-Etienne de Lauzon	46	803
St-Etienne des Grès	24	2166
St-Eugène	39	1049
St-Eugène	54	1500
St-Eustache	4	1796
St-Eustache	4	960
St-Evariste	42	1248
St-Fabien	59	1994
St-Faustin	19	669
St-Félicien, etc	57	988
St-Félix de Valois	21	2847
St-Félix du Cap Rouge	51	534
St-Ferréol	52	1041
St-Fidèle	53	1068
St-Flavien	45	1717
St-Fortunat	40	1024
St-François	52	508
St-François	56	860
St-François	42	4022
St-François-de-Sales	16	808
St-François	27	2255
St-François, Rivière du Sud	49	1554
St-François-Xavier	25	996
St-Frédéric	42	1814
St-Fulgence	57	777
St-Gabriel de Valcartier	51	504
St-Gabriel	51	600
St-Gabriel	15	9986
St-Gabriel de Brandon	22	3172
St-Gabriel, etc	59	937
St-Gédéon	57	960
St-Georges	32	1324
St-Georges	33	1138
St-Georges	42	3099
St-Georges de Windsor	38	1609
St-Germain	39	3065
St-Germain de Rimouski	60	1220
St-Gervais	48	2072
St-Giles	45	631
St-Grégoire	26	1843
St-Grégoire le Grand	32	1377
St-Guillaume d'Upton	39	2821
St-Henri de Lauzon	42	2243
St-Henri de Mascouche	18	2081
St-Henri	15	13413
St-Hermas	4	1217
St-Hilaire	31	1251
St-Hilaire, etc	57	1124

Villes, Paroisses, etc.	d	Population.
St Hilarion	53	1099
St-Honoré	56	312
St-Hypolite	19	856
St-Hubert	13	944
St-Hugues	30	2003
ST-HYACINTHE	29	7016
St-Hyacinthe le Confesseur	29	940
St-Ignace	33	1102
St-Ignace	6	1276
St-Irénée	53	1152
St-Isidore	12	1463
St-Isidore	47	2046
St-Jacques de l'Achigan	20	2423
St-Jacques des Piles	25	791
St-Jacques-le-Mineur	12	1393
St-Janvier	19	1055
St-Jean	52	1277
St-Jean-Baptiste	15	15423
St-Jean-Baptiste	31	1455
St-Jean Chrysostôme	46	1802
St-Jean Chrysostôme	9	2270
St-Jean de Dieu	56	1055
St-Jean de Matha	21	2675
St-Jean Deschaillons	45	2300
St-Jean d'Iberville	11	4722
St-Jean l'Evangéliste	11	875
St-Jean Port-Joli	54	2171
St-Jérôme	19	2868
St-Jérôme	19	1961
St-Jérôme, (Lac St-Jean)	58	1835
St-Jérusalem	3	1062
St-Joachim	52	897
St-Joachim de Chateauguay	9	1560
St-Joseph	28	1210
St-Joseph	15	761
St-Joseph	4	1153
St-Joseph	6	1442
St-Joseph	42	3163
St-Joseph d'Alma	57	1031
St-Joseph de la Page	59	401
St-Joseph de Lévis	46	351
St-Jovite	19	1114
St-Jude	29	2197
St-Julien	40	1530
St-Justin	23	1677
St-Lambert	46	1433
St-Lambert	13	906
St-Laurent	17	1184
St-Laurent	17	1993
St-Laurent	52	792
St-Lazare	48	1322
St-Lazare	5	1325
St-Léon	23	1875
St-Léon de Standon	47	1602
St-Léonard	26	1734
St-Léonard	15	1166
St-Liboire	30	2353
St-Liguori	20	1170
St-Lin	18	1541
St-Louis	29	298
St-Louis	56	804

Villes, Paroisses, etc.	d	Population.
St-Louis	55	1050
St-Louis	39	573
St-Louis	28	1092
St-Louis	19	722
St-Louis de Gonzague	8	2187
St-Louis	57	1155
St-Luc	11	801
St-Luc	25	795
St-Magloire	48	1065
St-Malachie	2	413
St-Malachie	9	2656
St-Malachie	47	1482
St-Marc	14	897
St-Marcel	28	1169
St-Martin	16	2678
St-Martin	42	894
St-Mathias	31	725
St-Mathieu	24	233
St-Mathieu	59	846
St-Maurice	25	3040
St-Médard	44	1505
St-Michel	48	1838
St-Michel	31	832
St-Michel	27	1747
St-Michel Archange	10	1619
St-Michel des Saints	22	591
St-Modeste	56	764
St-Moïse	59	537
St-Narcisse	25	1950
St-Narcisse, (Beau-Rivage)	45	782
St-Néré	48	1181
St-Norbert	22	1478
St-Norbert d'Arthabaska	44	836
St-Nicolas	46	1768
St-Octave	59	2523
St-Odilon	47	997
St-Onésime	55	760
St-Ours	28	918
St-Ours	28	1654
St-Pacôme	55	1928
St-Pamphile	54	1041
St-Pascal	55	3109
St-Patrick	45	988
St-Patrick de Rawdon	20	1186
St-Paul	56	745
St-Paul	39	1876
St-Paul	31	1873
St-Paul l'Ermite	18	1170
St-Paulin	23	1453
St-Philippe	12	1716
St-Philippe de Néri	55	1049
St-Pie	30	3342
St-Pie de Guère	27	1289
St-Pierre	43	901
St-Pierre, etc	59	1115
St-Pierre	52	772
St-Pierre de Broughton	43	789
St-Pierre les Becquets	26	2274
St-Pierre	49	1331
St-Pierre de Sorel	23	492
St-Placide	4	990

Villes, Paroisses, etc.	d	Population.
St-Polycarpe	6	1734
St-Polycarpe	6	431
St-Prime	57	1050
St-Prosper	25	1358
St-Prosper	47	674
St-Raphaël	48	2406
St-Raymond	50	3320
St-Rémi	39	1024
St-Rémi	10	1647
St-Rémi	10	1167
St-Robert	28	1879
St-Roch	28	1045
St-Roch de l'Achigan	18	2048
St-Roch des Aulnets	54	1662
St-Romuald	46	3545
St-Samuel	26	200
St-Samuel	42	889
St-Sauveur	19	1460
St-Sébastien	32	1495
St-Sébastien d'Aylmer	42	859
St-Sévère	24	972
St-Sévérin	25	1068
St-Sévérin	42	790
St-Siméon	53	968
St-Simon	30	1782
St-Simon	59	998
St-Stanislas	25	2456
St-Stanislas Kostka	8	1198
St-Sulpice	18	622
St-Sylvère	26	839
St-Sylvestre	45	1633
St-Télesphore	6	1307
St-Télesphore	46	233
St-Théodore d'Acton	30	1855
St-Théophile	42	318
St-Thomas	21	2068
St-Thomas	33	698
St-Thomas	49	2849
St-Thomas de Pierreville	27	2121
St-Timothée	8	2104
St-Tite	25	995
St-Tite	25	2535
St-Ubalde	50	1154
St-Ulric	59	1704
St-Urbain	9	1318
St-Urbain	53	1141
St-Valentin	11	1788
St-Valère	44	1494
St-Valérien	59	814
St-Valérien	36	1906
St-Valier	48	1322
St-Victor de Tring	42	2557
St-Vincent de Paul	16	2519
St-Wenceslas	26	1909
St-Zacharie	47	653
St-Zéphirin	27	1632
St-Zotique	6	1062
Ste-Adèle	19	1493
Ste-Agathe	45	905
Ste-Agathe des Monts	19	1703
Ste-Agnès	53	1790

Villes, Paroisses, etc.	d	Population.
Ste-Anastasie	43	1343
Ste-Angèle	31	1325
Ste-Angèle	26	1136
Ste-Angèle de Mérici	59	1231
Ste-Angélique	2	2482
Ste-Anne	39	588
Ste-Anne	32	775
Ste-Anne	57	1663
Ste-Anne	28	1213
Ste-Anne de Bellevue	17	1171
Ste-Anne de la Pérade	25	2820
Ste-Anne de la Pocatière	55	2734
Ste-Anne Pointe au Père	60	324
Ste-Anne des Plaines	19	1717
Ste-Anne des Monts	62	1762
Ste-Anne du Bout de l'Isle	17	589
Ste-Anne de Beaupré	52	1613
Ste-Barbe	7	582
Ste-Béatrix	21	1043
Ste-Blandine	59	595
Ste-Brigitte	32	2083
Ste-Brigitte	26	1012
Ste-Brigitte de Laval	52	639
Ste-Catherine	50	1103
Ste-Cécile	36	1496
Ste-Cécile	8	1315
Ste-Cécile du Bic	60	1990
Ste-Claire	47	1824
Ste-Clothilde	39	1145
Ste-Clothilde	9	845
Ste-Croix	45	2309
Ste-Cunégonde	15	9291
Ste-Dorothée	21	876
Ste-Elizabeth	21	2725
Ste-Elizabeth	39	528
Ste-Emilie de l'Energie	21	939
Ste-Emilie, (*Leclercville*)	45	1189
Ste-Eulalie	26	891
Ste-Famille	52	786
Ste-Félicité	59	1064
Ste-Flavie	59	1296
Ste-Flore	25	1992
Ste-Foye	51	1034
Ste-Françoise	56	704
Ste-Geneviève	22	2222
Ste-Geneviève	17	1295
Ste-Geneviève	17	729
Ste-Geneviève de Batiscan	25	1985
Ste-Germaine	47	1278
Ste-Gertrude	26	1748
Ste-Hélène	39	1681
Ste-Hélène	30	1526
Ste-Hélène	55	1518
Ste-Hénédine	4[illegible]	1049
Ste-Jeanne de Neuville	50	1289
Ste-Julie	14	1299
Ste-Julienne	20	1150
Ste-Justine	47	609
Ste-Justine	5	1559
Ste-Louise	54	979
Ste-Luce	59	1375

Villes, Paroisses, etc.	d	Population.
Ste-Lucie	19	694
Ste-Marguerite	47	1260
Ste-Marguerite	19	725
Ste-Marie	26	270
Ste-Marie	42	2897
Ste-Marie-Madeleine	29	936
Ste-Marie du Monnoir	31	1357
Ste-Marie-Salomée	20	655
Ste-Marthe	5	1611
Ste-Martine	9	1600
Ste-Melanie	21	1243
Ste-Monique	26	2171
Ste-Monique	4	1090
Ste-Perpétue	26	833
Ste-Pétronille	52	285
Ste-Philomène	45	830
Ste-Philomène	48	707
Ste-Philomène	9	1105
Ste-Prudentienne	36	1832
Ste-Rosalie	30	1339
Ste-Rose	56	800
Ste-Rose	47	306
Ste-Rose	16	1498
Ste-Rose	16	1057
Ste-Scholastique	4	1770
Ste-Scholastique	4	838
Ste-Sophie	26	1116
Ste-Sophie	19	1255
Ste-Thècle	25	1101
Ste-Théodosie	14	582
Ste-Thérèse	19	1483
Ste-Thérèse	19	1662
Ste-Ursule	23	2490
Ste-Victoire	28	1532
Salaberry	8	5515
Sault-au-Récollet	15	1820
Sault-St-Louis	12	1936

Villes, Paroisses, etc.	d	Population.
Shawanigan	24	1328
Shawville	1	432
Sheen	1	771
Shefford	36	3241
Shenly	42	1578
Sherbrooke	37	10110
Sherrington	16	1815
Shipton	38	2318
Sicotte, etc	2	359
Sillery	51	2663
Somerset, N. et S	43	3110
SOREL	28	6669
Sorel (St-Pierre)	28	492
Spaulding	42	188
Stanbridge	33	941
Stanbridge (Station)	33	860
Stanfold	39	2084
Stanstead Plain	35	600
Stanstead (S.-C. de J.)	35	3685
Stoneham	51	727
Stoke	38	1133
Stratford	38	723
Stuckely	36	3130
Suffolk	2	2964
Sutton	34	3362
Sweetsburg	33	303
T		
Tadoussac	59	2440
Templeton	2	2964
Terrebonne	19	1457
Tessier	61	551
Thetford, etc	43	3414
Thetford	43	1682
Thorne	1	940
Thurso	2	578
Tingwick	39	979
Très-St-Rédempteur	5	526

Villes, Paroisses, etc.	d	Population.
Très-St-Sacrement	9	1925
Trois-Pistoles	56	2495
TROIS-RIVIERES	24	8834
V		
Valleyfield	8	5516
Varennes (Ste-Anne)	14	1599
Varennes	14	802
Vaudreuil (St-Michel)	5	1548
Vaudreuil	5	427
Verchères	14	2040
Verdun	15	296
Victoriaville	44	1300
W		
Wabasee	2	227
Wakefield	2	1852
Waltham	1	361
Warwick	44	1505
Waterloo	36	1733
Waterville	41	516
Weedon	40	2219
Wendover	39	2300
Wentworth	3	898
Westbury	41	973
Whitton	41	983
Wickham	39	1610
Windsor	38	967
Windsor Mills	38	1591
Winslow	41	1499
Woburn, etc	42	198
Wotton	40	1216
Wright	2	1182
Y		
Yamachiche	24	2025
Yamachiche	24	908
Yamaska	27	638
York	62	350

Tableau III.—COMTES DE LA PROVINCE D'ONTARIO.

Nos.	Comtés et Chefs-Lieux.		Nos.	Comtés et Chefs-Lieux.		Nos.	Comtés et Chefs-Lieux.	
1	Essex	*Sandwich*	18	Wellington	*Guelph*	35	Stormont	*Cornwall*
2	Kent	*Chatham*	19	Cardwell	*Albion*	36	Glengarry	*Cornwall*
3	Elgin	*St-Thomas*	20	Waterloo	*Berlin*	37	Prescott	*L'Orignal*
4	Norfolk	*Simcoe*	21	Lincoln	*St-Catharines*	38	Russell	*L'Orignal*
5	Haldimand	*Cayuga*	22	Wentworth	*Hamilton*	39	Carleton	*Ottawa*
6	Monck	*Dunnville*	23	Halton	*Milton*	40	Lanark	*Perth*
7	Welland	*Welland*	24	Peel	*Brampton*	41	Renfrew	*Pembroke*
8	Bothwell	*Napanee*	25	York	*Toronto*	42	Victoria	*Lindsay*
9	Lambton	*Sarnia*	26	Ontario	*Whitby*	43	Peterborough	*Peterborough*
10	Huron	*Goderich*	27	Durham	*Cobourg*	44	Hastings	*Belleville*
11	Bruce	*Walkerton*	28	Northumberland	*Cobourg*	45	Haliburton	*Minden*
12	Grey	*Owen-Sound*	29	Prince-Edward	*Picton*	46	Muskoka	*Districts ou comtés non organisés.*
13	Simcoe	*Barrie*	30	Lennox	*Napanee*	47	Parry-Sound	
14	Middlesex	*London*	31	Addington	*Napanee*	48	Algoma	
15	Oxford	*Woodstock*	32	Frontenac	*Kingston*	49	Nipissing	
16	Brant	*Brantford*	33	Leeds et Grenville	*Brockville*	50	Thunder-Bay	
17	Perth	*Stratford*	34	Dundas	*Cornwall*	51	Rainy-River	

TABLEAU IV.—CITES, VILLES, VILLAGES, ETC., DE LA PROVINCE D'ONTARIO.

VILLES, VILLAGES, ETC.	d	Population.
A		
Abinger, Effingham, etc	31	870
Acton	23	1209
Adelaide	14	2616
Adjala	19	2459
Admaston	41	2548
Adolphustown	30	720
Ailsa Craig	14	732
Albemarle	11	1819
Albion	19	3142
Aldborough	3	5299
Alexandria	36	1614
Alfred	37	3053
Algoma Mills	46	620
Algona South	41	1025
Alice et Fraser	41	1920
Allan	46	317
Alliston	13	1371
Almonte	40	3072
Alnwick	28	1321
Alvinston	9	1006
Amabel	11	3890
Amaranth	18	2804
Ameliasburgh	29	3080
Amherstburg	1	2279
Amherst Island	30	938
Ancaster	16	4098
Anderdon	1	2205
Anson et Hindon	42	275
Appleby, Hagar, Awrey, etc	47	155
Arkona	9	463
Armour et Ryerson	45	2171
Arnprior	41	3341
Arran	11	2913
Artemesia	12	4092
Arthur	18	3224
Arthur	18	1296
Ashburnham	43	1674
Ashfield	10	4010
Asphodel	43	1866
Assiginack	46	819
Athens	33	905
Athol	29	1284
Augusta	33	4535
Aurora	25	1743
Aylmer	3	2167
Ayr	20	1040
B		
Bagot et Blythfield	41	1595
Bangor, McClure et Wicklow	44	1026
Barrie	13	5550
Barrie	31	670
Barry Island	46	209
Barton	22	4997
Bastard et Burgess South	33	3319
Bath	30	530
Bathurst	40	2758
Baxter, Gibson et Freeman	45	700
Bayfield	10	595
Bayham	3	3858
Beamsville	21	911
Beaver et Silver Mountain	46	685
Beaverton	26	850
Beckwith	40	1767
Bedford	31	1837
Beeton	13	771
Belle River	1	657
BELLEVILLE	44	9914
Belmont	43	2548
Bentinck	12	5323
Berlin	20	7425
Bethune, Perry et Proudfoot	45	1704
Beverly	22	4636
Bexley	42	902
Biddulph	14	2600
Bidwell	46	457
Billings	46	635
Binbrook	22	1674
Birtie	7	4222
Biscotasing, Chapleau, etc	46	2280
Blair, Brown, Burton, etc	45	1119
Blanchard	17	2928
Blandford	15	1911
Blenheim	16	5606
Blenheim	2	1708
Blezard, McKim et Broder	47	2358
Blyth	10	927
Bobcaygeon	42	1018
Bolton	19	743
Bonfield, Chisholm, etc	47	2249
Bosanquet	9	2866
Bothwell	8	897
Bowmanville	27	3377
Bracebridge	26	1419
Bradford	25	996
Brampton	24	3252
Brant	11	4929
BRANTFORD	16	12753
Brantford	16	6954
Brighton	28	3017
Brighton	28	1479
Brock	26	4071
BROCKVILLE	33	8793
Bromley	41	1933
Brooke	9	3874
Brougham	41	548
Bruce	11	3793
Bruce Mines	46	750
Brudenell	41	1104
Brunel et Stephenson	45	1728
Brussels	10	1204
Buchanan, Wylie et Rolph	41	1034
Burford	15	4939
Burleigh, Austruther et Chandos	43	1521
Burgess North	40	1117
Burlington	23	1335
Burpee	46	186
C		
Caistor	22	2002
Caledon	19	5520
Caledonia	37	1943
Caledonia	5	968
Calvin, Lauder, etc	47	549
Cambridge	38	4113
Camden	31	4745
Camden	8	2993
Camden, Deacon et Fitzgerald	47	242
Campbell	46	547
Campbellford	28	2424
Canboro	6	1118
Cannington	26	1050
Caradoc	14	4762
Carden	42	815
Cardiff	43	612
Cardinal	33	960
Carleton Place	40	4435
Carlow	44	569
Carnavon	46	500
Carrick	11	5503
Cartwright	27	2026
Cavan	27	3106
Cavendish	43	94
Cayuga North	5	1894
Cayuga South	6	925
Cayuga	5	822
Chapman et Croft	45	1301
Charlottenburg	36	5657
Charlotteville	4	3937
Chatham	8	6150
Chatham	2	9052
Chelmsford et Cartier	46	755
Chesley	11	1437
Chesterville	34	775
Chippewa	7	523
Chinguacousy	24	4750
Clarence	38	4779
Clarendon et Miller	31	929
Clarke	27	4427
Clifford	18	634
Clinton	10	2635
Clinton	21	2137
Cobourg	28	4829
Cockburn Island	46	240
Colborne	10	2215
Colborne	28	1068
Colchester	1	4547
Collingwood	12	3932
Collingwood	13	4941
Conger, Cowper et Foley	45	502
Cornwall	35	6805
Cornwall	35	6792

Villes, Villages, etc.	d	Population.
Cramahe	28	2987
Creemore	13	721
Crosby	33	3946
Crowland	7	1107
Cullross	11	3345
Cumberland	38	4014
D		
Dalhousie et Sherbrooke North	40	2142
Dalton	42	509
Darling	40	39
Darlington	27	4758
Dawson	46	113
Dawn	8	3480
Day	46	834
Delaware	14	2549
Derby	12	2200
Dereham	4	4025
Deseronto	44	3338
Dorchester	14	5376
Douro	43	2131
Dover	2	4415
Downie	17	3281
Draper	26	1082
Drayton	18	795
Dresden	8	2058
Drumfries South	16	3137
Drummond	40	2202
Duck Islands	46	83
Dumfries North	20	2522
Dummer	43	2143
Dundalk	12	696
Dundas	22	3546
Dungannon	44	754
Dunn	6	984
Dunnville	6	1776
Dunwich	3	3663
Durham	12	1273
Dutton	3	838
E		
Easthope	15	4700
Eastnor, Lindsay et St-Edmunds	11	2321
East Wawanosh	10	2078
Echo River	46	499
Edwardsburg	33	4517
Eganville	41	395
Egremont	12	3904
Ekfrid	14	2876
Elderslie	11	3048
Eldon	42	3145
Elizabethtown	33	4726
Elma	17	4231
Ellice	17	3384
Elmira	20	1060
Elmsley	40	1233
Elora	18	1304
Elzevir et Grimsthorpe	44	1506
Embro	15	637
Emily	42	2603
Enniskillen	9	5006
Ennismore	43	932
Eramosa	18	3118
Erin	18	4048
Erin	18	594
Ernestown	30	3597
Esquesing	23	4435
Essa	13	3592
Essex Centre	1	1709
Etobicoke	25	4558
Euphrasia	12	3567
Euphemia	14	2523
Exeter	14	1809
F		
Faraday	44	705
Fenelon	42	2809
Fenelon Falls	42	1219
Fergus	18	1599
Ferguson, Carling, etc.	45	481
Ferrie, Mills, etc	45	753
Finch	35	3509
Finlayson et Peck	47	204
Fitzroy	40	2940
Flamborough	22	5740
Flos	13	3783
Forest	9	2057
Fort Erie	7	934
Fort Francis	46	1339
Frankford	44	533
Franklin, Sinclair, etc.	45	1776
Fredericksburg	30	2685
Fullarton	17	2511
G		
Gainsborough	6	2683
Galt	20	7535
Galway	42	710
Gananoque	33	3669
Garafraxa	18	5214
Garden Island	32	412
Garden River	46	606
Georgetown	23	1509
Georgina et Georgina Island	25	1990
Glamorgan	43	505
Glanford	22	1744
Glencoe	14	971
Glenelg	12	3318
Gloucester	38	6823
Goderich	10	2907
Goderich	10	3839
Gordon	46	455
Gore Bay	46	472
Gosfield	1	4071
Goulais Bay	46	239
Goulburn	39	2784
Gower	33	960
Grande Pointe	46	137
Grantham	21	1928
Grattan	41	1724
Gravenhurst	13	1848
Greenock	11	3389
Grey	10	4022
Griffith	41	275
Grimsby	22	883
Grimsby	22	2705
Guelph	18	2464
GUELPH	18	10539
Gurd, Pringle et Patterson	45	842
Gwillimbury et Snake Island	25	7359
H		
Hagersville	5	1068
Hagerty et Jones	41	1608
Haldimand	28	4484
Hallam et Graham	46	702
Hallowell	29	3379
HAMILTON	22	48980
Hamilton	22	4313
Harcourt, Dudley, etc.	43	1081
Harriston	18	1687
Harvey	43	1155
Harwick	2	6017
Hastings	28	812
Hawk Lake	46	17
Hawkesbury	37	2042
Hawkesbury	37	7636
Hay	10	4244
Head, Maria et Clara	41	521
Hespeler	20	1482
Hibbert	17	2636
Hillier	29	1890
Hilton	46	389
Himsworth et Nipissing	45	1832
Hinchinbrooke	31	1465
Holland	12	3602
Holland Landing	25	443
Hope	27	3887
Horton	41	1608
Houghton	4	2014
Howard	3	3626
Howe Island	32	422
Howick	10	4439
Howland	46	1254
Hullett	10	3281
Humberstone	7	2842
Humphrey, Watt et Cardwell	45	1835
Hurgerford	44	4762
Huntingdon	44	2562
Huntley	40	2322
Huntsville	45	1159
Huron	11	4125
I		
Ingersoll	15	4191
Innisfil	13	5112
Iroquois	34	1047
J		
Joly, Strong et Sundridge	45	1500
K		
Kaladar et Anglesea	31	1232
Keewatin	46	1416

Villes, Villages, etc.	d	Population.
Kemptville	33	1226
Kennebec	31	1428
Kenyon	36	5376
Keppel	12	3774
Killarney	46	502
Kincardine	11	2631
Kincardine	11	3618
King	25	6067
Kingston	32	3349
KINGSTON	32	24269
Kingsville	1	1335
Kirkwood	46	185
Kinloss	11	2903
Kirkpatrick, Hugel, etc	47	535
Kitley	33	2336
L		
Lakefield	43	1120
Lanark	40	1904
Lanark	40	859
Lancaster	36	4084
Lancaster	36	700
Lansdowne et Leeds	33	5780
Laurier, Machor et Lount	45	1177
Lavant	40	680
Laxton, Digby et Longford	42	874
Leamington	1	1910
Limerick	44	508
Lindsay	42	6081
Listowell	17	2587
Lobo	14	2989
Lochiel	36	5016
Logan	17	3094
LONDON	14	31977
London	14	14544
London	14	1915
Longueuil	37	1172
L'Orignal	37	1002
Loughborough	31	2218
Louth	21	1774
Lucan	14	920
Lucknow	11	1285
Luther	18	4224
Lutterworth	42	549
Lyndoch	41	294
M		
Macauley	26	760
MacLean	26	545
Madoc	44	2967
Madoc	44	1134
Maidstone	1	3127
Malahide	3	3851
Malden	1	1573
Mamainse	46	104
Manvers	27	4047
Mara	26	3152
March	39	1264
Mariposa	42	4849
Markdale	12	756
Markham	25	5681
Markham	25	1100
Marlborough	39	1703
Marmora et Lake	44	2176
Maryborough	18	3548
Marysburg	29	3073
Matawatchan	41	446
Matchedash	13	375
Matilda	34	4138
Mattawa	47	1437
Mayo	44	518
McDougall, Parry Sound, etc	45	2337
McGillivray	14	3507
McKillop	10	3086
McKellar et Hagerman	45	1186
McNab	41	3514
Meaford	12	1999
Medonte	13	4514
Medora et Wood	13	921
Melancthon	12	3822
Merrickville	33	1072
Merritton	21	1813
Mersea	1	3788
Metcalfe	14	1699
Methuen	43	260
Michipicoton	46	115
Middleton	4	3457
Midland	13	2088
Millbrook	27	971
Mills	46	189
Milton	23	1450
Milverton	17	603
Minden	42	1182
Minto	18	3639
Mississagua	46	789
Mitchell	17	2101
Monaghan	43	2114
Monck	13	854
Monmouth	43	548
Mono	19	3518
Montague	40	2232
Monteagle et Hershell	44	1552
Monteith, Spence et Christie	45	1087
Moore	9	5080
Mornington	17	3509
Morris	10	3253
Morrisburg	34	1859
Morrison	26	890
Mosa	14	2450
Moulton	6	1894
Mountain	34	3422
Mount Forest	18	2214
Mulmur	13	3661
Murillo	46	427
Murray	28	3306
Muskoka	13	797
N		
Napanee	30	3434
Nasagaweya	23	2809
Neebing	46	2175
Nelson	23	3269
Nepean	39	11405
Newboro	33	462
Newburg	31	648
Newbury	14	452
Newcastle	27	787
New Edinburg	38	1673
New Hamburg	20	1335
Newmarket	26	2143
Niagara	21	1845
Niagara	21	1349
Niagara Falls	7	1179
Niagara Falls	7	3349
Nichol	18	2057
Nipigon et Pays Plat	46	909
Nipissing, Springer, etc	47	1480
Nissouri East	15	3031
Nissouri West	14	3271
Norman	46	727
Normanby	12	5006
North Bay, Widdifield, etc	47	2210
North Gower	39	2382
Norwich	15	1255
Norwich	15	5532
Norwood	43	1010
Nottawasaga	13	6060
O		
Oakland	15	858
Oakley	26	385
Oakville	23	1835
Oil Springs	9	1138
Olden	31	1002
Omemee	42	687
Oneida	5	2403
Onondaga	16	1482
Ops	42	2926
Orangeville	18	2962
Orillia	13	4752
Orillia	13	3687
Oro	13	4359
Osgoode	38	4858
Oshawa	26	4065
Osnabruck	35	5317
Oso	31	1176
Osprey	12	3314
Otonabee	43	3652
OTTAWA	39	44154
Ottawa East	39	741
Otter Tail	46	873
Owen Sound	12	7497
Oxford	33	3309
Oxford	3	3479
P		
Paisley	11	1328
Pakenham	40	2007
Palmerston	18	2002
Palmerston et Canonto	31	1064
Papineau et Mattawa	47	694
Paris	16	3094
Parkhill	14	1680

Villes, Villages, etc.	d	Population.
Peel	18	4255
Pelee Island	1	605
Pelham	6	2554
Pembroke	41	801
Pembroke	41	4401
Penetanguishene	13	2110
Percy	28	2389
Perth	40	3136
Peterborough	43	9717
Petewawa et McKay	41	991
Petrolia	9	4357
Pickering	26	5998
Picton	29	3287
Pilkington	18	1664
Pittsburg	32	3000
Plantagenet	37	7325
Plympton	9	3929
Point Edwards	9	1882
Port Arthur	46	2698
Port Colborne	7	1154
Port Dalhousie	21	879
Port Dover	4	1213
Port Elgin	11	1659
Port Findlay	46	794
Port Hope	27	5042
Portland	31	2512
Port Perry	26	1698
Port Rowan	4	649
Port Stanley	3	616
Portsmouth	32	1974
Prescott	33	2919
Preston	20	1843
Proton	12	3297
Puslinch	18	3615
R		
Raglan et Radcliffe	41	1059
Rainham	5	2010
Rainy River	46	871
Raleigh	2	4955
Rama	26	1738
Ramsay	40	2602
Rat Portage	46	1806
Rawdon	44	3629
Reach	26	4190
Renfrew	41	2611
Richmond	30	2898
Richmond	39	447
Richmond Hill	25	743
Ridgetown	3	2254
Ridout	26	190
Robinson	46	317
Rochester	1	2806
Rockland	38	1465
Romney	2	1534
Root River et Korah	46	591
Ross	41	2402
Roxborough	35	4735
Russell	38	3918
Ryde	26	612
S		
Sabine, Airey, etc	44	143
Saltfleet	22	2765
Sandfield	46	281
Sandwich	1	7021
Sandwich	1	1352
Sarawack	12	1201
Sarnia	9	6693
Sarnia	9	2937
Saugeen	11	1813
Sault Ste. Marie	46	2414
Savanne, Ignace, etc	46	1019
Scarborough	25	4028
Scott	26	2342
Scugog	26	662
Seaforth	10	2641
Sebastopol	41	716
Seneca	5	2231
Seymour	28	3509
Sheffield	31	2355
Sheguiandah	46	421
Shelburne	12	1202
Sherbrooke	6	436
Sherbrooke	40	984
Sherwood, Richards et Burns	41	592
Simcoe	4	2674
Smith's Falls	33	3864
Smith	43	3045
Snowden	42	1014
Sombra	8	4207
Somerville	42	1940
Sophiasburg	29	2344
Storrington	32	2285
Southampton	11	1437
Southwold	3	4766
Spanish River	46	1401
Springfield	14	463
Stafford	41	1173
Stamford	7	2099
Stanhope, Sherburne, etc	42	583
Stanley	10	2470
Stayner	13	1357
ST. CATHARINES	21	9170
Stephen	14	4271
Stirling	44	850
Stisted et McMurrich	45	1372
St. Joseph	46	367
St. Mary's	17	3416
Stouffville	26	1148
Stratford	17	9501
Strathroy	14	3316
Streetsville	24	695
ST. THOMAS	3	10370
St. Vincent	12	3494
Sullivan	12	4164
Sunnidale	13	2772
Sutton	25	686
Sydenham	12	3903
Sydney	44	4152
T		
Tara	11	695
Tay	13	4714
Tecumseth	13	3865
Teeswater	11	1128
Tehkummah	46	405
Tenby Bay	46	368
Thamesville	8	798
Thedford	9	616
Thessalon	46	1160
Thorah	26	1623
Thornbury	12	902
Thorold	7	2035
Thorold	7	2315
Thurlow	44	4817
Tilbury Est	2	3033
Tilbury Centre	2	720
Tilbury Ouest	1	5100
Tilbury Centre	1	205
Tilsonburg	4	2163
Tiny	13	4784
Tiverton	11	550
Torbolton	39	1023
TORONTO	25	181220
Toronto	24	5528
Toronto	24	1247
Tossorontio	13	1870
Tottenham	13	585
Townsend	4	4291
Trenton	44	4364
Trafalgar	23	4155
Tuckersmith	10	2867
Tudor et Cashell	44	845
Turnberry	10	2452
Tuscarora	16	3228
Tyendinaga	44	5136
U		
Usborne	17	2529
Uxbridge	26	3461
Uxbridge	36	2023
V		
Vaughan	25	5294
Verulam	42	3291
Vespra	13	3022
Vienna	3	398
W		
Wainfleet	6	2945
Walkerton	11	3061
Walkerville	1	933
Wallaceburg	8	2726
Wallace	18	3239
Walpole	5	4922
Walpole Island	8	885
Walsingham	4	4785
Wardsville	14	380
Warwick	9	3644
Waterdown	22	669
Waterford	4	1212

Villes, Villages, etc.	d	Population.	Villes, Villages, etc.	d	Population.	Villes, Villages, etc.	d	Population.
Waterloo	20	7347	Williamsburg	34	4308	*Woodville*	42	323
Waterloo	20	2941	Williams	14	3576	Woolwich	20	4838
Watford	9	1299	Wilmot	20	5487	Wookwamakong	46	1191
Welland	7	2035	Willoughby	7	1099	*Wroxeter*	10	504
Wellesley	20	5609	Winchester	34	3621	*Wyoming*	9	871
Wellington	29	555	*Winchester*	34	962	**Y**		
Westmeath	41	3612	Windham	4	4252			
Weston	25	1196	**Windsor**	1	10322	Yarmouth	3	5474
Westminster	14	8506	**Wingham**	10	2167	Yonge et Escott	33	4270
West Wawanosh	10	2336	Wolfe Island	32	2003	York Est	25	6654
Whitby	26	5631	Wolford	33	2115	York Ouest	25	16604
Whitby	26	2786	Wollaston	44	771	**Z**		
Whitchurch	26	4019	*Woodbridge*	25	762			
Wiarton	11	1984	Woodhouse	4	2508	Zone	8	1401
Wilberforce et Algona Nord	41	2877	**Woodstock**	15	8612	Zorra	15	7250

Tableau V.—COMTES DU NOUVEAU-BRUNSWICK.

Nos.	Comtés et Chefs-Lieux.	Population.	Nos.	Comtés et Chefs-Lieux.	Population.	Nos.	Comtés et Chefs-Lieux.	Population.
1	Westmoreland..*Dorchester*	41478	6	Albert.....*Hopewell*	10971	11	Sunbury.....*Oromocto*	5759
2	Kent.....*Richibucto*	23845	7	St. John.....*St. John*	49574	12	York.....*Fredericton*	30979
3	Northumberland.*Newcastle*	25715	8	Charlotte.....*St. Andrews*	23752	13	Carleton.....*Woodstock*	22532
4	Gloucester.....*Bathurst*	24897	9	King's.....*Hampton*	23090	14	Victoria.....*Grand Falls*	18217
5	Restigouche....*Dalhousie*	8309	10	Queen's.....*Gagetown*	12152	15	Madawaska....*Edmunston*	

Tableau VI.—CITES, VILLES, VILLAGES DU NOUVEAU-BRUNSWICK.

Villes, Villages, etc.	d	Population.	Villes, Villages, etc.	d	Population.	Villes, Villages, etc.	d	Population.
A			Caraquet	4	4630	**F**		
			Cardwell	9	1218	**FREDERICTON**	12	6502
Aberdeen	13	1314	Carleton	2	2285	**G**		
Addington	5	2751	**Chatham**	3	5644			
Alma	6	1091	Chipman	10	1651	Gagetown	10	1029
Alnwick	3	2960	Clarendon	8	177	Gladstone	11	911
Andover	14	1242	Colborne	5	901	Glenelg	3	1382
B			Coverdale	6	1387	Gordon	14	744
			D			Grand Falls	14	1596
Bathurst	4	4815				Grand Manan	8	2397
Beresford	4	4301	Dalhousie	5	2532	Greenwich	9	819
Blackville	3	2066	Derby	3	871	**H**		
Blissfield	3	896	Dorchester	1	6357			
Blissville	11	764	Douglas	12	2880	Hammond	9	767
Botsford	1	4150	Drummond	14	2022	Hampstead	10	1130
Bright	12	1661	Dufferin	8	334	Hampton	9	1883
Brighton	13	2385	Dumbarton	8	807	Harcourt et Huskinson	2	1309
Brunswick	10	381	Dumfries	12	689	Hardwicke	3	1170
Burton	11	1454	Dundas	2	3296	Harvey	6	1614
C			Durham	5	1973	Havelock	9	2081
						Hillsborough	6	2677
Cambridge	10	1366	**E**			Hopewell	6	1780
Campobello	8	1188				**I**		
Canning	10	806	Eldon et Restigouche River	5	152			
Canterbury	12	2297	Elgin	6	2422	Inkerman	4	2008

Villes, Villages, etc.	d	Population.
J		
Johnston	10	1588
K		
Kars	9	503
Kent	13	2786
Kingsclear	12	1746
Kingston	9	1811
L		
Lancaster	7	4211
Lepreaux	8	423
Lincoln	11	840
Lorne	14	309
Ludlow	13	805
M		
Madawaska	14	1683
Manners Sutton	12	1693
Marysville	12	1339
Maugerville	11	475
Milltown	8	2146
MONCTON	1	8763
Moncton	1	5165
Musquash	7	783
N		
Nelson	3	1907
New Bandon	4	2456
Newcastle	3	4006
New Maryland	12	409
Northampton	13	1110
North Esk	3	1586
Northfield	11	602
Northlake	12	755
Norton	9	1605
P		
Peel	13	1318
Pennfield	8	1032
Perth	14	1792
Petersville	10	1514
Prince William	12	1398
Q		
Queensbury	12	1540
R		
Richmond	13	1880
Richibucto	2	3986
Rogersville	3	1379
Rothesay	9	1053
S		
Sackville	1	4982
Salisbury	1	3677
Saumarez	4	2633
Shediac	1	6216
Sheffield	11	713
Shippigan	4	3182
Simonds	13	756
Simond's	7	3066
Southampton	12	2310
South Esk	3	1045
Springfield	9	1865
St. Andrew's	8	1778
Stanley	12	2406
St. Anne	14	973
St. Basil	14	1557
Ste. Croix	8	674
St. David	8	1554
St. Francis	14	2040
St. George	8	2757
St. Hilaire	14	992
St. Isidore	4	872
St. Jacques	14	874
St. James	8	2266
ST. JOHN	7	39179
St. Leonard's	14	2393
St. Louis	2	2120
St. Martin's	7	2335
St. Mary's	2	3429
St. Mary's	12	3354
St. Patrick's	8	21
St. Stephen's	8	2680
St. Stephen's	8	708
Sussex	9	3205
U		
Upham	9	1145
Upper Mills	8	266
W		
Wakefield	13	1760
Waterborough	10	1352
Waterford	9	1177
Weldford	2	3561
Wellington	2	3861
Westfield	9	1172
West Isles	8	1644
Westmoreland	1	2168
Wickham	10	935
Wicklow	13	2240
Wilmot	13	1928
Woodstock	13	3288
Woodstock	13	1767

Tableau VII. — COMTES DE LA NOUVELLE-ECOSSE ET DE L'ILE DU PRINCE-EDOUARD.

Nos.	Comtés et Chefs-Lieux.		Population.
	Nouvelle-Ecosse.		
1	Digby	*Digby*	19896
2	Annapolis	*Kentville*	19350
3	King's	*Kentville*	22489
4	Hants	*Windsor*	22152
5	Colchester	*Truro*	27160
6	Cumberland	*Amherst*	34529
7	Yarmouth	*Yarmouth*	22218
8	Shelburne	*Shelburne*	14954
9	Queen's	*Liverpool*	10610
10	Lunenburg	*Lunenburg*	31076
11	Halifax	*Halifax*	71421
12	Guysborough	*Guy-borough*	17195
13	Richmond	*Arichat*	14400
14	Cap-Breton	*Sydney*	34223
15	Victoria	*Baddeck*	12387
16	Inverness	*Port Hood*	25779
17	Antigonish	*Antigonish*	16112
18	Pictou	*Pictou*	34541
	Ile du Prince-Edouard.		
19	King's	*Georgetown*	26634
20	Prince	*Summerside*	36471
21	Queen's	*Charlottetown*	45983

TABLEAU VIII.—CITES, VILLES, VILLAGES DE LA NOUVELLE-ECOSSE ET DE L'ILE-DU-PRINCE-EDOUARD.

VILLES, VILLAGES, ETC.	d	Population.
A		
Abercrombie	18	100
Advocate-Harbour	6	600
Amherst	6	3781
Amherst	6	100
Amherst-shore	6	100
Annapolis-Royal	2	959
Antigonish	17	6331
Arcadia	7	529
Arichat	13	876
Arichat-East	13	862
B		
Baddeck	15	1285
Bailey's-Brook	18	887
Ball's-Creek	14	1208
Barney's-River	13	1026
Barrington	8	1000
Barrington-Passage	8	625
Baie-Saint-Laurent	15	574
Bayswater	10	608
Bear-River	2	693
Belle-Isle	2	1005
Berwick	3	738
Bridgewater	10	1037
Brookfield	9	615
Brooklyn	9	614
Brooklyn	4	1040
Burlington	4	661
C		
Caledonia	12	214
Caledonia	9	1037
Canard	3	1296
Canning	3	2989
Canso	12	1024
Catalone	14	780
Centreville	3	2192
CHARLOTTETOWN	21	11373
Chester	10	950
Chéticamp	16	153
Church-Over	8	630
Clare	1	8124
Clarence	2	904
Clements	2	687
Clementsvale	2	704
Clements West	2	467
Clifton	5	1017
Conquerall	10	1418
Cow-Bay	14	2103
Country-Harbour	12	447
Crow-Harbour	12	788
Curry's-Corner	4	532
D		
Dartmouth	11	4576
Descousse	13	1000
Digby	1	2000
E		
East-Bay	14	250
F		
Falmouth	4	829
Five-Mile-River	4	380
Forks	4	921
Forks-St-Mary's	12	863
Framboise	13	656
Fraser's-Mountain et Churchville	18	1441
French-River	14	6[illegible]2
Freeport	1	701
G		
Gabarouse	14	1747
Gaspareaux	3	996
Georgetown	19	1060
Glace-Bay	14	2459
Grande-Anse	13	758
Grand-Pré	3	700
Granville-Ferry	2	905
Granville-Lower	2	923
Greenfield	9	551
Green-Harbour	8	687
Green-Hill	18	757
Guysborough	12	1546
Guysborough-Intervale	12	842
H		
HALIFAX	11	38556
Hantsport	4	915
Hawkesbury	16	658
Hopewell	18	858
I		
Isaac's-Harbour	12	400
J		
Jeddore-Oyster-Pond	11	1000
K		
Kentville	3	1686
L		
Lawrencetown-Lane	2	683
Lingan	14	1868
Liverpool	9	2465
Londonderry	5	6017
Lorway-Mines	14	1200
Louisbourg	14	1115
Lower l'Ardoise	13	858
Lunenburg	10	4894
M		
Main-à-Dieu	14	994
Maitland	4	708
Margarie	16	571
Marie Joseph	12	624
Meadowvale	2	523
Melford	12	1497
Melvern	2	687
Merigomish	18	772
Middle-River	18	801
Middle-River	15	895
Middleton	2	740
Milford	2	416
Mill-Brook	18	587
Mill-Cove	10	619
Mill-Village	9	773
Milton	9	984
Musquodoboit	11	1100
N		
New-Glasgow	18	3776
Nine-Mile-River	4	1130
Noël	4	300
North-Sydney	14	2513
O		
Oxford	6	978
P		
Parker's-Cove	2	569
Parrsboro	6	1909
Parrsboro	6	1852
Parsboro-shore	6	1232
Petit-Dégrat	13	612
Petite-Rivière	10	3415
Pictou-Island et Fishers Grant	18	577
Pictou	18	2998
Pleasant-Bay	16	235
Poplar-Grove	16	1061
Port-Clyde	8	1004
Port-George	2	684
Port-Hastings	6	1681
Port-Houde	16	1646
Port-la-Tour	8	1049
Port-Lorne	2	673
Port-Medway	9	943
Port-Mouton	9	758
Pubnico	7	1474
Pubnico-Head	7	1091
Pugwash	6	2160
R		
Rawdon-Church	4	855
Red-Islands	13	887
Ritcey's-Cove	10	1934

Villes, Villages, etc.	d	Population.
Rivière-Bourgeois	13	1120
River-Dennis	16	1089
Rivière-Hébert	6	2611
River-Inhabitants	16	1144
River-Inhabitants	13	1453
River-John	18	2114
River-Philip	6	1031
Rockville	7	701
Round-Hill	2	696
S		
Salmon-River	12	703
Sandy-Point	8	485
Scotch-Village	4	821
Selmah	4	563
Shag-Harbour	8	628
Shelburne-District	8	1299
Sherbrooke	12	1063
Shubenacadie	4	1349
Summerside	20	2882
Sydney-Town	14	2426
Sydney-Forks	14	1226
Sydney-Mines	14	2442
Somerset	3	931
South-Gut	15	643
South-Maitland	4	553
South-Rawdon et Uniacke	4	857
Springfield	2	589
Springhill	6	4813
Springhill	6	400
St-Andrews	17	4145
Ste-Croix	4	1483
Stellarton	18	2410
Stewiacke	5	3666
St-Peters	13	1299
Strathlorn	16	1515
Summerside	10	1513
T		
Tancook-Island	10	570
Tatamagouche	5	1466
Tracadie	12	440
Tracadie	17	3222
Trout-Brook	14	900
Truro	5	7480
Truro	5	5102
Tusket	7	1699
Tusket-Wedge	7	1618
Tusket-Lakes	7	323
U		
Upper l'Ardoise	13	1236
V		
Victoria	14	630
Victoria	6	843
W		
Wallace	6	1650
Walton	4	687
Waugh's River	5	1427
Wentworth	6	745
West Arichat	13	1189
Westchester	6	971
Westville	18	3152
Weymouth	1	3490
White Haven	12	1086
Whycocomagh	16	2289
Windsor	4	2837
Wolfville	3	1963
Wood's-Harbour	8	1135
Y		
Yarmouth	7	7095

Tableau IX.—DIVISIONS DE LA COLOMBIE-BRITANNIQUE, DU MANITOBA ET DES TERRITOIRES.

Nos.	Comtés.	Nos.	Circonscriptions électorales.	Nos.	Districts.
	COLOMBIE-BRITANNIQUE.		MANITOBA.		LES TERRITOIRES.
1	Cariboo	6	Lisgar	10	Alberta
2	New Westminster	7	Marquette	11	Assiniboia
3	Vancouver	8	Provencher	12	Saskatchewan
4	Victoria	9	Selkirk	13	Athabaska
5	Yale		Winnipeg	14	Non organisés

Tableau X.—CITES, VILLES, VILLAGES DU MANITOBA. VILLES DES TERRITOIRES ET DE LA COLOMBIE-BRITANNIQUE.

Villes, Villages, etc.	d	Population.
A		
Archie	7	727
Argyle	9	2272
Arthur	9	666
Assiniboia	6	1237
B		
Barleton	9	1484
Belcourt	6	1019
Birtle	7	846
Birtle	7	338
Blanchard	7	527
Boulton et Shell-River	7	439
Brandon	9	3778
Brenda	9	1016
C		
Calgary et Red-Deer	10	11199
Cartier	8	939
Clanwilliam	7	596
Cornwallis	9	1254
Cypress	7	4108
D		
Doly	9	928
Deloraine	9	1928
Derby	9	1245
De Salaberry	8	1207
Douglas	9	4467
Dufferin	9	4835

Villes, Villages, etc.	d	Population.
E		
East-Selkirk	6	350
Elm-River	7	567
Emerson	8	660
Elton	9	1534
F		
Fairford	6	1167
Franklin	8	1662
G		
Gimli	6	1641
Gladstone	7	378
Glendale	7	752
Glenwood	9	1473
H		
Hanover	8	1177
Harrison	7	437
Hespeler	8	1122
I		
Inchiquin	7	408
K		
Kildonan	6	571
L		
La Broquerie	8	330
Landsdowne	7	1037
Lorne	7	2588
Louise	7	2551
M		
Macdonald	6	383
McLeod	10	7203
Medora	7	794
Miniota	7	1068
Minnedosa	7	614
Morden	7	1176
Montcalm	8	1688
Morris	8	739
Morris	8	286
N		
Nanaimo	3	4595
Neepawa	7	774
New-WESTMINSTER	2	6678
Norfolk	7	3904
O		
Oakland	7	1456
Oak-River	7	723
Odanah	7	1074
Osprey	7	664
P		
Pipestone	7	1100
Plessis	6	1296
Portage-la-Prairie	7	3882
Portage-la-Prairi	7	3363
Prince-Albert	12	1360
R		
Rapids City	7	543
REGINA	11	1681
Rhineland	7	5093
Riding Mountain	7	976
Riverside	7	1339
Rockwood	6	2901
Rosedale	7	1698
Rossbarn	7	551
Russell	7	1407
S		
St-Andrews	6	1
St-Boniface	8	
St-Boniface	8	1
St-Clément	6	1
St-François Xavier	6	
St-Laurent et Posen	6	
St-Norbert	8	
St-Paul	6	
Ste-Anne	8	1
Selkirk	6	1
Saskatchewan	7	7
Shoal-Lake	7	1
Sifton	7	1
Springfield	6	1
T		
Taché	8	
Turtle-Mountain	7	1
V		
VANCOUVER	2	13
Varennes	6	
VICTORIA	4	16
Virden	7	
W		
Wallace	7	1
Westbourne		1
Whitehead		1
Whitewater		1
WINNIPEG	9	25
Woodlands	6	1
Woodworth	7	1
Y		
Youville	8	

ETATS-UNIS.

Etats.	Population.	Capitales.
Alabama	1,513,073	Montgomery.
Arkansas	1,128,385	Little-Rock.
Californie	1,208,002	Sacramento.
Caroline mérid.	1,151,161	Columbia.
Caroline sept	1,617,340	Raleigh.
Colorado	419,175	Denver.
Connecticut	746,261	Hartford.
Dakota mérid.	328,843	Pierre.
Dakota sept.	182,425	Bismark.
Delaware	168,471	Dover.
Floride	391,435	Talahassée.
Géorgie	1,837,366	Atlanta.
Idaho	84,250	Boisé City.
Illinois	3,826,336	Springfield.
Indiana	2,192,030	Indianapolis.
Iowa	1,911,729	Des Moines.
Kansas	1,427,085	Topeka.
Kentucky	1,858,436	Frankfort.
Louisiane	1,118,528	Bâton-Rouge.
Maine	661,061	Augusta.
Maryland	1,042,331	Annapolis.
Massachusetts	2,238,407	Boston.
Michigan	2,093,790	Lansing.
Minnesota	1,301,017	St-Paul.
Mississipi	1,289,687	Jackson.
Missouri	2,679,080	Jefferson.
Montana	132,169	Helena.
Nebraska	1,058,793	Lincoln.
Nevada	45,327	Carson.
New-Hampshire	376,527	Concord.
New-Jersey	1,444,017	Trenton.
New-York	5,997,934	Albany.
Ohio	3,672,719	Columbus.
Orégon	313,490	Salem.
Pensylvanie	5,258,074	Harrisburg.
Rhode-Island	345,343	Newport e Providen
Tennessée	1,767,723	Nashville.
Texas	2,235,220	Austin.
Vermont	332,205	Montpelli
Virginie	1,655,911	Richmond.
Virginie occid.	762,448	Charlesto
Washington	349,316	Olympia.
Wisconsin	1,686,697	Madison.
Wyoming	60,589	Cheyenne
TERRITOIRES.		
Alaska	30,329	Sitka.
Arizona	59,691	Phœnix.
Indien	120,000	(non orga
Nouv.-Mexique	153,86	Santa-Fé.
Oklahoma	61,801	Guthrie.
Utah	207,908	Salt-Lake
Dist de Colombie	230,796	Washing